Download More Papers From www.GovtJobsAlert.In

Click to Print logout Challenges

Staff Selection Commission
(Government Of India)

QID : 1 - Select the related word/letters/number from the given alternatives.

Zoology : Animals : : Virology : ?

दिए गए विकल्पों में से संबंधित शब्द/अक्षर/संख्या को चुनिए।

जन्तु शास्त्र : जन्तु : : विषाणु विज्ञान : ?

Options:
1) Mitochondria
माइटोकॉंडरिया
2) Virus
विषाणु
3) Protozoa
प्रोटोजोआ
4) Bacteria
जीवाणु

Correct Answer: Virus
विषाणु

Candidate Answer: Virus
विषाणु

QID : 2 - Select the related word/letters/number from the given alternatives.

PLUMBER : REBMULP : : ? : LABREV

दिए गए विकल्पों में से संबंधित शब्द/अक्षर/संख्या को चुनिए।

PLUMBER : REBMULP : : ? : LABREV

Options:
1) VEBRAL

2) VERBLE

3) VERBAL

4) VABREL

Correct Answer: VERBAL

Candidate Answer: VERBAL

QID : 3 - Select the related word/letters/number from the given alternatives.

Hi : Sr : : Fg : ?

दिए गए विकल्पों में से संबंधित शब्द/अक्षर/संख्या को चुनिए।

Hi : Sr : : Fg : ?

Options:
1) Hi

2) dC

3) Ut

4) Jk

Correct Answer: Ut

Candidate Answer: Ut

GovtJobsAlert.In

Download More Papers From www.GovtJobsAlert.In

Download More Papers From www.GovtJobsAlert.In

QID : 4 - Select the related word/letters/number from the given alternatives.

11 : 132 : : 12 : ?

दिए गए विकल्पों में से संबंधित शब्द/अक्षर/संख्या को चुनिए।

11 : 132 : : 12 : ?

Options:
1) 130

2) 160

3) 156

4) 158

Correct Answer: 156
Candidate Answer: 156

QID : 5 - Findout the odd word/letters/number/number pair from the given alternatives.

दिए गए विकल्पों में से विषम शब्द/अक्षर/संख्या/संख्या युग्म को चुनिए।

Options:
1) Condemn
निंदा
2) Criticize
आलोचना
3) Reproach
तिरस्कार
4) Praise
प्रशंसा

Correct Answer: Praise
प्रशंसा

Candidate Answer: Praise
प्रशंसा

QID : 6 - Findout the odd word/letters/number/number pair from the given alternatives.

दिए गए विकल्पों में से विषम शब्द/अक्षर/संख्या/संख्या युग्म को चुनिए।

Options:
1) BC

2) IF

3) CL

4) GH

Correct Answer: BC
Candidate Answer: BC

QID : 7 - Findout the odd word/letters/number/number pair from the given alternatives.

दिए गए विकल्पों में से विषम शब्द/अक्षर/संख्या/संख्या युग्म को चुनिए।

Options:
1) 2714

2) 8432

3) 6742

4) 7858

Correct Answer: 7858
Candidate Answer: 7858

QID : 8 - Findout the odd word/letters/number/number pair from the given alternatives.

दिए गए विकल्पों में से विषम शब्द/अक्षर/संख्या/संख्या युग्म को चुनिए।

GovtJobsAlert.In

Download More Papers From www.GovtJobsAlert.In

Download More Papers From www.GovtJobsAlert.In

Options:
1) 687

2) 777

3) 993

4) 745
Correct Answer: 745
Candidate Answer: 745

QID : 9 - A series is given with one term missing. Choose the correct alternative from the given ones that will complete the series.

?, flight lieutenant, squadron leader, wing commander

एक अनुक्रम दिया गया है, जिसमें से एक पद लुप्त है । दिए गए विकल्पों में से वह सही विकल्प चुनिए जो अनुक्रम को पूरा करे।

?, फ्लाइट लेफ्टिनेंट, स्क्वाड्रन लीडर, विंग कमांडर
Options:
1) Flying officer
फ्लाइंग ऑफिसर
2) Air marshal
एयर मार्शल
3) Air vice-marshal
एयर वाइस-मार्शल
4) Group captain
ग्रुप कैप्टन
Correct Answer: Flying officer
फ्लाइंग ऑफिसर
Candidate Answer: Flying officer
फ्लाइंग ऑफिसर

QID : 10 - A series is given with one term missing. Choose the correct alternative from the given ones that will complete the series.

12, 24, 72, 288, ?

एक अनुक्रम दिया गया है, जिसमें से एक पद लुप्त है । दिए गए विकल्पों में से वह सही विकल्प चुनिए जो अनुक्रम को पूरा करे।

12, 24, 72, 288, ?
Options:
1) 1440

2) 3250

3) 3025

4) 2025
Correct Answer: 1440
Candidate Answer: 1440

GovtJobsAlert.In

Download More Papers From www.GovtJobsAlert.In

Download More Papers From www.GovtJobsAlert.In

QID : 11 - In the following question, two statements are given each followed by two conclusions I and II. You have to consider the statements to be true even if they seem to be at variance from commonly known facts. You have to decide which of the given conclusions, if any, follows from the given statements.

Statement:
(I) Major companies are nowadays surviving because of the strong supply chain system.
(II) Supply chain comprises of logistics, retailers and distributers.

Conclusions:
(I) Retailers play most important role because they interact with customers on first hand.
(II) If an organization has strong logistics, then product can easily be available to the customers in such an era of competition.

निम्नलिखित प्रश्न में, दो कथन दिए गए हैं जिनके आगे दो निष्कर्ष I और II निकाले गए हैं। आपको मानना है कि कथन सत्य है चाहे वे सामान्यतः ज्ञात तथ्यों से भिन्न प्रतीत होते हों। आपको निर्णय करना है कि दिए गए निष्कर्षों में से कौन सा/कौन से निश्चित रूप से कथनों द्वारा सही निकाला जा सकता है/सकते हैं, यदि कोई हो।

कथनः
(I) वर्तमान समय में प्रमुख कंपनियां अपनी मजबूत आपूर्ति श्रृंखला प्रणाली के कारण टिकी हुई हैं।
(II) आपूर्ति की श्रृंखला में रसद, खुदरा विक्रेता और वितरक शामिल हैं।

निष्कर्षः
(I) खुदरा विक्रेता महत्वपूर्ण भूमिका निभाते हैं क्योंकि ग्राहक से उनका सीधा वास्ता होता है।
(II) अगर किसी संगठन के पास मजबूत रसद है तो प्रतियोगिता के युग में ग्राहक के लिए उत्पाद आसानी से उपलब्ध हो सकता है।

Options:
1) Only conclusion II follows
केवल निष्कर्ष II लागू होता है।
2) Conclusion I and II both follow
निष्कर्ष I और II दोनों लागू होता है।
3) Neither I nor II follow
न निष्कर्ष I न ही II लागू होता है।
4) Only conclusion I follows
केवल निष्कर्ष I लागू होता है।

Correct Answer: Only conclusion II follows
केवल निष्कर्ष II लागू होता है।

Candidate Answer: Conclusion I and II both follow
निष्कर्ष I और II दोनों लागू होता है।

QID : 12 - A series is given with one term missing. Choose the correct alternative from the given ones that will complete the series.

FU, GT, HS, IR, ?

एक अनुक्रम दिया गया है, जिसमें से एक पद लुप्त है । दिए गए विकल्पों में से वह सही विकल्प चुनिए जो अनुक्रम को पूरा करे।

FU, GT, HS, IR, ?
Options:
1) JQ

2) KO

3) MN

4) EF
Correct Answer: JQ
Candidate Answer: JQ

QID : 13 - A series is given with one term missing. Choose the correct alternative from the given ones that will complete the series.

OP, RS, VW, ? , GH

एक अनुक्रम दिया गया है, जिसमें से एक पद लुप्त है । दिए गए विकल्पों में से वह सही विकल्प चुनिए जो अनुक्रम को पूरा करे।

OP, RS, VW, ? , GH
Options:
1) ZA

2) AB

3) CD

4) GE
Correct Answer: AB
Candidate Answer: AB

Download More Papers From www.GovtJobsAlert.In

Download More Papers From www.GovtJobsAlert.In

QID : 14 - Ankit scored 32, 45 and 49 marks in Physics, English and Philosophy respectively. The maximum marks in each subject is 50. Determine his overall percentage for the three subjects.

अंकित भौतिकी, अंग्रेजी और दर्शन शास्त्र में क्रमशः 32, 45 और 49 अंक प्राप्त करता है। प्रत्येक विषय में अधिकतम अंक 50 है। तीन विषयों में उसको प्राप्त अंकों का समग्र प्रतिशत ज्ञात करें?

Options:
1) 58

2) 50

3) 42

4) 84
Correct Answer: 84
Candidate Answer: 84

QID : 15 - Arrange the given words in the sequence in which they occur in the dictionary.

i. Premanifest
ii. Premalignant
iii. Premake
iv. Premarital

निम्नलिखित शब्दों को शब्दकोश में आने वाले क्रम के अनुसार लिखें।

i. Premanifest
ii. Premalignant
iii. Premake
iv. Premarital

Options:
1) ii, iii, iv, i
2) iii, ii, i, iv
3) iv, i, ii, iii
4) i, ii, iii, iv
Correct Answer: iii, ii, i, iv
Candidate Answer: iii, ii, i, iv

QID : 16 - In a certain code language, "MOBILE" is written as "OQDKNG". How is "RANGER" written in that code language?

एक विशिष्ट कोड भाषा में "MOBILE" को "OQDKNG" लिखा जाता है। इस कोड भाषा में "RANGER" को किस प्रकार लिखा जाएगा?

Options:
1) TCPIGT

2) TCPGIT

3) TPCIGT

4) GTTCPT
Correct Answer: TCPIGT
Candidate Answer: TCPIGT

QID : 17 -
In the following question, select the missing number from the given series.
निम्नलिखित प्रश्न में दिए गए विकल्पों में से लुप्त अंक ज्ञात कीजिए।

16	49	64
36	25	6
38	16	?

Options:
1) 24

2) 32

3) 20

4) 25
Correct Answer: 20
Candidate Answer: [NOT ANSWERED]

GovtJobsAlert.In
Download More Papers From www.GovtJobsAlert.In

Download More Papers From www.GovtJobsAlert.In

QID : 18 - If "A" denotes "multiplied by", "C" denotes "subtracted from", "D" denotes "added to" and "B" denotes "divided by", then

76 C 54 D 210 B 3 A 15 = ?

यदि "A" का अर्थ "गुणा" है, "C" का अर्थ "घटाना" है, "D" का अर्थ "जोड़" है और "B" का अर्थ "भाग" है, तो

76 C 54 D 210 B 3 A 15 = ?

Options:
1) 1072
2) 1050
3) 1830
4) 1431

Correct Answer: 1072

Candidate Answer: 1072

QID : 19 - Which set of letters when sequentially placed at the gaps in the given letter series shall complete it?

j_l_jk_m_kl_

अक्षरों का कौन सा समूह खाली स्थानों पर क्रमवार रखने से दी गई अक्षर श्रृंखला को पूरा करेगा

j_l_jk_m_kl_

Options:
1) jkljm

2) kmjjj

3) kmljm

4) mkjlm

Correct Answer: kmljm

Candidate Answer: kmljm

QID : 20 - Karan travels 20 km towards the south, and then takes a left, and travels 35 km further. Again, he takes a left and travels 20 km further. How far is he from his original position?

करण 20 कि.मी. दक्षिण में जाता है, और फिर बाएं मुड़कर 35 कि.मी. और जाता है। फिर दोबारा बाएं मुड़ता है और आगे 20 कि.मी. जाता है। वह अपने मूल स्थान से कितनी दूरी पर है?

Options:
1) 35 km
35 कि.मी.
2) 25 km
25 कि.मी.
3) 30 km
30 कि.मी.
4) 40 km
40 कि.मी.

Correct Answer: 35 km
35 कि.मी.

Candidate Answer: 35 km
35 कि.मी.

GovtJobsAlert.In

Download More Papers From www.GovtJobsAlert.In

Download More Papers From www.GovtJobsAlert.In

QID : 21 -

A word is represented by only one set of numbers as given in any one of the alternatives. The sets of numbers given in the alternatives are represented by two classes of alphabets as shown in the given two matrices. The columns and rows of Matrix-I are numbered from 0 to 4 and that of Matrix-II are numbered from 5 to 9. A letter from these matrices can be represented first by its row and next by its column, for example, 'N' can be represented by 21, 67 etc., and 'R' can be represented by 66, 57 etc. Similarly, you have to identify the set for the word 'GRIM'.

एक शब्द केवल एक संख्या-समूह द्वारा दर्शाया गया है, जैसा कि विकल्पों में से किसी एक में दिया गया है। विकल्पों में दिए गए संख्या-समूह अक्षरों के दो वर्गों द्वारा दर्शाए गए हैं, जैसा कि नीचे दिए गए दो आव्यूहों में है। आव्यूह-I के स्तम्भ और पंक्ति की संख्या 0 से 4 में दी गईं है और आव्यूह-II की 5 से 9 में दी गईं है। इन आव्यूहों से एक अक्षर को पहले उसकी पंक्ति और बाद में स्तम्भ संख्या द्वारा दर्शाया जा सकता है। उदहारण के लिए 'N' को 21, 67 आदि द्वारा दर्शाया जा सकता है तथा 'R' को 66, 57 आदि द्वारा दर्शाया जा सकता है। इसी तरह से आपको प्रश्न में दिए शब्द 'GRIM' के लिए समूह को पहचानना है।

Matrix-I
आव्यूह – I

	0	1	2	3	4
0	Q	R	A	N	B
1	W	I	N	H	L
2	E	N	S	G	O
3	N	Y	G	O	M
4	M	T	O	F	A

Matrix-II
आव्यूह – II

	5	6	7	8	9
5	Z	M	R	I	Q
6	X	R	N	W	A
7	C	S	Y	E	U
8	S	N	T	M	S
9	G	B	E	R	U

Options:
1) 23, 57, 11, 88

2) 32, 66, 58, 67

3) 95, 02, 11, 86

4) 23, 11, 57, 88
Correct Answer: 23, 57, 11, 88
Candidate Answer: 23, 57, 11, 88

QID : 22 - Introducing a boy, Amarjeet says, "He is the son of the daughter of my father." How is boy related to the Amarjeet?

एक लड़के का परिचय कराते हुए अमरजीत कहता है, "वह मेरे पिता की बेटी का बेटा है।" वह लड़का अमरजीत से कैसे संबंधित है?

Options:
1) Nephew
भांजा
2) Maternal uncle
मामा
3) Son
बेटा
4) Cousin
चचेरा भाई

Correct Answer: Nephew
भांजा

Candidate Answer: Nephew
भांजा

GovtJobsAlert.In

Download More Papers From www.GovtJobsAlert.In

Download More Papers From www.GovtJobsAlert.In

QID : 23 -

If a mirror is placed on the line MN, then which of the answer figures is the right image of the given figure?

यदि एक दर्पण को MN रेखा पर रखा जाए, तो दी गई उत्तर आकृतियों में से कौन सी आकृति प्रश्न आकृति की सही प्रतिबिम्ब होगी?

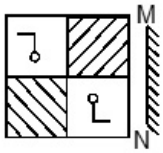

Options:

1)

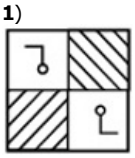

2)

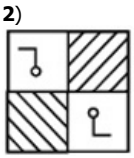

3)

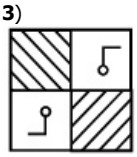

4)

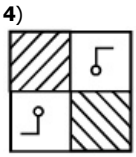

Correct Answer:



Candidate Answer:

QID : 24 - Identify the diagram that best represents the relationship among the given classes.

Human being, Doctors, Post-graduates

वह आरेख चुनिए जो नीचे दिए गए वर्गों के बीच के संबंध का सही निरूपण करता है।

मनुष्य, चिकित्सक, स्नातकोत्तर

GovtJobsAlert.In

Download More Papers From www.GovtJobsAlert.In

Download More Papers From www.GovtJobsAlert.In

Options:

1)

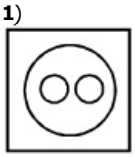

2)

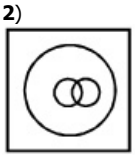

3)

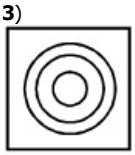

4)

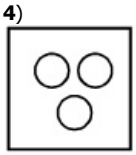

Correct Answer:

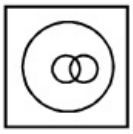

Candidate Answer:

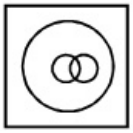

QID : 25 -

A piece of paper is folded and punched as shown below in the question figures. From the given answer figures, indicate how it will appear when opened.

नीचे के प्रश्न आकृतियों में दर्शाये अनुसार कागज को मोड़कर छेदने तथा खोलने के बाद वह किस उत्तर आकृति जैसा दिखाई देगा

GovtJobsAlert.In

Download More Papers From www.GovtJobsAlert.In

Download More Papers From www.GovtJobsAlert.In

Options:

1)

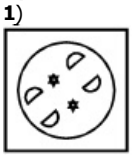

2)

3)

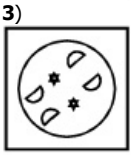

4)

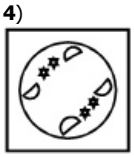

Correct Answer:

Candidate Answer:

QID : 26 - Keoladeo National Park is in _____.

केवलादेव राष्ट्रीय उद्यान _____ में स्थित है।

Options:

1) Karnataka
कर्नाटक

2) Madhya Pradesh
मध्यप्रदेश

3) Maharashtra
महाराष्ट्र

4) Rajasthan
राजस्थान

Correct Answer: Rajasthan
राजस्थान

Candidate Answer: [NOT ANSWERED]

QID : 27 - Which of these is the only Bollywood actor who has won National Film Award for the category of Best Actor?

इनमें से कौन वह बॉलीवुड अभिनेता है, जिसने सर्वश्रेष्ठ अभिनेता के लिये राष्ट्रीय फिल्म अवॉर्ड जीता है?

Options:

1) Aamir Khan
आमिर खान

2) Salman Khan
सलमान खान

3) Shahrukh Khan
शाहरुख़ खान

4) Saif Ali Khan
सैफ अली खान

Correct Answer: Saif Ali Khan
सैफ अली खान

Candidate Answer: Shahrukh Khan
शाहरुख़ खान

GovtJobsAlert.In
Download More Papers From www.GovtJobsAlert.In

Download More Papers From www.GovtJobsAlert.In

QID : 28 - Which drug is used to cure Incontinence?

असंयम के इलाज के लिए किस दवा का प्रयोग किया जाता है?

Options:
1) Oxybutynin
ऑक्सीब्यूटीनिन
2) Ranitidine
रेनीटाईडीन
3) Azithromycin
एजिथ्रोमायसिन
4) Levothyroxine
लिवोथाइरोक्सिन

Correct Answer: Oxybutynin
ऑक्सीब्यूटीनिन

Candidate Answer: [NOT ANSWERED]

QID : 29 - In which part of the cell are proteins made?

कोशिका के किस हिस्से में प्रोटीन बनाया जाता है?

Options:
1) reticulum
रेटिकुलम
2) Golgi apparatus
गोल्जी एपेरेटस
3) ribosomes
रिबोसोम्स
4) lysosome
लायसोसोम

Correct Answer: ribosomes
रिबोसोम्स

Candidate Answer: ribosomes
रिबोसोम्स

QID : 30 - Polio is a disease caused by which of the following?

निम्नलिखित में से पोलियो की बीमारी होने का कारण क्या है?

Options:
1) Bacteria
बैक्टीरिया
2) Mosquito
मच्छर
3) Virus
वायरस
4) Cockroach
तिलचट्टे

Correct Answer: Virus
वायरस

Candidate Answer: Virus
वायरस

QID : 31 - Chemical formula of Ammonia is _____.

अमोनिया का रासायनिक सूत्र _____ है।

Options:
1) PH_3

2) NO_2

3) AlN

4) NH_3

Correct Answer: NH_3

Candidate Answer: NH_3

GovtJobsAlert.In

Download More Papers From www.GovtJobsAlert.In

Download More Papers From www.GovtJobsAlert.In

QID : 32 - Which of the following elements has the lowest melting point?

निम्नलिखित तत्वों में से किसका गलनांक सबसे कम है?

Options:
1) Oxygen
ऑक्सीजन
2) Platinum
प्लैटिनम
3) Sodium
सोडियम
4) Tin
टिन

Correct Answer: Oxygen
ऑक्सीजन

Candidate Answer: Sodium
सोडियम

QID : 33 - If price of an article decreases from Rs 600 to Rs 500, when quantity demanded increases from 10000 units to 12000 units. Find point elasticity of demand?

यदि एक वस्तु की मात्रा माँग 10000 इकाईयों से बढ़कर 12000 इकाईयों तक पहुँचने पर उसकी कीमत 600 रु से घटकर 500 रु हो जाती है, तो माँग का लोच बिंदु निकालें?

Options:
1) -1.2

2) 1.2

3) -1.5

4) 1.5

Correct Answer: -1.2

Candidate Answer: 1.5

QID : 34 - The market for sugar is in equilibrium. If the supply of sugar increases, the equilibrium price of sugar will _____ and the equilibrium quantity will _____.

शक्कर का बाजार संतुलन में है। यदि शक्कर की आपूर्ति बढ़ती है, तो शक्कर की संतुलन कीमत _____ और संतुलन मात्रा _____।

Options:
1) increase; increase
बढ़ेगी; बढ़ेगी
2) decrease; decrease
घटेगी; घटेगी
3) increase; decrease
बढ़ेगी; घटेगी
4) decrease; increase
घटेगी; बढ़ेगी

Correct Answer: decrease; increase
घटेगी; बढ़ेगी

Candidate Answer: decrease; increase
घटेगी; बढ़ेगी

QID : 35 - Which of the following is a greenhouse gas or a gas which can deplete the ozone layer?

इनमें से कौन सी एक ग्रीनहाउस गैस या एक ऐसी गैस है, जो ओजोन परत को क्षति पहुंचा सकती है?

Options:
1) BCl_3

2) $Ni(CO)_4$

3) CH_3OH

4) $CClF_3$

Correct Answer: $CClF_3$

Candidate Answer: CH_3OH

QID : 36 - Pentlandite is an ore/mineral of _____.

पेंटालैंडाईट _____ का एक अयस्क/खनिज है।

Download More Papers From www.GovtJobsAlert.In

Download More Papers From www.GovtJobsAlert.In

Options:
1) Titanium
टाइटेनियम
2) Nickel
निकल
3) Uranium
युरेनियम
4) Zinc
जिंक

Correct Answer: Nickel
निकल

Candidate Answer: [NOT ANSWERED]

QID : 37 - Who was the first man to go to space?

अन्तरिक्ष में जाने वाला प्रथम व्यक्ति कौन था?

Options:
1) Yuri Gagarin
युरी गागरिन
2) Yuri Rontgen
यूरी रौंटजेन
3) Yuris Cui
युरिस कुई
4) Yuris Mahatinn
युरिस महातिन

Correct Answer: Yuri Gagarin
युरी गागरिन

Candidate Answer: Yuri Gagarin
युरी गागरिन

QID : 38 - What is the capital of Italy?

इटली की राजधानी क्या है?

Options:
1) Tashkent
ताशकंद
2) Rome
रोम
3) Wellington
वेलिंगटन
4) Oslo
ओस्लो

Correct Answer: Rome
रोम

Candidate Answer: Rome
रोम

QID : 39 - Nathu La pass is located in _____.

नाथू ला दर्रा _____ में स्थित है।

Options:
1) Pakistan
पाकिस्तान
2) Nepal
नेपाल
3) Bhutan
भूटान
4) India
इंडिया

Correct Answer: India
इंडिया

Candidate Answer: India
इंडिया

GovtJobsAlert.In

Download More Papers From www.GovtJobsAlert.In

Download More Papers From www.GovtJobsAlert.In

QID : 40 - Which of these countries got Independence from United Kingdom?

इन देशों में से किसे यूनाईटेड किंगडम से आजादी मिली?

Options:
1) Uzbekistan
उज्बेकिस्तान
2) United States
यूनाईटेड स्टेट्स
3) Venezuela
वेनेजुएला
4) South Korea
दक्षिण कोरिया

Correct Answer: United States
यूनाईटेड स्टेट्स

Candidate Answer: Venezuela
वेनेजुएला

QID : 41 - The decision to effect the Partition of Bengal was announced in 1905 by?

सन् 1905 में बंगाल के विभाजन को लागू करने का निर्णय किसके द्वारा लिया गया था?

Options:
1) Lord William Bentinck
लॉर्ड विलियम बेन्टिक
2) Lord Mountbatten
लॉर्ड माउंटबैटन
3) Warren Hastings
वैरन हेस्टिंग
4) Lord Curzon
लॉर्ड कर्जन

Correct Answer: Lord Curzon
लॉर्ड कर्जन

Candidate Answer: Warren Hastings
वैरन हेस्टिंग

QID : 42 - Inventor of Instant Noodles was a citizen of which country?

इंस्टंट नूडल्स का अविष्कारक किस देश का नागरिक था?

Options:
1) China
चीन
2) South Korea
दक्षिण कोरिया
3) Japan
जापान
4) North Korea
उत्तरी कोरिया

Correct Answer: Japan
जापान

Candidate Answer: [NOT ANSWERED]

QID : 43 - Find the power of a convex lens if the image formed is at a distance of 20 cm from the lens when the object is placed on the other side of the lens at 25 cm from the optical centre?

एक उत्तल लेंस की शक्ति का पता लगाएं, यदि प्रतिबिंब लेंस से 20 से.मी. की दूरी पर होता है, जब वस्तु को लेंस के दूसरे पक्ष पर ऑप्टिकल केंद्र से 25 से.मी. की दूरी पर रखा गया है?

Options:
1) 1 diopters
1 डायोप्टर
2) -9 diopters
-9 डायोप्टर
3) 9 diopters
9 डायोप्टर
4) -1 diopters
-1 डायोप्टर

Correct Answer: 9 diopters
9 डायोप्टर

GovtJobsAlert.In

Download More Papers From www.GovtJobsAlert.In

Download More Papers From www.GovtJobsAlert.In

Candidate Answer: [NOT ANSWERED]

QID : 44 - What is the unit of the physical quantity "Capacitance"?

भौतिक मात्रा "धारिता (कैपसिटेंस)" की इकाई क्या है?

Options:
1) weber
वेबर
2) farad
फैरेड़
3) tesla
टेस्ला
4) ohm
ओम

Correct Answer: farad
फैरेड़

Candidate Answer: farad
फैरेड़

QID : 45 - Parliament conducts _____ sessions each year.

संसद प्रत्येक वर्ष _____ सत्र आयोजित करती है।

Options:
1) 1

2) 2

3) 3

4) 4

Correct Answer: 3
Candidate Answer: 3

QID : 46 - Who is the Founder of International Premier Tennis League?

अंतर्राष्ट्रीय प्रीमियर टेनिस लीग के संस्थापक कौन है?

Options:
1) Leander Paes
लिएंडर पेस
2) Roger Federer
रोजर फेडरर
3) Martina Navratilova
मार्टिना नवरातिलोवा
4) Mahesh Bhupathi
महेश भूपति

Correct Answer: Mahesh Bhupathi
महेश भूपति

Candidate Answer: Leander Paes
लिएंडर पेस

QID : 47 - Who is the author of the book - "The daughter of the east"?

"द डॉटर ऑफ़ ईस्ट " के लेखक कौन हैं?

Options:
1) Taslima Nasreen
तस्लिमा नसरीन
2) Benazir Bhutto
बेनजीर भुट्टो
3) Chandrika Bhutani
चंद्रिका भूटानी
4) Sharmila Tagore
शर्मिला टैगोर

Correct Answer: Benazir Bhutto
बेनजीर भुट्टो

Candidate Answer: Sharmila Tagore
शर्मिला टैगोर

Download More Papers From www.GovtJobsAlert.In

Download More Papers From www.GovtJobsAlert.In

QID : 48 - Which company developed 'Hack' Programming Language?

'हैक' प्रोग्रामिंग भाषा को किस कंपनी ने विकसित किया था?

Options:
1) Google
गूगल
2) Microsoft
माइक्रोसॉफ्ट
3) Facebook
फेसबुक
4) Apple
एप्पल

Correct Answer: Facebook
फेसबुक

Candidate Answer: Microsoft
माइक्रोसॉफ्ट

QID : 49 - According to the Hornbostel–Sachs system of Indian Musical Instruments, Ghungroo can be classified as

हॉर्नबॉस्टल-सैक्स प्रणाली के अनुसार - भारतीय संगीत वाद्ययंत्र , घुंघरू ..... के रूप में वर्गीकृत किया जा सकता है।

Options:
1) Chordophones
कॉर्डोफोन्स
2) Aerophones
एरोफोन्स
3) Membranophones
मेंमब्रानोफोन्स
4) Idiophones
आइडियोफोन्स

Correct Answer: Idiophones
आइडियोफोन्स

Candidate Answer: [NOT ANSWERED]

QID : 50 - What is the minimum age to become the Prime Minister of India if he or she is a member of Rajya Sabha?

किसी राज्यसभा सदस्य के लिए भारत का प्रधानमंत्री बनने की न्यूनतम उम्र क्या है?

Options:
1) 18

2) 25

3) 30

4) 35

Correct Answer: 30
Candidate Answer: 30

QID : 51 - Factorise $x^2 + 3x - 18$

$x^2 + 3x - 18$ को गुणनखंडों में विभक्त करें।

Options:
1) (x+18)(x-1)

2) (x-1)(x+18)

3) (x+6)(x-3)

4) (x-6)(x+3)

Correct Answer: (x+6)(x-3)
Candidate Answer: (x+6)(x-3)

QID : 52 - Rohit walks at 17 km/hr and Ruchira cycles at 22 km/hr towards each other. What was the distance between them when they started if they meet after 44 minutes?

रोहित 17 कि.मी./घंटा की गति से चल कर और रुचिरा 22 कि.मी./घंटा की गति से साइकिल चलाते हुए एक दूसरे की तरफ आते हैं। यदि वे 44 मिनट के बाद मिलते है, तो शुरुआत में उनके बीच कितनी दूरी थी?

Download More Papers From www.GovtJobsAlert.In

Download More Papers From www.GovtJobsAlert.In

Options:
1) 42.9 km
42.9 कि.मी.
2) 35.8 km
35.8 कि.मी.
3) 21.5 km
21.5 कि.मी.
4) 28.6 km
28.6 कि.मी.

Correct Answer: 28.6 km
28.6 कि.मी.

Candidate Answer: 28.6 km
28.6 कि.मी.

QID : 53 - If sum of the roots of a quadratic equation is -7 and product of the roots is 12. Find the quadratic equation.

यदि एक द्विघात समीकरण के मूलों का योग -7 है और मूलों का गुणनफल 12 है, तो उस द्विघात समीकरण को ज्ञात करें।

Options:
1) $x^2 + 7x + 12 = 0$

2) $x^2 - 7x + 12 = 0$

3) $x^2 - 7x - 12 = 0$

4) $x^2 + 7x - 12 = 0$

Correct Answer: $x^2 + 7x + 12 = 0$

Candidate Answer: $x^2 + 7x + 12 = 0$

QID : 54 - 20% discount is offered on an item. By applying a promo code the customer wins 10% cash back. What is the effective discount?

किसी वस्तु पर 20% छूट की पेशकश की गई है। एक प्रोमो कोड लागू करके ग्राहक 10% नकद वापस जीतता है। उसको मिली प्रभावी छूट क्या है?

Options:
1) 30.8 percent
30.8 प्रतिशत
2) 30 percent
30 प्रतिशत
3) 12 percent
12 प्रतिशत
4) 28 percent
28 प्रतिशत

Correct Answer: 28 percent
28 प्रतिशत

Candidate Answer: 28 percent
28 प्रतिशत

QID : 55 - Reduce 2530/1430 to lowest terms.

2530/1430 को घटाकर न्यूनतम पद तक लेकर जाए।

Options:
1) 47/17

2) 23/13

3) 47/19

4) 29/17

Correct Answer: 23/13

Candidate Answer: 23/13

QID : 56 - If $5x - 3 \geq 3 + x/2$ and $4x - 2 \leq 6 + x$; then x can take which of the following values?

यदि $5x - 3 \geq 3 + x/2$ और $4x - 2 \leq 6 + x$; फिर x का क्या मान है?

GovtJobsAlert.In

Download More Papers From www.GovtJobsAlert.In

Download More Papers From www.GovtJobsAlert.In

Options:
1) 1

2) 2

3) -1

4) -2
Correct Answer: 2
Candidate Answer: 2

QID : 57 - The first and last terms of an arithmetic progression are 32 and -43. If the sum of the series is -88, then it has how many terms?

एक समांतर श्रेणी का पहला और आखिरी पद 32 और -43 हैं। यदि श्रृंखला का योग -88 है, तो इसमें कितने पद हैं?

Options:
1) 16

2) 15

3) 17

4) 14
Correct Answer: 16
Candidate Answer: [NOT ANSWERED]

QID : 58 - The difference between simple and compound interests compounded annually on a certain sum of money for 2 years at 18% per annum is Rs 81. The sum is ____.

एक निश्चित राशि पर 2 वर्षों के लिए 18% वार्षिक दर से वार्षिक रूप से संयोजित होने वाले साधारण ब्याज और चक्रवृद्धि ब्याज में अंतर 81 रु है। वह राशि _____ है।

Options:
1) Rs 2500
2500 रु
2) Rs 5000
5000 रु
3) Rs 10000
10000 रु
4) Rs 7500
7500 रु
Correct Answer: Rs 2500
2500 रु
Candidate Answer: Rs 2500
2500 रु

QID : 59 - In what ratio is the segment joining (12,-1) and (-3,4) divided by the Y-axis?

बिंदु (12, -1) और (-3,4) के बीच का रेखाखंड Y-अक्ष से किस अनुपात में विभाजित होता है?

Options:
1) 4:1

2) 1:4

3) 4:3

4) 3:4
Correct Answer: 4:1
Candidate Answer: [NOT ANSWERED]

QID : 60 - The line passing through (4,3) and (y,0) is parallel to the line passing through (-1,-2) and (3,0). Find y?

बिंदु (4,3) और (y, 0) से गुजरने वाली रेखा (-1, -2) और (3,0) से गुजरने वाली रेखा से समानांतर है। y का मान ज्ञात करें।

Options:
1) -1

2) -2

3) 2

4) -5
Correct Answer: -2
Candidate Answer: -2

GovtJobsAlert.In

Download More Papers From www.GovtJobsAlert.In

Download More Papers From www.GovtJobsAlert.In

QID : 61 - A bag has Rs 20 in the form of 1-rupee, 50-paise and 10-paise coins in the ratio of 2:3:5. Find the number of 50-paise coins.

एक बैग में 2:3:5 के अनुपात में 1-रु, 50-पैसे और 10-पैसे के रूप में 20 रु हैं। 50-पैसे के सिक्कों की संख्या पता करें।

Options:
1) 25

2) 10

3) 15

4) 5
Correct Answer: 15
Candidate Answer: 15

QID : 62 - In a class of 60 students there are 33 girls. The average weight of these girls is 62 Kg and average weight of the full class is 66.5 kg. What is the average weight of the boys of the class?

60 छात्रों की एक कक्षा में 33 लड़कियाँ हैं। इन लड़कियों का औसत वजन 62 कि.ग्रा. है और पूर्ण कक्षा का औसत वजन 66.5 कि.ग्रा. है। कक्षा के लड़कों का औसत वजन क्या है?

Options:
1) 72 kg
72 कि.ग्रा.
2) 71 kg
71 कि.ग्रा.
3) 70 kg
70 कि.ग्रा.
4) 73 kg
73 कि.ग्रा.

Correct Answer: 72 kg
72 कि.ग्रा.

Candidate Answer: 72 kg
72 कि.ग्रा.

QID : 63 - When a number is increased by 32, it becomes 116% of itself. What is the number?

जब किसी संख्या में 32 जोडा जाता है, तो वह अपने आप की 116% हो जाती है। वह संख्या क्या है?

Options:
1) 384
2) 480
3) 200
4) 288
Correct Answer: 200
Candidate Answer: 200

QID : 64 - If the sum of the measures of all the interior angles of polygon is 1800°, find the number of sides of the polygon?

यदि बहुभुज के सभी आंतरिक कोणों का योग 1800° है, तो बहुभुज की भुजाओं की संख्या ज्ञात करें।

Options:
1) 12

2) 14

3) 16

4) 8
Correct Answer: 12
Candidate Answer: 12

QID : 65 - In an isosceles trapezium _____.

एक समद्विबाहु समलम्ब में _____।

GovtJobsAlert.In

Download More Papers From www.GovtJobsAlert.In

Download More Papers From www.GovtJobsAlert.In

Options:
1) Opposite sides are parallel
विपरित बाजू समानांतर होती हैं
2) Opposite angles are supplementary
विपरित कोण अनुपूरक होते हैं
3) Opposite angles are not equal
विपरित कोण समान नहीं होते हैं
4) Diagonals bisect opposite angles
विकर्ण विपरित कोणों के समद्विभाजक होते हैं

Correct Answer: Opposite angles are supplementary
विपरित कोण अनुपूरक होते हैं

Candidate Answer: Opposite angles are supplementary
विपरित कोण अनुपूरक होते हैं

QID : 66 - P and Q can do a project in 60 and 30 days respectively. In how many days can they complete 90% of the project if they work together?

P और Q क्रमश: 60 और 30 दिनों में एक परियोजना कर सकते हैं। यदि वे एक साथ काम करें तो कितने दिनों में वे परियोजना का 90% को पूरा कर सकते हैं?

Options:
1) 9 days
9 दिन
2) 27 days
27 दिन
3) 36 days
36 दिन
4) 18 days
18 दिन

Correct Answer: 18 days
18 दिन

Candidate Answer: 18 days
18 दिन

QID : 67 - The total surface area of a hemisphere is 166.32 sq cm, find its curved surface area?

एक गोलार्द्ध के कुल सतह का क्षेत्रफल 166.32 वर्ग से.मी. है। उसकी वक्र सतह का क्षेत्रफल ज्ञात करें।

Options:
1) 221.76 sq cm
221.76 वर्ग से.मी.
2) 36.96 sq cm
36.96 वर्ग से.मी.
3) 110.88 sq cm
110.88 वर्ग से.मी.
4) 55.44 sq cm
55.44 वर्ग से.मी.

Correct Answer: 110.88 sq cm
110.88 वर्ग से.मी.

Candidate Answer: 110.88 sq cm
110.88 वर्ग से.मी.

QID : 68 - When a discount of 20% is given on a monthly train pass, the profit is 44%. If the discount is 29%, then the profit is _____.

जब एक मासिक ट्रेन पास पर 20% की छूट दी जाती है, तो 44% का लाभ होता है। यदि छूट 29% हो, तो लाभ _____ होगा।

Options:
1) 73 percent
73 प्रतिशत
2) 118.2 percent
118.2 प्रतिशत
3) 17.4 percent
17.4 प्रतिशत
4) 27.8 percent
27.8 प्रतिशत

Correct Answer: 27.8 percent
27.8 प्रतिशत

Candidate Answer: 27.8 percent
27.8 प्रतिशत

GovtJobsAlert.In

Download More Papers From www.GovtJobsAlert.In

Download More Papers From www.GovtJobsAlert.In

QID : 69 - If tan -5π/3 = x, then the value of x is

यदि tan -5π/3 = x, तो x का मान क्या है?

Options:
1) √3
2) 1
3) -1/2
4) √3/2
Correct Answer: √3
Candidate Answer: √3

QID : 70 - If sin(A/2) = x, then the value of x is

यदि sin(A/2) = x, तो x का मान क्या है?

Options:
1) √[(1 + cosA)/2]

2) √[(1 - cosA)/2]

3) √[(1 - sinA)/2]

4) √[(1 + sinA)/2]
Correct Answer: √[(1 - cosA)/2]
Candidate Answer: [NOT ANSWERED]

QID : 71 - If cosAcotA/(1 - sinA) = x, then the value of x is

यदि cosAcotA/(1 - sinA) = x, तो x का मान क्या है?

Options:
1) 1 - cosecA

2) 1 + cosecA

3) 1 + secA

4) 1 - secA
Correct Answer: 1 + cosecA
Candidate Answer: 1 - cosecA

QID : 72 -
Refer the below data table and answer the following Question.
नीचे दिये गए डेटा तालिका के आधार पर निम्नलिखित प्रश्न का उत्तर दें।

Division / STd श्रेणी/कक्षा	Boys लड़के	Girls लडकियाँ
Division A / Standard 5 श्रेणी A/कक्षा 5	15	15
Division B / Standard 5 श्रेणी B/कक्षा 5	35	40
Division C / Standard 5 श्रेणी C/कक्षा 5	30	15
Division A / Standard 6 श्रेणी A/कक्षा 6	10	25
Division B/Standard 6 श्रेणी B/कक्षा 6	20	40
Division C / Standard 6 श्रेणी C/कक्षा 6	30	30

What is the ratio of boys to girls?
लड़कियों पर लड़कों का अनुपात क्या है?

GovtJobsAlert.In

Download More Papers From www.GovtJobsAlert.In

Download More Papers From www.GovtJobsAlert.In

Options:
1) 33 : 28

2) 33 : 34

3) 34 : 33

4) 28 : 33
Correct Answer: 28 : 33
Candidate Answer: 28 : 33

QID : 73 -
Refer the below data table and answer the following Question.
नीचे दिये गए डेटा तालिका के आधार पर निम्नलिखित प्रश्न का उत्तर दें।

Marks अंक	Number of students छात्रों की संख्या
40 and above 40 और उस से उपर	25
30 and above 30 और उस से उपर	49
20 and above 20 और उस से उपर	78
10 and above 10 और उस से उपर	99
0 and above 0 और उस से उपर	118

How many students have scored marks 20 or more but less than 40?
कितने छात्रों ने 20 या उस से अधिक लेकिन 40 से कम अंक प्राप्त किए?

Options:
1) 49

2) 78

3) 53

4) 127
Correct Answer: 53
Candidate Answer: 127

GovtJobsAlert.In

Download More Papers From www.GovtJobsAlert.In

Download More Papers From www.GovtJobsAlert.In

QID : 74 -

Refer the below data table and answer the following Question.

नीचे दिये गए डेटा तालिका के आधार पर निम्नलिखित प्रश्न का उत्तर दें।

Year वर्ष	GDP growth rate for the year (in %) वर्ष में सकल घरेलू उत्पाद (जीडीपी) की वृद्धि का दर (प्रतिशत में)
2011	3
2012	7
2013	-7
2014	-6
2015	-8

If the GDP of the country was $8 trillion at the end of 2011, what was it at the beginning of 2013?

यदि देश का सकल घरेलू उत्पाद (जीडीपी) 2011 के अंत तक $ 8 ट्रिलीयन था, तो वह 2013 की शुरुआत में कितना था?

Options:

1) $8.56 trillion
$ 8.56 ट्रिलीयन
2) $7.44 trillion
$ 7.44 ट्रिलीयन
3) $8.24 trillion
$ 8.24 ट्रिलीयन
4) $8 trillion
$ 8 ट्रिलीयन

Correct Answer: $8.56 trillion
$ 8.56 ट्रिलीयन

Candidate Answer: $7.44 trillion
$ 7.44 ट्रिलीयन

QID : 75 -

Refer the below data table and answer the following Question.

नीचे दिये गए डेटा तालिका के आधार पर निम्नलिखित प्रश्न का उत्तर दें।

Subjects विषय	Marks scored प्राप्त अंक
English / अंग्रेज़ी	70
Hindi / हिंदी	40
Math / गणित	75
Science / विज्ञान	35
Arts / कला	70

Five points are to be deducted from this students average of marks scored because of poor attendance. What will be this student's net average marks scored?

किसी छात्र की अपर्याप्त उपस्थिति की वजह से उसके प्राप्त अंकों के औसत से पांच अंक घटाए जाने हैं। इस छात्र के प्राप्त कुल औसत अंक कितने होंगे?

GovtJobsAlert.In

Download More Papers From www.GovtJobsAlert.In

Download More Papers From www.GovtJobsAlert.In

Options:
1) 53

2) 48

3) 43

4) 58

Correct Answer: 53
Candidate Answer: 53

QID : 76 - Select the word with the correct spelling.

Options:
1) enobles
2) theistick
3) sagacity
4) bristeled

Correct Answer: sagacity
Candidate Answer: sagacity

QID : 77 - In the following question, sentence given with blank is to be filled in with an appropriate word. Select the correct alternative out of the four and indicate it by selecting the appropriate option.

The insecticide is very powerful and can kill a wide _____ of insects.

Options:
1) volume
2) spectrum
3) rainbow
4) plethora

Correct Answer: spectrum
Candidate Answer: spectrum

QID : 78 - In the following question, out of the four alternatives, select the alternative which is the best substitute of the phrase.

A soldier or sailor, who rebels or refuses to obey the orders of a person in authority.

Options:
1) radical
2) anarchist
3) mutineer
4) revolutionary

Correct Answer: mutineer
Candidate Answer: mutineer

QID : 79 - Improve the bracketed part of the sentence.

Many such mishaps can be avoided if we **(are)** careful.

Options:
1) be
2) might be
3) were
4) no improvement

Correct Answer: no improvement
Candidate Answer: no improvement

QID : 80 - Select the word with the correct spelling.

Options:
1) ambolism
2) agendoms
3) neglige
4) heckling

Correct Answer: heckling
Candidate Answer: heckling

QID : 81 - In the following question, some part of the sentence may have errors. Find out which part of the sentence has an error and select the appropriate option. If a sentence is free from error, select 'No Error'.

He swam to(A)/an island that(B)/was not far away.(C)/No error(D)

Options:
1) **A**
2) **B**
3) **C**
4) **D**

GovtJobsAlert.In
Download More Papers From www.GovtJobsAlert.In

Download More Papers From www.GovtJobsAlert.In

Correct Answer: D
Candidate Answer: B

QID : 82 - In the following question, a sentence has been given in Active/Passive voice. Out of four alternatives suggested, select the one, which best expresses the same sentence in Passive/Active voice.

The partners will celebrate their triumph tomorrow.
Options:
1) The triumph would be celebrated by the partners a day after.
2) The triumph will be celebrated by the partners tomorrow.
3) The triumph would have been celebrated by the partners a day after.
4) The triumph will have been celebrated by the partners tomorrow.
Correct Answer: The triumph will be celebrated by the partners tomorrow.
Candidate Answer: The triumph will be celebrated by the partners tomorrow.

QID : 83 - Select the synonym of

sinister
Options:
1) malevolent
2) magnanimous
3) auspicious
4) benevolent
Correct Answer: malevolent
Candidate Answer: malevolent

QID : 84 - Rearrange the parts of the sentence in correct order

Every government wants
P-all, they have so many votes
Q-to shower favours on
R-farmers; after
Options:
1) RQP
2) RPQ
3) PRQ
4) QRP
Correct Answer: QRP
Candidate Answer: QRP

QID : 85 - In the following question, some part of the sentence may have errors. Find out which part of the sentence has an error and select the appropriate option. If a sentence is free from error, select 'No Error'.

The two children were(A)/identical except for(B)/the colour for their eyes.(C)/No error(D)
Options:
1) **A**
2) **B**
3) **C**
4) **D**
Correct Answer: C
Candidate Answer: C

QID : 86 - In the following question, out of the four alternatives, select the alternative which is the best substitute of the phrase.

An unintended consequence of an event or action, especially an unwelcome one.
Options:
1) reverberation
2) backlash
3) flak
4) repercussion
Correct Answer: repercussion
Candidate Answer: repercussion

QID : 87 - In the following question, a sentence has been given in Direct/Indirect speech. Out of the four alternatives suggested, select the one, which best express the same sentence in Indirect/Direct speech.

I said to my sister, "where were you this evening?"
Options:
1) I asked my sister where she was that evening.
2) I asked my sister where she had been that evening.
3) I asked my sister where she was this evening.
4) I asked my sister where she has been that evening.

GovtJobsAlert.In
Download More Papers From www.GovtJobsAlert.In

Download More Papers From www.GovtJobsAlert.In

Correct Answer: I asked my sister where she had been that evening.
Candidate Answer: I asked my sister where she had been that evening.

QID : 88 - Rearrange the parts of the sentence in correct order

Due to poor organic matter
P-in soil is below the required
Q-incorporation, organic carbon
R-level in most parts of India

Options:
1) RPQ
2) QRP
3) QPR
4) PRQ

Correct Answer: QPR
Candidate Answer: QRP

QID : 89 - In the following question, the sentence given with blank to be filled in with an appropriate word. Select the correct alternative out of the four and indicate it by selecting the appropriate option.

The best way to _____ the children's poor test grades is to teach again the lesson and give a second test.

Options:
1) rectify
2) right
3) revise
4) reform

Correct Answer: rectify
Candidate Answer: rectify

QID : 90 - Select the antonym of

frolic

Options:
1) drudgery
2) romp
3) antic
4) drollery

Correct Answer: drudgery
Candidate Answer: [NOT ANSWERED]

QID : 91 - Select the antonym of

affidavit

Options:
1) affirmation
2) slander
3) oath
4) testimony

Correct Answer: slander
Candidate Answer: slander

QID : 92 - In the following question, out of the four alternatives, select the alternative which best expresses the meaning of the idiom/phrase.

to drive someone up the wall

Options:
1) to make someone very irritated
2) to break the barriers of misunderstanding between two persons
3) to encourage someone
4) to be the cause of someone's success

Correct Answer: to make someone very irritated
Candidate Answer: to be the cause of someone's success

QID : 93 - Improve the bracketed part of the sentence.

The candidate was so ignorant that the officer was **(compelled for asking)** him to leave.

Options:
1) being compelled to be asking
2) so compelled to ask
3) compelled to ask
4) no improvement

Correct Answer: compelled to ask
Candidate Answer: compelled to ask

GovtJobsAlert.In
Download More Papers From www.GovtJobsAlert.In

Download More Papers From www.GovtJobsAlert.In

QID : 94 - In the following question, out of the four alternatives, select the alternative which best expresses the meaning of the idiom/phrase.

dry run

Options:
1) a party without drinks
2) a rehearsal of a performance before the real one
3) doing a fruitless task
4) escaping form an unpleasant situation

Correct Answer: a rehearsal of a performance before the real one

Candidate Answer: doing a fruitless task

QID : 95 - Select the synonym of

probable

Options:
1) futile
2) plausible
3) absurd
4) preposterous

Correct Answer: plausible

Candidate Answer: plausible

QID : 96 - In the following passage, some of the words have been left out. Read the passage carefully and select the correct answer for the given blank out of the four alternatives.

Several countries _____ the world are now replacing the _____ model of criminal justice partly _____ wholly with different models of restorative justice, _____ promising results in crime control. The process is more collaborative, consensual and inclusive, that is characteristic _____ indigenous systems of justice.

Several countries _____ the world

Options:
1) cross
2) across
3) beyond
4) over

Correct Answer: across

Candidate Answer: across

QID : 97 - In the following passage, some of the words have been left out. Read the passage carefully and select the correct answer for the given blank out of the four alternatives.

Several countries _____ the world are now replacing the _____ model of criminal justice partly _____ wholly with different models of restorative justice, _____ promising results in crime control. The process is more collaborative, consensual and inclusive, that is characteristic _____ indigenous systems of justice.

now replacing the _____

Options:
1) opposing
2) anti
3) against
4) adversarial

Correct Answer: adversarial

Candidate Answer: anti

QID : 98 - In the following passage, some of the words have been left out. Read the passage carefully and select the correct answer for the given blank out of the four alternatives.

Several countries _____ the world are now replacing the _____ model of criminal justice partly _____ wholly with different models of restorative justice, _____ promising results in crime control. The process is more collaborative, consensual and inclusive, that is characteristic _____ indigenous systems of justice.

model of criminal justice partly _____

Options:
1) or
2) nor
3) and
4) but

Correct Answer: or

Candidate Answer: or

GovtJobsAlert.In

Download More Papers From www.GovtJobsAlert.In

Download More Papers From www.GovtJobsAlert.In

QID : 99 - In the following passage, some of the words have been left out. Read the passage carefully and select the correct answer for the given blank out of the four alternatives.

Several countries _____ the world are now replacing the _____ model of criminal justice partly _____ wholly with different models of restorative justice, _____ promising results in crime control. The process is more collaborative, consensual and inclusive, that is characteristic _____ indigenous systems of justice.

_____ promising results in crime control.

Options:
1) to yield
2) yielding
3) for yielding
4) yields

Correct Answer: yielding

Candidate Answer: to yield

QID : 100 - In the following passage, some of the words have been left out. Read the passage carefully and select the correct answer for the given blank out of the four alternatives.

Several countries _____ the world are now replacing the _____ model of criminal justice partly _____ wholly with different models of restorative justice, _____ promising results in crime control. The process is more collaborative, consensual and inclusive, that is characteristic _____ indigenous systems of justice.

that is characteristic _____ indigenous systems of justice.

Options:
1) for
2) as
3) of
4) like

Correct Answer: of

Candidate Answer: of

GovtJobsAlert.In

Download More Papers From www.GovtJobsAlert.In