Download More Papers From www.GovtJobsAlert.In

Click to Print logout Challenges

Staff Selection Commission
(Government Of India)

QID : 1 - Select the related word/letters/number from the given alternatives.

Prompt : Gradual :: Reverse : ?

दिए गए विकल्पों में से संबंधित शब्द/अक्षर/संख्या को चुनिए।

शीघ्र : धीरे :: पीछे : ?

Options:
1) Decrease
कमी
2) Forward
आगे
3) Backward
पिछला
4) Inclination
झुकाव

Correct Answer: Forward
आगे

Candidate Answer: Forward
आगे

QID : 2 - Select the related word/letters/number from the given alternatives.

KOT : PJO : : FIR : ?

दिए गए विकल्पों में से संबंधित शब्द/अक्षर/संख्या को चुनिए।

KOT : PJO : : FIR : ?

Options:
1) TMN
2) NKM
3) KDM
4) MNJ

Correct Answer: KDM

Candidate Answer: KDM

QID : 3 - Select the related word/letters/number from the given alternatives.

QRU : RQF : : GIC : ?

दिए गए विकल्पों में से संबंधित शब्द/अक्षर/संख्या को चुनिए।

QRU : RQF : : GIC : ?

Options:
1) GHJ
2) HGH
3) HHX
4) IGV

Correct Answer: HHX

Candidate Answer: IGV

GovtJobsAlert.In

Download More Papers From www.GovtJobsAlert.In

Download More Papers From www.GovtJobsAlert.In

QID : 4 - Select the related word/letters/number from the given alternatives.

1331 : 11:: 13824 : ?

दिए गए विकल्पों में से संबंधित शब्द/अक्षर/संख्या को चुनिए।

1331 : 11:: 13824 : ?

Options:
1) 20
2) 23
3) 18
4) 24

Correct Answer: 24
Candidate Answer: 24

QID : 5 - Select the odd word/letters/number/number pair from the given alternatives.

दिए गए विकल्पों में से विषम शब्द/अक्षर/संख्या/संख्या युग्म को चुनिए।

Options:
1) Anger
गुस्सा
2) Enquiry
पूछताछ
3) Investigation
जांच
4) Probe
छानबीन

Correct Answer: Anger
गुस्सा
Candidate Answer: Anger
गुस्सा

QID : 6 - Select the odd word/letters/number/number pair from the given alternatives.

दिए गए विकल्पों में से विषम शब्द/अक्षर/संख्या/संख्या युग्म को चुनिए।

Options:
1) ZVR

2) MIE

3) TXP

4) RNJ

Correct Answer: TXP
Candidate Answer: TXP

QID : 7 - Select the odd word/letters/number/number pair from the given alternatives.

दिए गए विकल्पों में से विषम शब्द/अक्षर/संख्या/संख्या युग्म को चुनिए।

Options:
1) 1/2
2) 1/3
3) 1/4
4) 1/5

Correct Answer: 1/3
Candidate Answer: 1/3

QID : 8 - Select the odd word/letters/number/number pair from the given alternatives.

दिए गए विकल्पों में से विषम शब्द/अक्षर/संख्या/संख्या युग्म को चुनिए।

Options:
1) 897

2) 969

3) 888

4) 432

Correct Answer: 432
Candidate Answer: 432

GovtJobsAlert.In

Download More Papers From www.GovtJobsAlert.In

Download More Papers From www.GovtJobsAlert.In

QID : 9 - A series is given with one term missing. Choose the correct alternative from the given ones that will complete the series.

Qutb-ud-din Aibak, Iltutmish, ?, Ghiyas-ud-din Balban

एक अनुक्रम दिया गया है, जिसमें से एक पद लुप्त है। दिए गए विकल्पों में से वह विकल्प चुनिए, जो अनुक्रम को पूरा करे।

कुतबुद्दीन ऐबक, इल्तुतमिश,?, गयासुद्दीन बलबन

Options:
1) Razia Sultana
रज़िया सुल्तान
2) Ala-ud-din Khilji
अलाउद्दीन खिलजी
3) Firoz Shah Tughlaq
फिरोज़ शाह तुगलक
4) Bahlol Lodi
बहलोल लोदी

Correct Answer: Razia Sultana
रज़िया सुल्तान

Candidate Answer: Razia Sultana
रज़िया सुल्तान

QID : 10 - A series is given with one term missing. Choose the correct alternative from the given ones that will complete the series.

AB,EFG,KLMN,?

एक अनुक्रम दिया गया है, जिसमें से एक पद लुप्त है। दिए गए विकल्पों में से वह विकल्प चुनिए, जो अनुक्रम को पूरा करे।

AB,EFG,KLMN,?

Options:
1) TSUVW
2) STVUW
3) STUVW
4) RSTUV

Correct Answer: STUVW

Candidate Answer: STUVW

QID : 11 - A series is given with one term missing. Choose the correct alternative from the given ones that will complete the series.

AZ,BY,CX,?

एक अनुक्रम दिया गया है, जिसमें से एक पद लुप्त है। दिए गए विकल्पों में से वह विकल्प चुनिए, जो अनुक्रम को पूरा करे।

AZ,BY,CX,?

Options:
1) KN
2) EV
3) EW
4) ED

Correct Answer: ED

Candidate Answer: EV

QID : 12 - A series is given with one term missing. Choose the correct alternative from the given ones that will complete the series.

8,21,60,177,?

एक अनुक्रम दिया गया है, जिसमें से एक पद लुप्त है। दिए गए विकल्पों में से वह विकल्प चुनिए, जो अनुक्रम को पूरा करे।

8,21,60,177,?

Options:
1) 425
2) 528
3) 525
4) 575

Correct Answer: 528

Candidate Answer: 528

GovtJobsAlert.In

Download More Papers From www.GovtJobsAlert.In

Download More Papers From www.GovtJobsAlert.In

QID : 13 - In the following question, two statements are given each followed by two conclusions I and II. You have to consider the statements to be true even if they seem to be at variance from commonly known facts. You have to decide which of the given conclusions, if any, follows from the given statements.

Statements:
(I) Out of 100 people 87 do regular exercising and 35 restrain from unnecessary diet.
(II) These 100 people belong to metro city region.

Conclusion:
(I) 35 % people do exercising and dieting.
(II) In metro city region people are more health conscious.

निम्नलिखित प्रश्न में, दो कथन दिए गए हैं जिनके आगे दो निष्कर्ष I और II निकाले गए हैं। आपको मानना है कि कथन सत्य है चाहे वे सामान्यतः ज्ञात तथ्यों से भिन्न प्रतीत होते हों। आपको निर्णय करना है कि दिए गए निष्कर्षों में से कौन सा/कौन से निश्चित रूप से कथनों द्वारा सही निकाला जा सकता है/सकते हैं, यदि कोई हो।

कथनः
(I) 100 लोगों में से 87 नियमित रूप से व्यायाम करते हैं और 35 अनावश्यक आहार नियंत्रित करते हैं।
(II) ये सभी 100 लोग महानगर के रहने वाले हैं।

निष्कर्षः
(I) 35% लोग व्यायाम करते हैं और नियंत्रित आहार लेते हैं।
(II) महानगर क्षेत्र के लोग स्वास्थ्य के प्रति अत्यधिक सचेत रहते हैं।

Options:
1) Only conclusion II follows
केवल निष्कर्ष II लागू होता है।
2) Conclusion I and II both follow
निष्कर्ष I और II दोनों लागू होता है।
3) Neither I nor II follow
न निष्कर्ष I न ही II लागू होता है।
4) Only conclusion I follows
केवल निष्कर्ष I लागू होता है।

Correct Answer: Neither I nor II follow
न निष्कर्ष I न ही II लागू होता है।

Candidate Answer: Only conclusion II follows
केवल निष्कर्ष II लागू होता है।

QID : 14 - Rahul's age is three times the age of Sumit. If Rahul is 15 years old presently, determine the age (in years) of Sumit after 12 years.

राहुल की आयु सुमित की आयु से तीन गुणा है। यदि राहुल की वर्तमान आयु 15 वर्ष है, तो 12 वर्ष के पश्चात सुमित की आयु (वर्ष में) कितनी होगी?

Options:
1) 16

2) 15

3) 10

4) 17

Correct Answer: 17

Candidate Answer: 17

QID : 15 - Arrange the given words in the sequence in which they occur in the dictionary.

i. Preview
ii. Preventive
iii. Prefer
iv. Preformation

निम्नलिखित शब्दों को शब्दकोश में आने वाले क्रम के अनुसार लिखें।

i. Preview
ii. Preventive
iii. Prefer
iv. Preformation

Options:
1) iii,ii,i,iv
2) iv,iii,i,ii
3) iii,iv,ii,i
4) iii,i,ii,iv

Correct Answer: iii,iv,ii,i

Candidate Answer: iii,iv,ii,i

Download More Papers From www.GovtJobsAlert.In

Download More Papers From www.GovtJobsAlert.In

QID : 16 - In a certain code language, "BRING" is written as "25698" and "JAIL" is written as "4367". How is "BRINJAL" written in that code language?

एक विशिष्ट कोड भाषा में "BRING" को "25698" लिखा जाता है और "JAIL" को "4367" लिखा जाता है। इस कोड भाषा में "BRINJAL" को किस प्रकार लिखा जाएगा?

Options:
1) 2566437

2) 2569437

3) 2569347

4) 2659437
Correct Answer: 2569437
Candidate Answer: 2569437

QID : 17 -
In the following question, select the missing number from the given series.
निम्नलिखित प्रश्न में दिए गए विकल्पों में से लुप्त अंक ज्ञात कीजिए।

5	12	18
6	11	12
61	265	?

Options:
1) 465

2) 470

3) 468

4) 430
Correct Answer: 468
Candidate Answer: 468

QID : 18 - If "A" means "subtraction", "B" means "division", "C" means "addition" and "D" means "multiplication", then

305 B 5 A 28 C 43 D 12 = ?

यदि "A" का अर्थ "घटाना" है, "B" का अर्थ "भाग" है, "C" का अर्थ "जोड़" है और "D" का अर्थ "गुणा" है, तो

305 B 5 A 28 C 43 D 12 = ?
Options:
1) 569
2) 549
3) 560
4) 530
Correct Answer: 549
Candidate Answer: 549

QID : 19 - Which set of letters when sequentially placed at the gaps in the given letter series shall complete it?

AB_AB_AA_BB_

अक्षरों का कौन सा समूह खाली स्थानों पर क्रमवार रखने से दी गई अक्षर श्रृंखला को पूरा करेगा?

AB_AB_AA_BB_
Options:
1) ABBA
2) BBBB
3) ABBB
4) BBBA
Correct Answer: ABBA
Candidate Answer: ABBB

GovtJobsAlert.In

Download More Papers From www.GovtJobsAlert.In

Download More Papers From www.GovtJobsAlert.In

QID : 20 - Ram is facing towards the south. He turns to his left and moves 40 km, and then turns to his right and moves 50 km more. Finally, he turns to his left again and moves 60 km. Which direction is he facing now?

राम दक्षिण दिशा की ओर मुंह किए हुए है। वह अपने बाएं मुड़कर 40 कि.मी. चलता है, और फिर दाएं मुड़कर वह 50 कि.मी. और चलता है। अंत में, वह फिर से अपने बाएं मुड़कर 60 कि.मी. चलता है। वह अब किस दिशा की ओर मुँह किए हुए है?

Options:
1) East
पूर्व
2) West
पश्चिम
3) North
उत्तर
4) South
दक्षिण

Correct Answer: East
पूर्व

Candidate Answer: East
पूर्व

QID : 21 -

A word is represented by only one set of numbers as given in any one of the alternatives. The sets of numbers given in the alternatives are represented by two classes of alphabets as shown in the given two matrices. The columns and rows of Matrix-I are numbered from 0 to 4 and that of Matrix-II are numbered from 5 to 9. A letter from these matrices can be represented first by its row and next by its column, for example, Y can be represented by 21, 40, etc., and U can be represented by 96, 67, etc. Similarly, you have to identify the set for the word CARRY.

एक शब्द केवल एक संख्या-समूह द्वारा दर्शाया गया है, जैसा कि विकल्पों में से किसी एक में दिया गया है। विकल्पों में दिए गए संख्या-समूह अक्षरों के दो वर्गों द्वारा दर्शाए गए हैं, जैसा कि दिए गए दो आव्युहों में है। आव्यूह-I के स्तम्भ और पंक्ति की संख्या 0 से 4 है और आव्यूह-II की 5 से 9। इन आव्यूहों से एक अक्षर को पहले उसकी पंक्ति और बाद में स्तम्भ संख्या द्वारा दर्शाया जा सकता है। उदाहरण के लिए Y को 21, 40 आदि द्वारा दर्शाया जा सकता है तथा U को 96, 67 आदि द्वारा दर्शाया जा सकता है। इसी तरह से आपको प्रश्न में दिए शब्द CARRY के लिए समूह को पहचानना है।

Matrix-I
आव्यूह – I

	0	1	2	3	4
0	R	A	R	Y	A
1	A	C	M	Q	H
2	U	Y	L	C	P
3	A	H	A	P	C
4	Y	A	C	Y	I

Matrix-II
आव्यूह – II

	5	6	7	8	9
5	V	M	R	G	M
6	A	R	U	D	U
7	R	M	A	C	A
8	C	X	C	A	Y
9	M	U	Y	S	A

Options:
1) 42,65,57,13,86

2) 11, 99,12,43,68

3) 23,04,66,95,89

4) 34,79,00,66,97
Correct Answer: 34,79,00,66,97
Candidate Answer: 34,79,00,66,97

QID : 22 - A man says to a lady, "Your father is the father-in-law of my father's only child." How is the lady related to the man?

एक पुरुष, एक महिला से कहता है, "आपके पिता, मेरे पिता के इकलौते बच्चे के ससुर हैं।" वह महिला, उस पुरुष से कैसे संबंधित है?

Download More Papers From www.GovtJobsAlert.In

Download More Papers From www.GovtJobsAlert.In

Options:
1) Sister-in-law
भाभी
2) Granddaughter
पोती
3) Wife
पत्नी
4) Daughter
बेटी

Correct Answer: Wife
पत्नी

Candidate Answer: Wife
पत्नी

QID : 23 -

If a mirror is placed on the line MN, then which of the answer figures is the right image of the given figure?

यदि एक दर्पण को MN रेखा पर रखा जाए, तो दी गई उत्तर आकृतियों में से कौन सी आकृति प्रश्न आकृति की सही प्रतिबिम्ब होगी?

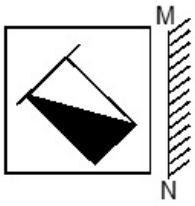

Options:
1)

2)

3)

4)
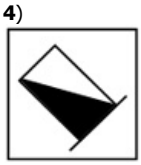

Correct Answer:

Candidate Answer:

GovtJobsAlert.In

Download More Papers From www.GovtJobsAlert.In

Download More Papers From www.GovtJobsAlert.In

QID : 24 - Identify the diagram that best represents the relationship among the given classes.

Vegetable, Park, Carrot

वह आरेख चुनिए जो नीचे दिए गए वर्गों के बीच के संबंध का सही निरूपण करता है।

सब्जी, पार्क, गाजर

Options:

1)

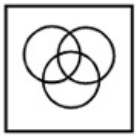

2)

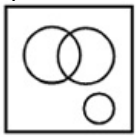

3)

4)

Correct Answer:

Candidate Answer:

QID : 25 -

A piece of paper is folded and punched as shown below in the question figures. From the given answer figures, indicate how it will appear when opened.

नीचे के प्रश्न आकृतियों में दिखाए अनुसार कागज को मोड़कर छेदने तथा खोलने के बाद वह किस उत्तर आकृति जैसा दिखाई देगा?

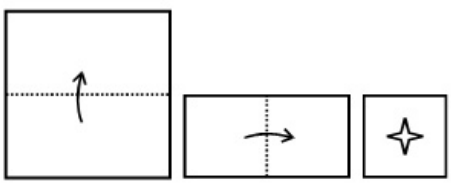

GovtJobsAlert.In

Download More Papers From www.GovtJobsAlert.In

Download More Papers From www.GovtJobsAlert.In

Options:

1)

2)



3)

4)

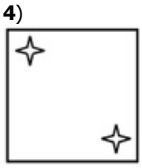

Correct Answer:



Candidate Answer:



QID : 26 - The command that merges the contents of one file to another is

एक फाइल की सामग्री को दूसरी में विलीन करने के लिए दिया जाने वाला कमांड है

Options:

1) APPEND
एपेंड

2) RENAME
रिनेम

3) RESTORE
रिस्टोर

4) ADD
ऐड

Correct Answer: APPEND
एपेंड

Candidate Answer: APPEND
एपेंड

QID : 27 - Dishwasher was invented by _____.

डिशवॉशर का आविष्कार _____ द्वारा किया गया था।

GovtJobsAlert.In

Download More Papers From www.GovtJobsAlert.In

Download More Papers From www.GovtJobsAlert.In

Options:
1) John Barber
जॉन बार्बर
2) Sir Henry Cole
सर हेनरी कोल
3) Josephine Cochrane
जोसेफिन कोचरेन
4) Bartolomeo Cristofori
बार्टोलोमियो क्रिस्टोफोरी

Correct Answer: Josephine Cochrane
जोसेफिन कोचरेन

Candidate Answer: [NOT ANSWERED]

QID : 28 - Prothrombin, responsible for clotting of blood is released by_____.

प्रोथ्रोम्बिन, जो रक्त का थक्का जमने के लिए जिम्मेदार है, _____के द्वारा स्त्रावित किया जाता है।

Options:
1) Small Intestine
छोटी आंत
2) Blood Platelets
रक्त प्लेटलेट्स
3) Large Intestine
बड़ी आंत
4) Heart
हृदय

Correct Answer: Blood Platelets
रक्त प्लेटलेट्स

Candidate Answer: Blood Platelets
रक्त प्लेटलेट्स

QID : 29 - Acacia arabica is the scientific name of

अकेशिया अरेबिका _____ का वैज्ञानिक नाम है।

Options:
1) Neem
नीम
2) Teak
सागौन
3) Babhul
बबूल
4) Pomegranate
अनार

Correct Answer: Babhul
बबूल

Candidate Answer: [NOT ANSWERED]

QID : 30 - Cannis Vulpes is the scientific name of

कैनिस वल्पिस _____ का वैज्ञानिक नाम है।

Options:
1) Dog
कुत्ता
2) Wolf
भेड़िया
3) Fox
लोमड़ी
4) Hyena
लकड़बग्धा

Correct Answer: Fox
लोमड़ी

Candidate Answer: [NOT ANSWERED]

QID : 31 - What is the pH of water?

पानी का pH कितना होता है?

GovtJobsAlert.In

Download More Papers From www.GovtJobsAlert.In

Download More Papers From www.GovtJobsAlert.In

Options:
1) 7

2) 5

3) 3

4) 1
Correct Answer: 7
Candidate Answer: 7

QID : 32 - Solid carbon dioxide is known as _____.

ठोस कार्बन डाय ऑक्साइड को ____ कहते हैं?

Options:
1) Hypo
हायपो
2) Borax
बोरेक्स
3) Alum
फिटकरी
4) Dry ice
सुखी बर्फ
Correct Answer: Dry ice
सुखी बर्फ
Candidate Answer: Dry ice
सुखी बर्फ

QID : 33 - Oil paint was first used for Buddhist paintings by Indian and Chinese painters in western _____ sometime between the fifth and tenth centuries.

भारतीय और चीनी चित्रकारों द्वारा बौद्ध चित्रों के लिए पांचवीं और दसवीं शताब्दी के बीच पश्चिमी _____ में तैलीय रंगों का इस्तेमाल किया गया था।

Options:
1) Iraq
इराक
2) Afghanistan
अफगानिस्तान
3) Pakistan
पाकिस्तान
4) India
भारत
Correct Answer: Afghanistan
अफगानिस्तान
Candidate Answer: India
भारत

QID : 34 - Flamingo festival is celebrated in which state?

फ्लेमिंगो का त्यौहार किस राज्य में मनाया जाता है?

Options:
1) Karnataka
कर्नाटक
2) Kerala
केरल
3) Andhra Pradesh
आंध्रप्रदेश
4) Maharashtra
महाराष्ट्र
Correct Answer: Andhra Pradesh
आंध्रप्रदेश
Candidate Answer: Karnataka
कर्नाटक

GovtJobsAlert.In

Download More Papers From www.GovtJobsAlert.In

Download More Papers From www.GovtJobsAlert.In

QID : 35 - If for the year a country's GDP was $990 million, consumer spending was $630 million, investment by businesses was $110 million, exports were $55 million and imports were $45 million, calculate government spending?

यदि किसी वर्ष के लिए एक देश का सकल घरेलू उत्पाद $990 मिलियन था, उपभोक्ता खर्च $630 मिलियन था, व्यवसायों द्वारा निवेश $110 मिलियन था, निर्यात $55 मिलियन थे और आयात $45 मिलियन थे, तो सरकार के खर्च की गणना करें?

Options:
1) $260 million
260 मिलियन डॉलर
2) $240 million
240 मिलियन डॉलर
3) $480 million
480 मिलियन डॉलर
4) $460 million
460 मिलियन डॉलर

Correct Answer: $240 million
240 मिलियन डॉलर

Candidate Answer: $480 million
480 मिलियन डॉलर

QID : 36 - In economic equilibrium _____

आर्थिक संतुलन में _____

Options:
1) supply is equal to the demand.
मांग आपूर्ति के बराबर होती है।
2) the surplus is larger than the shortage.
अधिशेष की कमी से भी बड़ा है।
3) elasticity of demand equals elasticity of supply
मांग की लोच की आपूर्ति की लोच के बराबर होती है।
4) price elasticity of demand is unity
मांग की कीमत लोच एकता (यूनिटी) है।

Correct Answer: supply is equal to the demand.
मांग आपूर्ति के बराबर होती है।

Candidate Answer: supply is equal to the demand.
मांग आपूर्ति के बराबर होती है।

QID : 37 - Beryl is an ore/mineral of

बेरिल _____का एक अयस्क/खनिज है।

Options:
1) Nickel
निकल
2) Beryllium
बेरिलियम
3) Lead
लेड
4) Tin
टिन

Correct Answer: Beryllium
बेरिलियम

Candidate Answer: Tin
टिन

QID : 38 - What is the Greenhouse Effect?

ग्रीनहाउस प्रभाव क्या है?

Options:
1) The fall in population of plants due to human activity
मानवीय गतिविधियों के कारण पेड़ों की संख्या में कमी आना।
2) It is the warming of earth's surface due to its atmosphere
पृथ्वी के वायुमंडल के कारण उसकी सतह का गर्म होना।
3) The polluting effect of burning fossil fuels
खनिज इंधनों के जलने के कारण प्रदूषण होना।
4) The heating of the atmosphere due to depletion of the ozone layer
ओज़ोन की परत घटने के कारण वायुमंडल का गर्म होना।

GovtJobsAlert.In

Download More Papers From www.GovtJobsAlert.In

Download More Papers From www.GovtJobsAlert.In

Correct Answer: It is the warming of earth's surface due to its atmosphere
पृथ्वी के वायुमंडल के कारण उसकी सतह का गर्म होना।

Candidate Answer: It is the warming of earth's surface due to its atmosphere
पृथ्वी के वायुमंडल के कारण उसकी सतह का गर्म होना।

QID : 39 - The longest railway platform in India

भारत में सर्वाधिक लंबा प्लेटफार्म यहाँ है

Options:
1) Amritsar
अमृतसर
2) Gorakhpur
गोरखपुर
3) Kathgodam
काठगोदाम
4) Kanpur
कानपूर

Correct Answer: Gorakhpur
गोरखपुर

Candidate Answer: Gorakhpur
गोरखपुर

QID : 40 - In terms of size, Saturn ranks no. ___ in our Solar System.

आकार के संदर्भ में शनि का हमारे सौर मंडल में _____ स्थान है।

Options:
1) 1
पहला
2) 2
दूसरा
3) 3
तीसरा
4) 4
चौथा

Correct Answer: 2
दूसरा

Candidate Answer: 4
चौथा

QID : 41 - Which of the following continents has the smallest land area?

निम्नलिखित महाद्वीपों में से किसका सबसे छोटा भूमि क्षेत्र है?

Options:
1) Antarctica
एंटार्कटिका
2) Europe
यूरोप
3) North America
उत्तर अमेरिका
4) South America
दक्षिण अमेरिका

Correct Answer: Europe
यूरोप

Candidate Answer: South America
दक्षिण अमेरिका

QID : 42 - Who built Jodhpur Fort?

जोधपुर के किले का निर्माण किसने किया था?

GovtJobsAlert.In

Download More Papers From www.GovtJobsAlert.In

Download More Papers From www.GovtJobsAlert.In

Options:
1) Guru Ramdas
गुरु रामदास
2) Shah Jahan
शाहजहाँ
3) Rao Jodhaji
राव जोधाजी
4) Mahatma Gandhi
महात्मा गाँधी

Correct Answer: Rao Jodhaji
राव जोधाजी

Candidate Answer: Rao Jodhaji
राव जोधाजी

QID : 43 - Battle of Panipat was fought in the year _____.

पानीपत की लड़ाई वर्ष _____ में लड़ी गई थी।

Options:
1) 1764
2) 1757
3) 1526
4) 1857

Correct Answer: 1526

Candidate Answer: 1526

QID : 44 - Name the first Indian to get Nobel prize in literature.

साहित्य में नोबल पुरस्कार प्राप्त करने वाले प्रथम भारतीय का नाम बताइये।

Options:
1) Rabindranath Tagore
रबिन्द्रनाथ टैगोर
2) CV Raman
सी. वी. रमन
3) Lal Bahadur Shastri
लाल बहादुर शास्त्री
4) Amartya Sen
अमर्त्य सेन

Correct Answer: Rabindranath Tagore
रबिन्द्रनाथ टैगोर

Candidate Answer: Rabindranath Tagore
रबिन्द्रनाथ टैगोर

QID : 45 - Atmospheric pressure is measured by _____.

वायुमंडलीय दबाव को _____ द्वारा नापा जाता है।

Options:
1) Barometer
बैरोमीटर
2) Hexameter
हेक्सामीटर
3) Nanometer
नैनोमीटर
4) Glaxometer
ग्लैक्सोमीटर

Correct Answer: Barometer
बैरोमीटर

Candidate Answer: Barometer
बैरोमीटर

QID : 46 - Instrument for measuring rainfall is called

वर्षा मापने के यंत्र को कहा जाता है?

GovtJobsAlert.In

Download More Papers From www.GovtJobsAlert.In

Download More Papers From www.GovtJobsAlert.In

Options:
1) Lucimeter
ल्युसीमीटर
2) Galactometer
गैलेक्टोमीटर
3) Hyetometer
हायेटोमीटर
4) Hygrometer
हायग्रोमीटर

Correct Answer: Hyetometer
हायेटोमीटर

Candidate Answer: Hygrometer
हायग्रोमीटर

QID : 47 - What is the total number of members in Rajya Sabha from States and Union Territories?

राज्यसभा में राज्यों और केंद्र शासित प्रदेशों से कुल सदस्यों की संख्या कितनी होती है?

Options:
1) 218

2) 228

3) 238

4) 248

Correct Answer: 238

Candidate Answer: 238

QID : 48 - The Look East Policy in India was started by which of the following Prime Ministers?

भारत में "पूर्व की तरफ देखो नीति" निम्नलिखित में से किस प्रधानमंत्री द्वारा प्रारंभ की गई थी?

Options:
1) Rajiv Gandhi
राजीव गाँधी
2) Atal Bihari Vajpayee
अटल बिहारी बाजपेई
3) P.V. Narasimha Rao
पी.वी.नरसिंहाराव
4) Manmohan Singh
मनमोहन सिंह

Correct Answer: P.V. Narasimha Rao
पी.वी.नरसिंहाराव

Candidate Answer: Rajiv Gandhi
राजीव गाँधी

QID : 49 - Who won the Gold Medal in 400m sprint in 2016 Summer Olympics?

वर्ष 2016 ग्रीष्मकालीन ओलंपिक में 400 मीटर स्प्रिंट में गोल्ड मेडल किसने जीता?

Options:
1) Usain Bolt
उसेन बोल्ट
2) Justin Gatlin
जस्टिन गैटलिन
3) Andre De Grasse
आंद्रे डी ग्रासे
4) Wayde van Niekerk
वेड वान नायकर्क

Correct Answer: Wayde van Niekerk
वेड वान नायकर्क

Candidate Answer: Usain Bolt
उसेन बोल्ट

QID : 50 - Who wrote the book "The God of Small Things"?

"द गॉड ऑफ स्मॉल थिंग्स" पुस्तक के लेखक(/की लेखिका) कौन है?

GovtJobsAlert.In

Download More Papers From www.GovtJobsAlert.In

Download More Papers From www.GovtJobsAlert.In

Options:
1) Arundhati Roy
अरुंधती रॉय
2) Anita Desai
अनिता देसाई
3) Amartya Sen
अमर्त्य सेन
4) Arun Shourie
अरुण शोरी

Correct Answer: Arundhati Roy
अरुंधती रॉय

Candidate Answer: Anita Desai
अनिता देसाई

QID : 51 - If (cosecA - 1)/(cosecA + 1) = x, then the value of x is

यदि (cosecA - 1)/(cosecA + 1) = x, तो x का क्या मान है?

Options:
1) $(\sin A/(1 + \cos A))^2$

2) cosA/(1 + sinA)

3) $(\cos A/(1 + \sin A))^2$

4) sinA/(1 + cosA)

Correct Answer: $(\cos A/(1 + \sin A))^2$

Candidate Answer: $(\cos A/(1 + \sin A))^2$

QID : 52 - Product of 6ab, 3b and 4a is

6ab, 3b and 4a का गुणनफल क्या है?

Options:
1) $72a^2b^2$

2) 144ab

3) 72ab

4) $144a^2b^2$

Correct Answer: $72a^2b^2$

Candidate Answer: $72a^2b^2$

QID : 53 - An octahedron has 6 vertices. How many edges does it have?

एक अष्टभुज (octahedron) के 6 शिरोबिंदु है। उसके कितने किनारें है?

Options:
1) 8

2) 12

3) 6

4) 10

Correct Answer: 12

Candidate Answer: 10

QID : 54 - By increasing the price of entry ticket to a fair in the ratio 5:7, the number of visitors to the fair has decreased in the ratio 11:9. In what ratio has the total collection increased or decreased?

एक मेले की प्रवेश टिकट के मूल्य में 5:7 के अनुपात में वृद्धि करके, मेले में आने वाले लोगों की संख्या 11:9 के अनुपात में कम हो गई है। कुल संकलन में किस अनुपात में वृद्धि या कमी हुई है?

GovtJobsAlert.In

Download More Papers From www.GovtJobsAlert.In

Download More Papers From www.GovtJobsAlert.In

Options:
1) increased in the ratio 55:63
55:63 के अनुपात में वृद्धि हुई है
2) decreased in the ratio 63:55
63:55 के अनुपात में कमी हुई है
3) increased in the ratio 45:77
45:77 के अनुपात में वृद्धि हुई है
4) decreased in the ratio 77:45
77:45 के अनुपात में कमी हुई है
Correct Answer: increased in the ratio 55:63
55:63 के अनुपात में वृद्धि हुई है
Candidate Answer: increased in the ratio 55:63
55:63 के अनुपात में वृद्धि हुई है

QID : 55 - The largest 5 digit number exactly divisible by 84 is:

84 से पूरी तरह विभाज्य होने वाली 5 अंको की अधिकतम संख्या कौनसी है?

Options:
1) 99960

2) 99955

3) 99952

4) 99956
Correct Answer: 99960
Candidate Answer: 99960

QID : 56 - If $3x + 2 \geq x - 1$ and $2x - 4 \leq 2 - x/3$; then x can take which of the following values?

यदि $3x + 2 \geq x - 1$ और $2x - 4 \leq 2 - x/3$; फिर x का क्या मान होगा?

Options:
1) -2

2) 3

3) 5

4) -1
Correct Answer: -1
Candidate Answer: -1

QID : 57 - What is the length of the side of a regular hexagon, if its area is $54\sqrt{3}$ sq cm?

एक समभुजकोणीय षट्भुज के भुजा की लंबाई क्या है, यदि उसका क्षेत्रफल $54\sqrt{3}$ वर्ग से.मी. है?

Options:
1) 12 cm
12 से.मी.
2) 9 cm
9 से.मी.
3) 6 cm
6 से.मी.
4) 15 cm
15 से.मी.
Correct Answer: 6 cm
6 से.मी.
Candidate Answer: 6 cm
6 से.मी.

QID : 58 - If $\cot \pi/3c - \tan \pi/4c = x$, then the value of x is

यदि $\cot \pi/3c - \tan \pi/4c = x$, तो x का मान क्या है?

Options:
1) $\sqrt{3}+2$
2) $(1-\sqrt{3})/\sqrt{3}$
3) $(1-\sqrt{2})/\sqrt{2}$
4) $(\sqrt{3}+4)/2\sqrt{3}$
Correct Answer: $(1-\sqrt{3})/\sqrt{3}$

GovtJobsAlert.In

Download More Papers From www.GovtJobsAlert.In

Download More Papers From www.GovtJobsAlert.In

Candidate Answer: (1-√3)/√3

QID : 59 - The effective annual rate of interest corresponding to a nominal rate of 19% per annum payable half-yearly is:

प्रतिवर्ष 19% की सांकेतिक ब्याज दर के अनुसार अर्द्धवार्षिक रुप में देय ब्याज की प्रभावी वार्षिक दर है:

Options:
1) 38 percent
38 प्रतिशत
2) 19.9 percent
19.9 प्रतिशत
3) 39.81 percent
39.81 प्रतिशत
4) 19 percent
19 प्रतिशत

Correct Answer: 19.9 percent
19.9 प्रतिशत

Candidate Answer: 19.9 percent
19.9 प्रतिशत

QID : 60 - In the first 38 overs of a cricket match, the run rate was 4.5 runs/over. Calculate the required run rate in the remaining 12 overs to reach the target of 288 runs?

एक क्रिकेट मैच के पहले 38 ओवर में रन रेट 4.5 रन/ओवर था। शेष 12 ओवरों में 288 रन के लक्ष्य तक पहुँचने के लिए अपेक्षित रन रेट की गणना करें।

Options:
1) 10.35

2) 10.95

3) 9.75

4) 9.15

Correct Answer: 9.75
Candidate Answer: 9.75

QID : 61 - The sum of the ages of husband and wife at present is 56. Ten years ago the product of their ages was 320. What is the age of the husband and the wife?

वर्तमान में पति और पत्नी की उम्र का योग 56 है। 10 साल पहले उनकी उम्र का गुणनफल 320 था। उन पति और पत्नी की उम्र क्या है?

Options:
1) 28, 28

2) 32, 24

3) 30, 26

4) 29, 27

Correct Answer: 30, 26
Candidate Answer: 30, 26

QID : 62 - If 27% of an electricity bill is deducted, Rs 1825 is still to be paid. How much was the bill?

यदि किसी बिजली के बिल में 27% छूट दी जाती है, तो अभी भी 1825 रु का भुगतान होना बाकी रह जाता है। प्रारम्भ में बिल कितना था?

Options:
1) Rs 1437
1437 रु
2) Rs 2536
2536 रु
3) Rs 2500
2500 रु
4) Rs 1473
1473 रु

Correct Answer: Rs 2500
2500 रु

Candidate Answer: Rs 2500
2500 रु

GovtJobsAlert.In

Download More Papers From www.GovtJobsAlert.In

Download More Papers From www.GovtJobsAlert.In

QID : 63 - If secA = x, then the value of x is

यदि secA = x, तो x का मान क्या है?

Options:

1) $\sqrt{(1 - \cot^2 A)}$

2) $\sqrt{(1 - \tan^2 A)}$

3) $\sqrt{(1 + \cot^2 A)}$

4) $\sqrt{(1 + \tan^2 A)}$

Correct Answer: $\sqrt{(1 + \tan^2 A)}$

Candidate Answer: $\sqrt{(1 + \tan^2 A)}$

QID : 64 - The costs of daily ticket of local train is Rs 130 and Monthly Pass costs Rs 3091.40. If I buy the Monthly Pass and travel for 29 days in a month than I save (in percentage)?

लोकल ट्रेन के दैनिक टिकट का मूल्य 130 रु है और मासिक पास का मूल्य 3091.40 रु हैं। यदि मैं मासिक पास खरीदता हूँ और एक महीने में 29 दिन यात्रा करता हूँ, तो मेरी कितनी बचत होगी (प्रतिशत में)?

Options:

1) 16 percent
16 प्रतिशत
2) 18 percent
18 प्रतिशत
3) 15 percent
15 प्रतिशत
4) 14 percent
14 प्रतिशत

Correct Answer: 18 percent
18 प्रतिशत

Candidate Answer: 18 percent
18 प्रतिशत

QID : 65 - A vendor buys some lemons at the rate of 11 for Rs 10 and sells at the rate of 4 for Rs 5. What will be the result?

एक विक्रेता कुछ नींबू 10 रु में 11 के हिसाब से खरीदता है और 5 रु में 4 के हिसाब से बेच देता है। इसका क्या परिणाम होगा?

Options:

1) 37.5 percent loss
37.5 प्रतिशत हानि
2) 27.27 percent gain
27.27 प्रतिशत लाभ
3) 37.5 percent gain
37.5 प्रतिशत लाभ
4) 27.2 percent loss
27.2 प्रतिशत हानि

Correct Answer: 37.5 percent gain
37.5 प्रतिशत लाभ

Candidate Answer: 37.5 percent gain
37.5 प्रतिशत लाभ

QID : 66 - If 7x - 5y = 13 and 2x - y = 5, then (x - y) is

यदि 7x - 5y = 13 और 2x - y = 5 हैं, तो (x - y) का क्या मान है?

Options:

1) 3
2) 4
3) 5
4) 1

Correct Answer: 1

Candidate Answer: 1

QID : 67 - The perimeters of a square and an equilateral triangle are equal. If the diagonal of the square is 9 cm, what is the area of the equilateral triangle?

एक वर्ग और एक समभुज त्रिभुज की परिधि एक समान हैं। यदि वर्ग का विकर्ण 9 से.मी. है, तो उस समभुज त्रिकोण का क्षेत्रफल क्या होगा?

GovtJobsAlert.In

Download More Papers From www.GovtJobsAlert.In

Download More Papers From www.GovtJobsAlert.In

Options:
1) 18√3 sq cm
18√3 वर्ग से.मी.
2) 9√3 sq cm
9√3 वर्ग से.मी.
3) 18√2 sq cm
18√2 वर्ग से.मी.
4) 9√2 sq cm
9√2 वर्ग से.मी.

Correct Answer: 18√3 sq cm
18√3 वर्ग से.मी.

Candidate Answer: 9√3 sq cm
9√3 वर्ग से.मी.

QID : 68 - A thief is stopped by a policeman from a distance of 350 metres. When the policeman starts the chase, the thief also starts running. Assuming the speed of the thief as 7 km/h and that of police man as 12 km/h, how far the thief would have run, before he is overtaken?

एक चोर को एक पुलिसकर्मी 350 मीटर की दूरी से रोक लेता है। पुलिसकर्मी जब चोर का पीछा करना शुरु करता होता है, तो चोर भी दौड़ना शुरु करता है। यह मानते हुए कि चोर की गति 7 कि.मी./घंटा है और पुलिसकर्मी की गति 12 कि.मी./घंटा है तो पुलिसकर्मी के द्वारा चोर तक पहुँचने तक चोर कितनी दूरी तय कर लेगा?

Options:
1) 490 metres
490 मीटर
2) 392 metres
392 मीटर
3) 588 metres
588 मीटर
4) 294 metres
294 मीटर

Correct Answer: 490 metres
490 मीटर

Candidate Answer: 294 metres
294 मीटर

QID : 69 - Painter 'A' can paint a house in 10 days and 'B' can do it in 20 days. With help of 'C', they did the job in 5 days only. Then, 'C' alone can do the job in:

रंगकर्मी 'A' एक घर 10 दिन में रंग सकता है तथा 'B' 20 दिन में कर सकता है। 'C' की सहायता से, उन्होंने केवल 5 ही दिन में यह काम कर लिया। तब 'C' अकेले यह काम कर सकता है

Options:
1) 20 days
20 दिन
2) 10 days
10 दिन
3) 40 days
40 दिन
4) 50 days
50 दिन

Correct Answer: 20 days
20 दिन

Candidate Answer: 20 days
20 दिन

QID : 70 - What is the slope of the line parallel to the line passing through the points (-4,-6) and (2,-3)?

बिंदु (-4, -6) और बिंदु (2, -3) के माध्यम से गुजरने वाली रेखा के समानांतर रहने वाली किसी रेखा का ढाल क्या होगा?

Options:
1) -1/2

2) -2

3) 2

4) 1/2

Correct Answer: 1/2
Candidate Answer: 1/2

GovtJobsAlert.In

Download More Papers From www.GovtJobsAlert.In

Download More Papers From www.GovtJobsAlert.In

QID : 71 - The total surface area of a cuboid is 376 sq cm. Find its volume if its length and breadth are 10 cm and 8 cm respectively?

एक घनाभ के कुल सतह का क्षेत्रफल 376 वर्ग से.मी. है। इसके आयतन का पता लगाएं, अगर इसकी लंबाई और चौड़ाई क्रमशः 10 से.मी. और 8 से.मी. हैं?

Options:
1) 960 cubic cms
960 घन से.मी.
2) 240 cubic cms
240 घन से.मी.
3) 480 cubic cms
480 घन से.मी.
4) 720 cubic cms
720 घन से.मी.

Correct Answer: 480 cubic cms
480 घन से.मी.

Candidate Answer: 480 cubic cms
480 घन से.मी.

QID : 72 -

Refer the below data table and answer the following Question.

नीचे दिये गए डेटा तालिका के आधार पर निम्नलिखित प्रश्न का उत्तर दें।

	Quantity of stock स्टॉक की मात्रा	Average Cost (Rs) औसत लागत (रूपए)
Mobile Phones / मोबाइल फोन	47	11000
Cameras / कैमरा	60	9000
TVs / टीवी	21	43000
Refrigerators / रेफ्रिजरेटर	31	60000
ACs / एसी	82	22000

What is the value of the total stock (in lakh rupees)?

कुल स्टॉक का मूल्य (लाख रूपए में) कितना है?

Options:
1) 562.4

2) 145

3) 56.24

4) 241

Correct Answer: 56.24
Candidate Answer: 56.24

GovtJobsAlert.In

Download More Papers From www.GovtJobsAlert.In

Download More Papers From www.GovtJobsAlert.In

QID : 73 -

Refer the below data table and answer the following Question.

नीचे दिये गए डेटा तालिका के आधार पर निम्नलिखित प्रश्न का उत्तर दें।

Year वर्ष	Ratio Import/Export अनुपात: आयात/निर्यात
2011	0.7
2012	1.1
2013	0.9
2014	1.2
2015	1

If the imports in 2012 was Rs. 1500 crores and the total exports in the years 2012 and 2013 together was Rs. 2000 crores, then the imports in 2013 was?

यदि 2012 में आयात 1500 करोड़ रूपए था और वर्ष 2012 और 2013 में एक साथ कुल निर्यात 2000 करोड़ था, तो 2013 में आयात कितना था?

Options:

1) 573

2) 636

3) 1364

4) 707

Correct Answer: 573

Candidate Answer: [NOT ANSWERED]

QID : 74 -

Refer the below data table and answer the following Question.

नीचे दिये गए डेटा तालिका के आधार पर निम्नलिखित प्रश्न का उत्तर दें।

Measured on Birthday जन्मदिन पर नापा गया	Height of the child (in cms) बच्चे की ऊंचाई (सेंटीमीटर में)
4	100
5	105
6	115
7	125
8	130
9	135
10	140
11	150
12	160
13	170
14	180
15	185
16	195

What was the increase in the height of the child from the 7th Birthday to the 13th Birthday?

7वें जन्मदिन से लेकर 13वें जन्मदिन तक बच्चे के ऊंचाई में कितनी वृद्धि हुई?

GovtJobsAlert.In

Download More Papers From www.GovtJobsAlert.In

Options:
1) 55 cms
55 से.मी.
2) 50 cms
50 से.मी.
3) 45 cms
45 से.मी.
4) 40 cms
40 से.मी.

Correct Answer: 45 cms
45 से.मी.

Candidate Answer: 45 cms
45 से.मी.

QID : 75 -
Refer the below data table and answer the following Question.

नीचे दिये गए डेटा तालिका के आधार पर निम्नलिखित प्रश्न का उत्तर दें।

Deep Sleep / गहरी नींद में	10
Dreaming / सपना देखते हुए	25
Light sleep / हलकी नींद में	10
Extremely light sleep / बहुत हलकी नींद में	10
Awake / जागते हुए	45

Between 10pm to 6am, a fitness band records the following data. How long was the user in Deep Sleep or was in Extremely light sleep ?

रात के 10 बजे से लेकर सुबह 6 बजे तक एक फिटनेस बैंड निम्न डेटा रिकॉर्ड करता है। उसका उपयोगकर्ता कितने समय तक गहरी नींद में था या बहुत हलकी नींद में था?

Options:
1) 3.1 hours
3.1 घंटे
2) 1.1 hours
1.1 घंटे
3) 1.6 hours
1.6 घंटे
4) 2.1 hours
2.1 घंटे

Correct Answer: 1.6 hours
1.6 घंटे

Candidate Answer: 1.6 hours
1.6 घंटे

QID : 76 - In the following question, out of the four alternatives, select the alternative which best expresses the meaning of the idiom/phrase.

Ignorance is bliss

Options:
1) Lack of knowledge is a curse
2) Sometimes it is better for you if you do not know all the facts
3) Fools believe they know more than the wise
4) To be truly happy one should ignore everything else

Correct Answer: Sometimes it is better for you if you do not know all the facts

Candidate Answer: Lack of knowledge is a curse

QID : 77 - Select the word with the correct spelling.

Options:
1) fidellity
2) befalen
3) probable
4) salwager

Correct Answer: probable

Candidate Answer: probable

GovtJobsAlert.In

Download More Papers From www.GovtJobsAlert.In

Download More Papers From www.GovtJobsAlert.In

QID : 78 - Improve the bracketed part of the sentence.

Varun goes **(for cinema)** every Friday.

Options:
1) to cinema
2) to the cinema
3) in cinema
4) no improvement

Correct Answer: to the cinema

Candidate Answer: to cinema

QID : 79 - In the following question, out of the four alternatives, select the alternative which best expresses the meaning of the idiom/phrase.

Have a blast

Options:
1) A party with very loud music
2) To have peace amidst noise
3) To have a lot of fun
4) An explosion of happiness

Correct Answer: To have a lot of fun

Candidate Answer: An explosion of happiness

QID : 80 - In the following question, a sentence has been given in Active/Passive voice. Out of four alternatives suggested, select the one, which best expresses the same sentence in Passive/Active voice.

It is impossible to do this job.

Options:
1) This job is impossible to be done.
2) This job cannot be done with.
3) No one can do this job.
4) This job cannot be done by anyone.

Correct Answer: This job is impossible to be done.

Candidate Answer: No one can do this job.

QID : 81 - Select the word with the correct spelling.

Options:
1) essoteric
2) manerly
3) sawsages
4) dissolve

Correct Answer: dissolve

Candidate Answer: essoteric

QID : 82 - In the following question, the sentence given with blank to be filled in with an appropriate word. Select the correct alternative out of the four and indicate it by selecting the appropriate option.

This is the time that you need to _____ all your strength.

Options:
1) muster
2) build
3) capture
4) show

Correct Answer: muster

Candidate Answer: show

QID : 83 - In the following question, some part of the sentence may have errors. Find out which part of the sentence has an error and select the appropriate option. If a sentence is free from error, select 'No Error'.

There is renewed sense(A)/of urgency in(B)/completing the project.(C)/No error(D)

Options:
1) There is renewed sense
2) of urgency in
3) completing the project.
4) No error

Correct Answer: There is renewed sense

Candidate Answer: There is renewed sense

QID : 84 - In the following question, out of the four alternatives, select the alternative which is the best substitute of the phrase.

to allay the sorrow or grief

GovtJobsAlert.In

Download More Papers From www.GovtJobsAlert.In

Download More Papers From www.GovtJobsAlert.In

Options:
1) to lament
2) to console
3) distress
4) solace

Correct Answer: to console

Candidate Answer: distress

QID : 85 - In the following question, some part of the sentence may have errors. Find out which part of the sentence has an error and select the appropriate option. If a sentence is free from error, select 'No Error'.

Your motivational speech(A)/ has had the tremendous(B)/ effect on my students.(C)/ No error(D)

Options:
1) Your motivational speech
2) has had the tremendous
3) effect on my students.
4) No error

Correct Answer: has had the tremendous

Candidate Answer: effect on my students.

QID : 86 - Rearrange the parts of the sentence in correct order.

A significant number
P-in the rural non-farm sector
Q-to be created
R-of these jobs will have

Options:
1) QRP
2) RQP
3) PRQ
4) PQR

Correct Answer: RQP

Candidate Answer: RQP

QID : 87 - In the following question, the sentence given with blank to be filled in with an appropriate word. Select the correct alternative out of the four and indicate it by selecting the appropriate option.

The child looked up at her teacher, obviously afraid that she would further _____ her.

Options:
1) revere
2) extol
3) laud
4) chastise

Correct Answer: chastise

Candidate Answer: extol

QID : 88 - In the following question, a sentence has been given in Direct/Indirect speech. Out of the four alternatives suggested, select the one, which best express the same sentence in Indirect/Direct speech.

Jyoti said to her sister, "The RBI is India's central bank".

Options:
1) Jyoti told her sister the RBI was India's central bank.
2) Jyoti told her sister that the RBI was India's central bank.
3) Jyoti told her sister that the RBI is India's central bank.
4) Jyoti told her sister the RBI is India's central bank.

Correct Answer: Jyoti told her sister that the RBI is India's central bank.

Candidate Answer: Jyoti told her sister that the RBI was India's central bank.

QID : 89 - Select the antonym of

escort

Options:
1) entourage
2) cavalier
3) foe
4) convoy

Correct Answer: foe

Candidate Answer: convoy

QID : 90 - Select the synonym of

to permeate

GovtJobsAlert.In

Download More Papers From www.GovtJobsAlert.In

Download More Papers From www.GovtJobsAlert.In

Options:
1) to desiccate
2) to imbue
3) torrid
4) stale

Correct Answer: to imbue

Candidate Answer: stale

QID : 91 - Select the antonym of

demon

Options:
1) spectre
2) angel
3) shadow
4) zombie

Correct Answer: angel

Candidate Answer: [NOT ANSWERED]

QID : 92 - In the following question, out of the four alternatives, select the alternative which is the best substitute of the phrase.

to teach a person to accept a set of beliefs uncritically

Options:
1) to drill
2) to instill
3) to indoctrinate
4) to convince

Correct Answer: to indoctrinate

Candidate Answer: to convince

QID : 93 - Improve the bracketed part of the sentence

Mr. Shah **(is having)** two houses.

Options:
1) has
2) got
3) has been having
4) no improvement

Correct Answer: has

Candidate Answer: got

QID : 94 - Select the synonym of

swine

Options:
1) hog
2) simple
3) immaculate
4) shine

Correct Answer: hog

Candidate Answer: shine

QID : 95 - Rearrange the parts of the sentence in correct order

By doing so, it
P-brought it closer
Q-to cultural and social life
R-has redefined politics and

Options:
1) RPQ
2) RQP
3) PQR
4) QPR

Correct Answer: RPQ

Candidate Answer: RPQ

GovtJobsAlert.In

Download More Papers From www.GovtJobsAlert.In

Download More Papers From www.GovtJobsAlert.In

QID : 96 - In the following passage, some of the words have been left out. Read the passage carefully and select the correct answer for the given blank out of the four alternatives.

Anti-apartheid activist Desmond Tutu is even more hard-headed when he says, "In almost _____ language, the most difficult words are 'I am sorry'." Mr. Tutu adds that _____ reconciliations can only lead to spurious healing. _____ him forgiveness is a wager, an ethical wager on the future of _____ relationship. This is why the few events of apology which stand up to _____ scrutiny deserve to be treasured.

"In almost _____ language, the most difficult words are 'I am sorry'."

Options:
1) each
2) all
3) any
4) every

Correct Answer: every

Candidate Answer: every

QID : 97 - In the following passage, some of the words have been left out. Read the passage carefully and select the correct answer for the given blank out of the four alternatives.

Anti-apartheid activist Desmond Tutu is even more hard-headed when he says, "In almost _____ language, the most difficult words are 'I am sorry'." Mr. Tutu adds that _____ reconciliations can only lead to spurious healing. _____ him forgiveness is a wager, an ethical wager on the future of _____ relationship. This is why the few events of apology which stand up to _____ scrutiny deserve to be treasured.

Mr. Tutu adds that _____ reconciliations can only lead to spurious healing.

Options:
1) artificial
2) phony
3) spurious
4) bogus

Correct Answer: spurious

Candidate Answer: artificial

QID : 98 - In the following passage, some of the words have been left out. Read the passage carefully and select the correct answer for the given blank out of the four alternatives.

Anti-apartheid activist Desmond Tutu is even more hard-headed when he says, "In almost _____ language, the most difficult words are 'I am sorry'." Mr. Tutu adds that _____ reconciliations can only lead to spurious healing. _____ him forgiveness is a wager, an ethical wager on the future of _____ relationship. This is why the few events of apology which stand up to _____ scrutiny deserve to be treasured.

_____ him forgiveness is a wager

Options:
1) For
2) To
3) By
4) About

Correct Answer: For

Candidate Answer: By

QID : 99 - In the following passage, some of the words have been left out. Read the passage carefully and select the correct answer for the given blank out of the four alternatives.

Anti-apartheid activist Desmond Tutu is even more hard-headed when he says, "In almost _____ language, the most difficult words are 'I am sorry'." Mr. Tutu adds that _____ reconciliations can only lead to spurious healing. _____ him forgiveness is a wager, an ethical wager on the future of _____ relationship. This is why the few events of apology which stand up to _____ scrutiny deserve to be treasured.

an ethical wager on the future of _____ relationship.

Options:
1) the
2) a
3) them
4) him

Correct Answer: a

Candidate Answer: a

QID : 100 - In the following passage, some of the words have been left out. Read the passage carefully and select the correct answer for the given blank out of the four alternatives.

Anti-apartheid activist Desmond Tutu is even more hard-headed when he says, "In almost _____ language, the most difficult words are 'I am sorry'." Mr. Tutu adds that _____ reconciliations can only lead to spurious healing. _____ him forgiveness is a wager, an ethical wager on the future of _____ relationship. This is why the few events of apology which stand up to _____ scrutiny deserve to be treasured.

This is why the few events of apology which stand up to _____ scrutiny deserve to be treasured.

GovtJobsAlert.In

Download More Papers From www.GovtJobsAlert.In

Download More Papers From www.GovtJobsAlert.In

Options:
1) critical
2) sarcastic
3) cynical
4) satirical

Correct Answer: critical

Candidate Answer: critical

GovtJobsAlert.In

Download More Papers From www.GovtJobsAlert.In