Download More Papers From www.GovtJobsAlert.In

Staff Selection Commission
(Government Of India)

QID : 201 - Select the related word/letters/number from the given alternatives.

Clever : Smart : : Apprehensive : ?

दिए गए विकल्पों में से संबंधित शब्द/अक्षर/संख्या को चुनिए।

चालाक : तीव्रबुद्धि : : आशंकावान : ?

Options:
1) Calm
शांत
2) Certain
निश्चित
3) Worried
चिंतित
4) Confident
विश्वासपूर्ण

Correct Answer: Worried
चिंतित

Candidate Answer: Worried
चिंतित

QID : 202 - Select the related word/letters/number from the given alternatives.

EF : UV : : IJ : ?

दिए गए विकल्पों में से संबंधित शब्द/अक्षर/संख्या को चुनिए।

EF : UV : : IJ : ?

Options:
1) RQ
2) QR
3) PQ
4) NO

Correct Answer: QR

Candidate Answer: PQ

QID : 203 - Select the related word/letters/number from the given alternatives.

QC : T : : SF : ?

दिए गए विकल्पों में से संबंधित शब्द/अक्षर/संख्या को चुनिए।

QC : T : : SF : ?

Options:
1) C
2) Y
3) Z
4) X

Correct Answer: Y

Candidate Answer: Y

GovtJobsAlert.In

Download More Papers From www.GovtJobsAlert.In

Download More Papers From www.GovtJobsAlert.In

QID : 204 - Select the related word/letters/number from the given alternatives.

731 : 11 : : 991 : ?

दिए गए विकल्पों में से संबंधित शब्द/अक्षर/संख्या को चुनिए।

731 : 11 : : 991 : ?

Options:
1) 19
2) 13
3) 17
4) 23

Correct Answer: 19

Candidate Answer: 19

QID : 205 - Select the odd word/letters/number/number pair from the given alternatives.

दिए गए विकल्पों में से विषम शब्द/अक्षर/संख्या/संख्या युग्म चुनिए।

Options:
1) Veena
वीणा
2) Guitar
गिटार
3) Violin
सारंगी
4) Flute
बांसुरी

Correct Answer: Flute
बांसुरी

Candidate Answer: Guitar
गिटार

QID : 206 - Select the odd word/letters/number/number pair from the given alternatives.

दिए गए विकल्पों में से विषम शब्द/अक्षर/संख्या/संख्या युग्म चुनिए।

Options:
1) KP

2) DW

3) GT

4) CW

Correct Answer: CW

Candidate Answer: CW

QID : 207 - Select the odd word/letters/number/number pair from the given alternatives.

दिए गए विकल्पों में से विषम शब्द/अक्षर/संख्या/संख्या युग्म चुनिए।

Options:
1) 306

2) 270

3) 132

4) 240

Correct Answer: 270

Candidate Answer: 306

QID : 208 - Select the odd word/letters/number/number pair from the given alternatives.

दिए गए विकल्पों में से विषम शब्द/अक्षर/संख्या/संख्या युग्म चुनिए।

GovtJobsAlert.In

Download More Papers From www.GovtJobsAlert.In

Download More Papers From www.GovtJobsAlert.In

Options:
1) 8324

2) 9344

3) 7213

4) 8729
Correct Answer: 9344
Candidate Answer: 8729

QID : 209 - A series is given with one term missing. Choose the correct alternative from the given ones that will complete the series.

? , Planning, Strategy, Marketing, Finance

एक अनुक्रम दिया गया है, जिसमें से एक पद लुप्त है। दिए गए विकल्पों में से वह विकल्प चुनिए, जो अनुक्रम को पूरा करे।

? , योजना, रणनीति, विपणन, वित्त

Options:
1) Realization
प्राप्ति
2) Success
सफलता
3) Failure
असफलता
4) Idea
विचार
Correct Answer: Idea
विचार
Candidate Answer: Idea
विचार

QID : 210 - A series is given with one term missing. Choose the correct alternative from the given ones that will complete the series.
5, 30, 155, 780, ?

एक अनुक्रम दिया गया है, जिसमें से एक पद लुप्त है। दिए गए विकल्पों में से वह विकल्प चुनिए, जो अनुक्रम को पूरा करे।
5, 30, 155, 780, ?
Options:
1) 4000

2) 3905

3) 3900

4) 3805
Correct Answer: 3905
Candidate Answer: 3905

QID : 211 - In the following question, two statements are given each followed by two conclusions I and II. You have to consider the statements to be true even if they seem to be at variance from commonly known facts. You have to decide which of the given conclusions, if any, follows from the given statements.

Statements:
(I) Some bags are hot.
(II) All hot things are cakes.

Conclusion:
(I) All cakes are bags.
(II) All bags are cakes.

निम्नलिखित प्रश्न में, दो कथन दिए गए हैं जिनके आगे दो निष्कर्ष I और II निकाले गए हैं। आपको मानना है कि कथन सत्य है चाहे वे सामान्यतः ज्ञात तथ्यों से भिन्न प्रतीत होते हों। आपको निर्णय करना है कि दिए गए निष्कर्षों में से कौन सा/कौन से निश्चित रूप से कथनों द्वारा सही निकाला जा सकता है/सकते हैं, यदि कोई हो।

कथनः
(I) कुछ थैले गर्म हैं।
(II) सभी गर्म चीज़ें केक हैं।

निष्कर्षः
(I) सभी केक थैले हैं।
(II) सभी थैले केक हैं।

Download More Papers From www.GovtJobsAlert.In

Download More Papers From www.GovtJobsAlert.In

Options:
1) Conclusion I follows
निष्कर्ष I सही है
2) Conclusion II follows
निष्कर्ष II सही है
3) Neither I nor II follows
न तो I और न ही II सही हैं
4) Both I and II follows
I और II दोनों सही हैं
Correct Answer: Neither I nor II follows
न तो I और न ही II सही हैं
Candidate Answer: Conclusion II follows
निष्कर्ष II सही है

QID : 212 - A series is given with one term missing. Choose the correct alternative from the given ones that will complete the series.

PRQ, TVU, YAZ, ?

एक अनुक्रम दिया गया है, जिसमें से एक पद लुप्त है। दिए गए विकल्पों में से वह विकल्प चुनिए, जो अनुक्रम को पूरा करे।

PRQ, TVU, YAZ, ?
Options:
1) BDC
2) EGF
3) DFE
4) EFG
Correct Answer: EGF
Candidate Answer: DFE

QID : 213 - A series is given with one term missing. Choose the correct alternative from the given ones that will complete the series.

ML, HG, CB, ?

एक अनुक्रम दिया गया है, जिसमें से एक पद लुप्त है। दिए गए विकल्पों में से वह विकल्प चुनिए, जो अनुक्रम को पूरा करे।

ML, HG, CB, ?
Options:
1) XW
2) YX
3) WX
4) ZY
Correct Answer: XW
Candidate Answer: XW

QID : 214 - Ravi had five subjects in his final examination. The maximum marks in each subject are 100. If his percentage in four subjects is 80, and he scores 65 marks in the fifth subject, determine his overall percentage for the five subjects.

रवि के अपने अंतिम परीक्षा में पाँच विषय थे। प्रत्येक विषय में अधिकतम पूर्णांक 100 है। यदि चार विषयों में उसका प्रतिशत 80 रहा, और पांचवे विषय में उसने 65 अंक प्राप्त किए, तो पाँच विषयों के लिए कुल प्रतिशत का निर्धारण करें।
Options:
1) 0.78

2) 0.79

3) 0.77

4) 0.76
Correct Answer: 0.77
Candidate Answer: 0.77

GovtJobsAlert.In

Download More Papers From www.GovtJobsAlert.In

Download More Papers From www.GovtJobsAlert.In

QID : 215 - Arrange the given words in the sequence in which they occur in the dictionary.

i. Worrisome
ii. Wonderful
iii. Worthless
iv. Wrong

निम्नलिखित शब्दों को शब्दकोश में आने वाले क्रम के अनुसार लिखें।

i. Worrisome
ii. Wonderful
iii. Worthless
iv. Wrong

Options:
1) iv, ii, i, iii
2) ii, i, iii, iv
3) ii, iii, i, iv
4) i, iv, iii, ii

Correct Answer: ii, i, iii, iv
Candidate Answer: ii, i, iii, iv

QID : 216 - In a certain code language, "HAMMER" is written as "MAHERM". How is "MATTER" written in that code language?

एक विशिष्ट कोड भाषा में "HAMMER" को "MAHERM" लिखा जाता है । इस कोड भाषा में "MATTER" को किस प्रकार लिखा जाएगा?

Options:
1) TREMAT

2) TAMERT

3) TAEMRT

4) TARMET

Correct Answer: TAMERT
Candidate Answer: TAMERT

QID : 217 -
In the following question, select the missing number from the given series.
निम्नलिखित प्रश्न में दिए गए विकल्पों में से लुप्त अंक ज्ञात कीजिए।

81	3	90
60	4	76
49	6	?

Options:
1) 78

2) 80

3) 85

4) 75

Correct Answer: 85
Candidate Answer: 78

QID : 218 - If "*" denotes "added to", "&" denotes "divided by", "@" denotes "multiplied by" and "%" denotes "subtracted from", then 399 & 19 @ 21 % 41 * 100 = ?

यदि "*" का अर्थ "जोड़" है, "&" का अर्थ "भाग" है, "@" का अर्थ "गुणा" है और "%" का अर्थ "घटाना" है, तो 399 & 19 @ 21 % 41 * 100 = ?

Options:
1) 458

2) 500

3) 575

4) 600

Correct Answer: 500
Candidate Answer: 500

Download More Papers From www.GovtJobsAlert.In

Download More Papers From www.GovtJobsAlert.In

QID : 219 - In the following question, which one set of letters when sequentially placed at the gaps in the given letter series shall complete it?

P_P_RPQ_S_Q_ST

निम्नलिखित प्रश्न में अक्षरों का कौन सा समूह खाली स्थानों पर क्रमवार रखने से दी गई अक्षर श्रृंखला को पूरा करेगा?

P_P_RPQ_S_Q_ST

Options:
1) QRQPR
2) QQRPR
3) PQPRR
4) PRQRQ

Correct Answer: QQRPR

Candidate Answer: PRQRQ

QID : 220 - Vineet travels 16 km towards west, turns right and travels another 12 km, and then takes two successive left turns covering 8 km and 12 km in each turn respectively. Finally, he takes a right turn and travels 10km further. How far is he now from his original position ?

विनीत 16 कि.मी. पश्चिम में चलता है, दाएं मुड़ता है और 12 कि.मी. चलता है, और फिर लगातार दो बार बाएं मुड़ता है जिसमें क्रमशः 8 कि.मी. और 12 कि.मी. की दूरी तय करता है। अंत में, वह दाहिने मुड़ता है और आगे 10 कि.मी. की दूरी तय करता है। अब वह, अपने मूल स्थान से कितनी दूरी पर है?

Options:
1) 46 km
46 कि.मी.
2) 34 km
34 कि.मी.
3) 40 km
40 कि.मी.
4) 38 km
38 कि.मी.

Correct Answer: 34 km
34 कि.मी.

Candidate Answer: 34 km
34 कि.मी.

QID : 221 -

A word is represented by only one set of numbers as given in any one of the alternatives. The sets of numbers given in the alternatives are represented by two classes of alphabets as shown in the given two matrices. The columns and rows of Matrix-I are numbered from 0 to 4 and that of Matrix-II are numbered from 5 to 9. A letter from these matrices can be represented first by its row and next by its column, for example, T can be represented by 20, 65, etc., and R can be represented by 43, 57, etc. Similarly, you have to identify the set for the word MIND.

एक शब्द केवल एक संख्या-समूह द्वारा दर्शाया गया है, जैसा कि विकल्पों में से किसी एक में दिया गया है। विकल्पों में दिए गए संख्या-समूह अक्षरों के दो वर्गों द्वारा दर्शाए गए हैं, जैसा कि दिए गए दो आव्युहों में है। आव्यूह-I के स्तम्भ और पंक्ति की संख्या 0 से 4 है और आव्यूह-II की 5 से 9। इन आव्यूहों से एक अक्षर को पहले उसकी पंक्ति और बाद में स्तम्भ संख्या द्वारा दर्शाया जा सकता है। उदाहरण के लिए T को 20, 65 आदि द्वारा दर्शाया जा सकता है तथा R को 43, 57 आदि द्वारा दर्शाया जा सकता है। इसी तरह से आपको प्रश्न में दिए शब्द MIND के लिए समूह को पहचानना है।

Matrix-I
आव्यूह – I

	0	1	2	3	4
0	T	R	V	M	N
1	V	U	N	H	M
2	T	N	S	G	L
3	M	V	P	L	M
4	V	T	L	R	N

Matrix-II
आव्यूह – II

	5	6	7	8	9
5	E	D	R	I	H
6	T	R	I	O	D
7	O	S	Y	D	R
8	S	I	O	M	D
9	G	A	I	R	O

Download More Papers From www.GovtJobsAlert.In

Download More Papers From www.GovtJobsAlert.In

Options:
1) 03, 58, 33, 56

2) 14, 75, 12, 89

3) 30, 86, 21, 78

4) 34, 97, 44, 98
Correct Answer: 30, 86, 21, 78
Candidate Answer: 30, 86, 21, 78

QID : 222 - Pointing to a photograph of a lady, Vishal says, "She is the sister-in-law of my grandfather's daughter". How is the lady in the photograph related to Vishal?

एक महिला की तसवीर की ओर संकेत करते हुए, विशाल ने कहा, "वह मेरे दादा की बेटी की ननद/भाभी है।" तस्वीर की महिला, विशाल से कैसे संबंधित है?

Options:
1) Mother
माँ
2) Aunt
चाची
3) Sister
बहन
4) Cannot be determined
निर्धारित नहीं किया जा सकता
Correct Answer: Cannot be determined
निर्धारित नहीं किया जा सकता
Candidate Answer: Mother
माँ

QID : 223 -
If a mirror is placed on the line MN, then which of the answer figures is the right image of the given figure?

यदि एक दर्पण को MN रेखा पर रखा जाए, तो दी गई उत्तर आकृतियों में से कौन सी आकृति प्रश्न आकृति की सही प्रतिबिम्ब होगी?

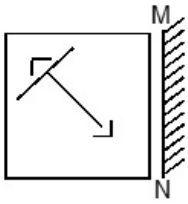

GovtJobsAlert.In

Download More Papers From www.GovtJobsAlert.In

Download More Papers From www.GovtJobsAlert.In

Options:

1)

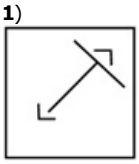

2)

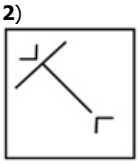

3)

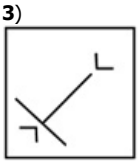

4)

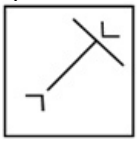

Correct Answer:

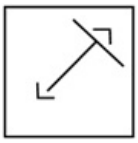

Candidate Answer:

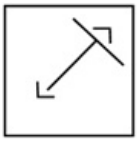

QID : 224 - Identify the diagram that best represents the relationship among the given classes.

Girl, Singer, Politician

वह आरेख चुनिए जो नीचे दिए गए वर्गों के बीच के संबंध का सही निरूपण करता है।

लड़की, गायक, राजनीतिज्ञ

GovtJobsAlert.In

Download More Papers From www.GovtJobsAlert.In

Download More Papers From www.GovtJobsAlert.In

Options:

1)

2)

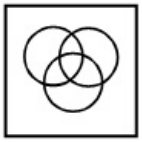

3)

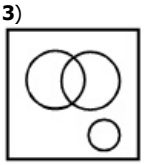

4)

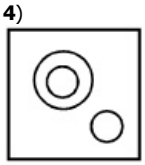

Correct Answer:

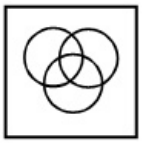

Candidate Answer:

QID : 225 -

A piece of paper is folded and punched as shown below in the question figures. From the given answer figures, indicate how it will appear when opened.

नीचे के प्रश्न आकृतियों में दिखाए अनुसार कागज को मोड़कर छेदने तथा खोलने के बाद वह किस उत्तर आकृति जैसा दिखाई देगा?

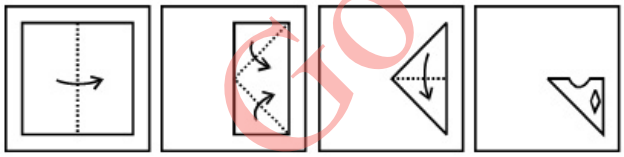

GovtJobsAlert.In

Download More Papers From www.GovtJobsAlert.In

Download More Papers From www.GovtJobsAlert.In

Options:
1)

2)
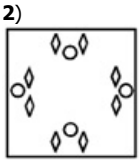

3)
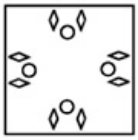

4)


Correct Answer:


Candidate Answer:


QID : 226 - Garden inside the Taj Mahal is known as _____.

ताजमहल के अंदर के उद्यान को _____ के रूप में जाना जाता है।

Options:
1) Mughal Garden
मुगल गार्डन
2) Taj Bageecha
ताज बगीचा
3) Taj Mahal Garden
ताजमहल गार्डन
4) Mahal Bageecha
महल बगीचा

Correct Answer: Mughal Garden
मुगल गार्डन

Candidate Answer: Mughal Garden
मुगल गार्डन

QID : 227 - How many Filmfare awards has Shahrukh Khan won?

शाहरूख खान को कितने फिल्मफेयर पुरस्कार प्राप्त हुए हैं?

GovtJobsAlert.In

Download More Papers From www.GovtJobsAlert.In

Download More Papers From www.GovtJobsAlert.In

Options:
1) 5

2) 10

3) 15

4) 20
Correct Answer: 15
Candidate Answer: 5

QID : 228 - Which drug is used to cure Glaucoma?

मोतियाबिंद के इलाज के लिए किस दवा का प्रयोग किया जाता है?

Options:
1) Fexofenadine
फेक्सोफेनाडाईन
2) Ketoconazole
कीटोकोनाज़ोल
3) Latanoprost
लेटनोप्रोस्ट
4) Ibuprofen
इबुप्रोफेन
Correct Answer: Latanoprost
लेटनोप्रोस्ट
Candidate Answer: Fexofenadine
फेक्सोफेनाडाईन

QID : 229 - _____ are a group of chemicals that influence cell division and shoot formation.

_____ रसायनों का एक समूह है, जो कोशिका विभाजन और पौधे के गठन को प्रभावित करते हैं।

Options:
1) Cytokinins
सायटोकायनिसिस
2) Gibberellins
गिबरलिंस
3) Domins
डोमिंस
4) Auxins
औक्सिन
Correct Answer: Cytokinins
सायटोकायनिसिस
Candidate Answer: Cytokinins
सायटोकायनिसिस

QID : 230 - Lungs are the primary organs of _____.

फेफड़े _____ के प्राथमिक अंग हैं।

Options:
1) Digestion
पाचन
2) Constipation
कब्ज
3) Perspiration
पसीना
4) Respiration
श्वसन
Correct Answer: Respiration
श्वसन
Candidate Answer: Respiration
श्वसन

QID : 231 - Who discovered Oxygen?

ऑक्सीजन की खोज किसने की थी?

GovtJobsAlert.In

Download More Papers From www.GovtJobsAlert.In

Download More Papers From www.GovtJobsAlert.In

Options:
1) Carl Scheele
कार्ल शीले
2) Hooke
हुक
3) Heisenberg
हीजनबर्ग
4) Williams
विलियम्स

Correct Answer: Carl Scheele
कार्ल शीले

Candidate Answer: Heisenberg
हीजनबर्ग

QID : 232 - Electrons in the highest energy level of an atom are called _____.

किसी परमाणु के उच्चतम ऊर्जा स्तर में स्थित इलेक्ट्रॉनों को _____ कहा जाता है।

Options:
1) valence protons
संयोजकता प्रोटोंस
2) orbital protons
कक्षीय प्रोटोंस
3) valence electrons
संयोजकता इलेक्ट्रोन्स
4) orbital electrons
कक्षीय इलेक्ट्रोन्स

Correct Answer: valence electrons
संयोजकता इलेक्ट्रोन्स

Candidate Answer: valence protons
संयोजकता प्रोटोंस

QID : 233 - How many KB is equal to 1 GB?

1 जीबी के बराबर कितने केबी होते हैं?

Options:
1) 1024

2) 256 x 1024

3) 1024 x 1024

4) 1024 x 1024 x 128
Correct Answer: 1024 x 1024
Candidate Answer: 1024 x 1024

QID : 234 - The Queen who had the nick name "Bloody Mary"

वह रानी जिसका उपनाम "ब्लडी मैरी" था

Options:
1) Elizabeth
एलिजाबेथ
2) Victoria
विक्टोरिया
3) Mary I
मैरी प्रथम
4) Ruth
रुथ

Correct Answer: Mary I
मैरी प्रथम

Candidate Answer: Mary I
मैरी प्रथम

QID : 235 - Find arc elasticity of demand, if quantity demanded falls from 4600 to 4200 when price of the item is increased from Rs 960 to Rs 1000?

जब एक वस्तु का मूल्य बढ़कर 960 रु से 1000 रु हो जाता है, और यदि मांग की मात्रा 4600 से 4200 हो जाए, तो मांग की चाप लोच का पता लगाएं।

Download More Papers From www.GovtJobsAlert.In

Download More Papers From www.GovtJobsAlert.In

Options:
1) -2.23

2) -2.09

3) 2.23

4) 2.09
Correct Answer: -2.23
Candidate Answer: -2.23

QID : 236 - Match the characteristics with their market structure:
(a) Difficult entry (often due to economies of scale)
(b) Can sell as much as it can at market price

विशेषताओं का उनकी बाज़ार संरचना के साथ मिलान करें:
(a) कठिन प्रवेश (अक्सर पैमाने की अर्थव्यवस्थाओं के कारण)
(b) बाजार मूल्य पर ज्यादा से ज्यादा बेच सकते हैं

Options:
1) (a) Monopolistic Competition, (b) Pure Monopoly
(a) एकाधिकार प्रतियोगिता, (b) विशुद्ध एकाधिकार
2) (a) Pure Monopoly, (b) Oligopoly
(a) विशुद्ध एकाधिकार, (b) अल्पाधिकार
3) (a) Oligopoly, (b) Pure Competition
(a) अल्पाधिकार, (b) विशुद्ध प्रतियोगिता
4) (a) Pure Competition, (b) Oligopoly
(a) विशुद्ध प्रतियोगिता, (b) अल्पाधिकार
Correct Answer: (a) Oligopoly, (b) Pure Competition
(a) अल्पाधिकार, (b) विशुद्ध प्रतियोगिता
Candidate Answer: (a) Monopolistic Competition, (b) Pure Monopoly
(a) एकाधिकार प्रतियोगिता, (b) विशुद्ध एकाधिकार

QID : 237 - Which of the following states has the maximum area of Mangrove forest?

निम्नलिखित में से किस राज्य में मैंग्रोव वन का सबसे अधिक क्षेत्र है?

Options:
1) Rajasthan
राजस्थान
2) Uttar Pradesh
उत्तरप्रदेश
3) Sikkim
सिक्किम
4) West Bengal
प. बंगाल
Correct Answer: West Bengal
प. बंगाल
Candidate Answer: Sikkim
सिक्किम

QID : 238 - Manas Tiger Reserve is in which state?

किस राज्य में मानस टाइगर रिजर्व है?

Options:
1) Telangana
तेलंगाना
2) Madhya Pradesh
मध्यप्रदेश
3) Assam
असम
4) Kerala
केरल
Correct Answer: Assam
असम
Candidate Answer: Assam
असम

GovtJobsAlert.In

Download More Papers From www.GovtJobsAlert.In

Download More Papers From www.GovtJobsAlert.In

QID : 239 - First man to go into space was

अंतरिक्ष में जाने वाले प्रथम व्यक्ति का नाम क्या है?

Options:
1) Roald Amundsen
रोअल्ड एमंडसेन
2) Reynalt Mayor
रेनॉल्ट मेयर
3) Robert Peary
रॉबर्ट पियरी
4) Major Yuri Gagarin
मेजर यूरी गागरिन

Correct Answer: Major Yuri Gagarin
मेजर यूरी गागरिन

Candidate Answer: Major Yuri Gagarin
मेजर यूरी गागरिन

QID : 240 - India has how many states?

भारत में कितने राज्य हैं?

Options:
1) 26

2) 27

3) 29

4) 28

Correct Answer: 29
Candidate Answer: 27

QID : 241 - Which country is the largest producer of Wheat?

कौन सा देश गेहूं का सबसे बड़ा उत्पादक है?

Options:
1) Brazil
ब्राजील
2) United States
यूनाईटेड स्टेट्स
3) France
फ्रांस
4) China
चीन

Correct Answer: China
चीन

Candidate Answer: United States
यूनाईटेड स्टेट्स

QID : 242 - Noor Jahan was wife of which Mughal Emperor?

नूरजहां किस मुगल सम्राट की पत्नी थी?

Options:
1) Akbar
अकबर
2) Aurangzeb
औरंगजेब
3) Jahangir
जहांगीर
4) Shah Jahan
शाहजहाँ

Correct Answer: Jahangir
जहांगीर

Candidate Answer: Aurangzeb
औरंगजेब

GovtJobsAlert.In

Download More Papers From www.GovtJobsAlert.In

Download More Papers From www.GovtJobsAlert.In

QID : 243 - Battle of Tarain was fought in the year _____?

तराइन का युद्ध _____ वर्ष में लड़ा गया था?

Options:
1) 1526

2) 1757

3) 1191

4) 1857
Correct Answer: 1191
Candidate Answer: 1191

QID : 244 - Who invented the Lightning Rod in 1749?

वर्ष 1749 में तड़ित-चालक का अविष्कार किसने किया था?

Options:
1) Benjamin Franklin
बेंजामिन फ्रेंकलिन
2) Nikola Tesla
निकोला टेस्ला
3) Eli Whitney
ऐली व्हिटनी
4) George Washington
जॉर्ज वाशिंगटन

Correct Answer: Benjamin Franklin
बेंजामिन फ्रेंकलिन

Candidate Answer: Eli Whitney
ऐली व्हिटनी

QID : 245 - An object is in static equilibrium when it is _____.

एक वस्तु उस समय स्थिर संतुलन में होती है, जब वह

Options:
1) at rest
विश्राम की स्थिति में होती है।
2) moving in a circular path
एक वृत्तीय मार्ग पर चलती रहती है।
3) moving with uniform velocity
एक समान वेग से चलती रहती है।
4) accelerating at high speed
उच्च गति पर त्वरित होती है।

Correct Answer: at rest
विश्राम की स्थिति में होती है।

Candidate Answer: at rest
विश्राम की स्थिति में होती है।

QID : 246 - _____ through a plane surface is the product of the magnetic flux density normal to the surface and the area of the surface.

_____ एक समतल सतह के माध्यम से सतह के लिए सामान्य चुंबकीय प्रवाह घनत्व और सतह के क्षेत्र का गुणज है।

Options:
1) Magnetic susceptibility
चुंबकीय अतिसंवेदनशीलता
2) Magnetic resonance
चुंबकीय अनुकंपन
3) Magnetic flux
चुंबकीय प्रवाह
4) Magnetic pulse
चुंबकीय पल्स

Correct Answer: Magnetic flux
चुंबकीय प्रवाह

Candidate Answer: Magnetic resonance
चुंबकीय अनुकंपन

GovtJobsAlert.In

Download More Papers From www.GovtJobsAlert.In

Download More Papers From www.GovtJobsAlert.In

QID : 247 - First country to make constitution is _____.

संविधान का निर्माण करने वाला प्रथम देश _____ है।

Options:
1) India
भारत
2) England
इंग्लैंड
3) USA
यू एस ए
4) Sri Lanka
श्रीलंका

Correct Answer: USA
यू एस ए

Candidate Answer: England
इंग्लैंड

QID : 248 - The number of parliamentary seats (Lok Sabha) of Chandigarh is

चंडीगढ़ की संसदीय सीटों (लोक सभा) की संख्या कितनी है?

Options:
1) 1

2) 6

3) 11

4) 15

Correct Answer: 1
Candidate Answer: 6

QID : 249 - Which country won the ICC Under-19 Cricket World Cup in 2016?

किस देश ने 2016 में ऑय सी सी अंडर-19 क्रिकेट वर्ल्ड कप जीता था?

Options:
1) Australia
ऑस्ट्रेलिया
2) West Indies
वेस्ट इंडिज
3) Srilanka
श्रीलंका
4) South Africa
दक्षिण अफ्रीका

Correct Answer: West Indies
वेस्ट इंडिज

Candidate Answer: West Indies
वेस्ट इंडिज

QID : 250 - "Malgudi Days" was written by _____.

"मालगुडी डेज" _____ द्वारा लिखा गया था।

Options:
1) Vijay Krishna Acharya
विजय कृष्ण आचार्य
2) Rajat Arora
रजत अरोरा
3) Mrinal Jha
मृणाल झा
4) RK Narayan
आर के नारायण

Correct Answer: RK Narayan
आर के नारायण

Candidate Answer: RK Narayan
आर के नारायण

GovtJobsAlert.In

Download More Papers From www.GovtJobsAlert.In

Download More Papers From www.GovtJobsAlert.In

QID : 251 - Reflection of the point (4,-6) in the origin is

बिंदु (4,-6) का प्रतिबिंब मूल बिन्दु में क्या होगा?

Options:
1) (4,6)
2) (-4,-6)
3) (-4,6)
4) (4,-6)

Correct Answer: (-4,6)

Candidate Answer: (-4,-6)

QID : 252 - The reciprocal of the sum of the reciprocals of 2/9 and 7/10 is

2/9 और 7/10 दोनों के व्युत्क्रमानुपाती के योग का व्युत्क्रमानुपाती क्या है?

Options:
1) 14/83

2) 83/14

3) 90/83

4) 83/90

Correct Answer: 14/83

Candidate Answer: 14/83

QID : 253 - What is the equation of the line whose y-intercept is 4 and making an angle of 45° with the positive x-axis?

y-अक्ष से बिंदु 4 पर मिलने वाली और धनात्मक x-अक्ष के साथ 45° का कोण बनाने वाली रेखा का समीकरण क्या होगा?

Options:
1) x + y = -4
2) x - y = 4
3) x + y = 4
4) x - y = -4

Correct Answer: x - y = -4

Candidate Answer: x - y = 4

QID : 254 - What is the value of $(\sin A - 2\sin^3 A)/(2\cos^3 A - \cos A)$?

$(\sin A - 2\sin^3 A)/(2\cos^3 A - \cos A)$ का मान क्या है?

Options:
1) cotA
2) cosecA
3) secA
4) tanA

Correct Answer: tanA

Candidate Answer: cotA

QID : 255 - If 5x -5(3x - 2) < 4x - 1 < 2 + 2x, then x can take which of the following values?

यदि 5x -5(3x - 2) < 4x - 1 <2 + 2x है, तो x का मान होगा?

Options:
1) 2
2) 1
3) -1
4) -2

Correct Answer: 1

Candidate Answer: -2

QID : 256 - Simplify
(533bxaz)/(41ab)

हल कीजिये
(533bxaz)/(41ab)

Options:
1) 17xzb
2) 19xz
3) 13xz
4) 31ab

Correct Answer: 13xz

Download More Papers From www.GovtJobsAlert.In

Download More Papers From www.GovtJobsAlert.In

Candidate Answer: 13xz

QID : 257 - If x - y = 7 and xy = 32, then value of $(x^2 + y^2)$ is

यदि x - y = 7 और xy = 32 हैं, तो $(x^2 + y^2)$ का मान क्या होगा?

Options:
1) 49
2) 64
3) 113
4) 15

Correct Answer: 113

Candidate Answer: 113

QID : 258 - A wholesaler sells a watch to a retailer at a profit of 33% and the retailer sells it to a customer at a loss of 20%. If the customer pays Rs 2,181.2, what had it cost the wholesaler?

एक थोक व्यापारी एक खुदरा व्यापरी को एक घड़ी 33% लाभ के साथ बेच देता है और खुदरा व्यापारी उसे ग्राहक को 20% हानि के साथ बेच देता है। यदि ग्राहक 2,181.2 रु का भुगतान करता है, तो थोक व्यापारी की लागत क्या थी?

Options:
1) Rs 2050
2050 रु
2) Rs 2320
2320 रु
3) Rs 2712
2712 रु
4) Rs 1780
1780 रु

Correct Answer: Rs 2050
2050 रु

Candidate Answer: Rs 2050
2050 रु

QID : 259 - Product of digits of a 2-digit number is 12. If we add 36 to the number, the new number obtained is a number formed by interchange of the digits. What is the number.

एक 2 अंकों वाली संख्या के अंकों का गुणनफल 12 है। यदि हम संख्या में 36 जोड़ दें, तो प्राप्त नई संख्या अंकों को इंटरचेंज कर बनी है। वह संख्या क्या है?

Options:
1) 62

2) 34

3) 26

4) 43

Correct Answer: 26

Candidate Answer: 34

QID : 260 - If cosec π/4 - sin π/3 = x, then the value of x is

यदि cosec π/4 - sin π/3 = x हो, तो x का मान क्या है?

Options:
1) 4/√3
2) (2√2-√3)/2
3) (1-√3)/√3
4) √3+2

Correct Answer: (2√2-√3)/2

Candidate Answer: (2√2-√3)/2

QID : 261 - A man travels 404 kilometres in partly by rail and steamer. He spends 10 hours more time on steamer. If the speed of the steamer is 30 km/hr and the velocity of rail is 50 km/hr, how much distance does he cover by steamer?

एक आदमी 404 कि.मी. की यात्रा आंशिक रुप से रेल द्वारा और जहाज द्वारा पूरी करता है। वह जहाज पर 10 घंटे अधिक समय खर्च करता है। यदि जहाज की गति 30 कि.मी./घंटा है और रेलगाड़ी की गति 50 कि.मी./घंटा है, वह जहाज से कितनी दूरी तय करता है?

Download More Papers From www.GovtJobsAlert.In

Download More Papers From www.GovtJobsAlert.In

Options:
1) 407 km
407 कि.मी.
2) 509 km
509 कि.मी.
3) 610 km
610 कि.मी.
4) 339 km
339 कि.मी.

Correct Answer: 339 km
339 कि.मी.

Candidate Answer: 339 km
339 कि.मी.

QID : 262 - If $\sqrt{(\sec^2 A - 1)}/\sec A = x$, then the value of x is

यदि $\sqrt{(\sec^2 A - 1)}/\sec A = x$, हो तो x का क्या मान है?

Options:
1) cosecA

2) cosA

3) sinA

4) tanA

Correct Answer: sinA
Candidate Answer: tanA

QID : 263 - A solid right circular cone of radius 4 cm and height 7 cm is put inside a cylindrical vessel of radius 5 cm and height 8 cm. How much water in cubic cm will be required to fill the cylindrical vessel completely?

4 से.मी. की त्रिज्या और 7 से.मी. की ऊंचाई वाले एक ठोस समकोण वृत्ताकार शंकु को 5 से.मी. त्रिज्या और 8 से.मी. की ऊंचाई वाले एक बेलनाकार बर्तन के अंदर डाल दिया जाता है। बेलनाकार बर्तन को पूरी तरह से भरने के लिए घन से.मी. में कितना पानी आवश्यक होगा?

Options:
1) 1022.48 cubic cms
1022.48 घन से.मी.
2) 1533.72 cubic cms
1533.72 घन से.मी.
3) 511.24 cubic cms
511.24 घन से.मी.
4) 255.62 cubic cms
255.62 घन से.मी.

Correct Answer: 511.24 cubic cms
511.24 घन से.मी.

Candidate Answer: 1022.48 cubic cms
1022.48 घन से.मी.

QID : 264 - If the amount received at the end of 2nd and 3rd year at Compound Interest on a certain Principal is Rs 24200, and Rs 26620 respectively, what is the rate of interest?

यदि किसी मूलधन पर चक्रवृद्धि ब्याज पर दूसरे और तीसरे वर्ष प्राप्त होने वाली राशि क्रमानुसार 24200 और 26620 रु है, तो ब्याज दर कितनी है?

Options:
1) 10 percent
10 प्रतिशत
2) 5 percent
5 प्रतिशत
3) 20 percent
20 प्रतिशत
4) 16 percent
16 प्रतिशत

Correct Answer: 10 percent
10 प्रतिशत

Candidate Answer: 16 percent
16 प्रतिशत

GovtJobsAlert.In

Download More Papers From www.GovtJobsAlert.In

Download More Papers From www.GovtJobsAlert.In

QID : 265 - Two numbers are 50% and 80% lesser than a third number. By how much percent is the second number to be enhanced to make it equal to the first number?

दो संख्याएँ एक तीसरी संख्या की तुलना में 50% और 80% कम हैं। दूसरी संख्या को पहली संख्या के बराबर करने के लिए कितने प्रतिशत बढ़ाना होगा?

Options:
1) 150 percent
150 प्रतिशत
2) 60 percent
60 प्रतिशत
3) 30 percent
30 प्रतिशत
4) 37.5 percent
37.5 प्रतिशत

Correct Answer: 150 percent
150 प्रतिशत

Candidate Answer: 37.5 percent
37.5 प्रतिशत

QID : 266 - Manoj can do a piece of work in 42 hours. If he is joined by Jayashree who is 100% more efficient, in what time they will finish the work together?

मनोज काम का एक भाग 42 घंटे में पूरा कर सकता है, यदि उसे जयश्री ने सहायता की, जोकि 100% अधिक कुशल है, तो वे दोनों मिलकर कितने समय में काम को पूरा कर लेंगे?

Options:
1) 7 hours
7 घंटे
2) 3.5 hours
3.5 घंटे
3) 14 hours
14 घंटे
4) 2.5 hours
2.5 घंटे

Correct Answer: 14 hours
14 घंटे

Candidate Answer: 14 hours
14 घंटे

QID : 267 - The measures of the three angles of a triangle are in the ratio 1:2:3. What is the measure of the biggest angle?

एक त्रिभुज के तीन कोणों के मापों का अनुपात 1: 2: 3 है। सबसे बड़े कोण का माप क्या है?

Options:
1) 30°
2) 60°
3) 90°
4) 120°

Correct Answer: 90°

Candidate Answer: 90°

QID : 268 - The average revenues of 13 consecutive years of a company is Rs 70 lakhs. If the average of first 7 years is Rs 65 lakhs and that of last 7 years is Rs 77 lakhs, find the revenue for the 7th year.

एक कंपनी का लगातार 13 साल का औसत राजस्व 70 लाख रु है। यदि पहले 7 साल का औसत 65 लाख रु है और अंतिम 7 वर्षों का औसत 77 लाख रु है, तो 7वें वर्ष का राजस्व ज्ञात कीजिये।

Options:
1) Rs 86 lakhs
86 लाख रु
2) Rs 84 lakhs
84 लाख रु
3) Rs 82 lakhs
82 लाख रु
4) Rs 80 lakhs
80 लाख रु

Correct Answer: Rs 84 lakhs
84 लाख रु

Candidate Answer: Rs 84 lakhs
84 लाख रु

GovtJobsAlert.In

Download More Papers From www.GovtJobsAlert.In

Download More Papers From www.GovtJobsAlert.In

QID : 269 - Profit of Rs 144000 has to be divided among three partners Akram, Bipin and Chintan in the ratio 3:2:7. How much Rs. Chintan get?

144000 रु के लाभ को 3:2:7 के अनुपात में तीन हिस्सेदारों अकरम, बिपिन और चिंतन में बांटा जाना है। चिंतन को कितने रु प्राप्त हुए?

Options:
1) 84000

2) 24000

3) 36000

4) 42000
Correct Answer: 84000
Candidate Answer: 84000

QID : 270 - Area of _____ equals half the product of its diagonal.

_____ का क्षेत्रफल उसके विकर्ण के गुणनफल के आधे के बराबर होता है।

Options:
1) Parallelogram
समान्तर चतुर्भुज
2) Rectangle
आयत
3) Kite
पतंग
4) Cyclic quadrilateral
चक्रीय चतुर्भुज
Correct Answer: Kite
पतंग
Candidate Answer: Kite
पतंग

QID : 271 - The costs of daily ticket of local train is Rs. 50 and Monthly Pass costs is Rs. 1125. If I buy the Monthly Pass and travel for 30 days in a month then I save?

लोकल ट्रेन के दैनिक टिकट का मूल्य 50 रु है और मासिक पास का मूल्य 1125 रु हैं। यदि मैं मासिक पास खरीदता हूँ और एक महीने में 30 दिन यात्रा करता हूँ, तो मेरी कितनी बचत होगी?

Options:
1) 10 percent
10 प्रतिशत
2) 25 percent
25 प्रतिशत
3) 14 percent
14 प्रतिशत
4) 15 percent
15 प्रतिशत
Correct Answer: 25 percent
25 प्रतिशत
Candidate Answer: 15 percent
15 प्रतिशत

QID : 272 -
Refer the below data table and answer the following Question.
नीचे दिये गए डेटा तालिका के आधार पर निम्नलिखित प्रश्न का उत्तर दें।

	Weight (kg) वजन (किलोग्राम)	Height (m) ऊंचाई (मीटर)
Apeksha / अपेक्षा	59	1.8
Apsara / अप्सरा	51	1.72
Aradhana / आराधना	62	1.57
Archana / अर्चना	74	1.68

Who has the least weight to height ratio?
वजन और ऊंचाई का अनुपात किसका सबसे कम है?

Download More Papers From www.GovtJobsAlert.In

Download More Papers From www.GovtJobsAlert.In

Options:
1) Apeksha
अपेक्षा
2) Apsara
अप्सरा
3) Aradhana
आराधना
4) Archana
अर्चना

Correct Answer: Apsara
अप्सरा

Candidate Answer: Apsara
अप्सरा

QID : 273 -
Refer the below data table and answer the following Question.

नीचे दिये गए डेटा तालिका के आधार पर निम्नलिखित प्रश्न का उत्तर दें।

Year वर्ष	Company's % Profit कंपनी का लाभ %
2011	15
2012	5
2013	10
2014	25
2015	15

What was the revenue of the company if its expenditure was Rs 525 crore in the year when its % profit was the least?

यदि एक कंपनी का व्यय उस वर्ष में 525 करोड़ रूपए था जिसमें उसका लाभ % सबसे कम था, तो कंपनी का राजस्व कितना था?

Options:
1) 577.5

2) 603.75

3) 525

4) 551.25
Correct Answer: 551.25
Candidate Answer: 603.75

QID : 274 -
The following table shows the number of children in each house of a society.

निम्न तालिका एक समाज के प्रत्येक घर में बच्चों की संख्या दर्शाती है।

Number of Children बच्चों की संख्या	Number of Houses घरों की संख्या
0	7
1	7
2	13
3	3

What is the average number of children per house?

प्रत्येक घर में बच्चों की औसत संख्या क्या है?

GovtJobsAlert.In

Download More Papers From www.GovtJobsAlert.In

Download More Papers From www.GovtJobsAlert.In

Options:
1) 1.65

2) 1.4

3) 1.9

4) 1.15
Correct Answer: 1.4
Candidate Answer: 1.15

QID : 275 -
Refer the below data table and answer the following Question.

नीचे दिये गए डेटा तालिका के आधार पर निम्नलिखित प्रश्न का उत्तर दें।

Partners भागीदार	Present % share वर्तमान % हिस्सा
Anand / आनंद	20
Basu / बसु	5
Chinmay / चिन्मय	25
Dhiraj / धीरज	20
Ejaz / एजाज	30

If the company has issued 6 lakh shares between its five partners and if Chinmay offers to sell 15,000 of his shares to Dhiraj, then Dhiraj will have how many shares?

यदि एक कंपनी ने अपने पांच भागीदारों के बीच 6 लाख शेयर जारी किए हैं और अगर चिन्मय धीरज को अपने शेयरों में से 15,000 बेचने का प्रस्ताव करता है, तो धीरज के पास कितने शेयर होंगे?

Options:
1) 120000 shares
120000 शेयर
2) 135000 shares
135000 शेयर
3) 150000 shares
150000 शेयर
4) 105000 shares
105000 शेयर
Correct Answer: 135000 shares
135000 शेयर
Candidate Answer: 120000 shares
120000 शेयर

QID : 276 - Select the word with the correct spelling.
Options:
1) mamoths
2) nicotien
3) rickshaw
4) platypous
Correct Answer: rickshaw
Candidate Answer: rickshaw

QID : 277 - In the following question, a sentence has been given in Active/Passive voice. Out of four alternatives suggested, select the one, which best expresses the same sentence in Passive/Active voice.

One must keep one's promises.
Options:
1) One's promises must be kept by one.
2) One's promises had to be kept.
3) Promises must be kept.
4) Promises have to be kept by one.
Correct Answer: Promises must be kept.
Candidate Answer: One's promises must be kept by one.

Download More Papers From www.GovtJobsAlert.In

Download More Papers From www.GovtJobsAlert.In

QID : 278 - Rearrange the parts of the sentence in correct order

Taken together, this
P-gives a total global
Q-stockpile of almost 1,900 tons of
R-nuclear weapons-usable material

Options:
1) QRP
2) PQR
3) RPQ
4) QPR

Correct Answer: PQR

Candidate Answer: RPQ

QID : 279 - In the following question, out of the four alternatives, select the alternative which best expresses the meaning of the idiom/phrase.

Crocodile tears

Options:
1) To feel sad for another person's misfortunes
2) To laugh so much that your eyes start to water
3) A person whose sadness is never noticed
4) Expressions of sorrow that are insincere

Correct Answer: Expressions of sorrow that are insincere

Candidate Answer: Expressions of sorrow that are insincere

QID : 280 - In the following question, a sentence has been given in Direct/Indirect speech. Out of the four alternatives suggested, select the one, which best express the same sentence in Indirect/Direct speech.

The professor told the class, "Ice floats on water".

Options:
1) The professor told the class that, that ice floats on water.
2) The professor told the class ice floats on water.
3) The professor told the class that ice floats on water.
4) The professor told the class how ice floats on water.

Correct Answer: The professor told the class that ice floats on water.

Candidate Answer: The professor told the class that ice floats on water.

QID : 281 - In the following question, out of the four alternatives, select the alternative which is the best substitute of the phrase.

to portray in words; describe

Options:
1) to evince
2) to divulge
3) to depict
4) to manifest

Correct Answer: to depict

Candidate Answer: to depict

QID : 282 - Improve the bracketed part of the sentence.

In 2001, hundreds of people were killed **(from)** the earthquake in Gujarat.

Options:
1) in
2) because of
3) since
4) no improvement

Correct Answer: in

Candidate Answer: because of

QID : 283 - Select the word with the correct spelling.

Options:
1) defered
2) decifer
3) fammished
4) glaucoma

Correct Answer: glaucoma

Candidate Answer: glaucoma

GovtJobsAlert.In

Download More Papers From www.GovtJobsAlert.In

Download More Papers From www.GovtJobsAlert.In

QID : 284 - In the following question, the sentence given with blank to be filled in with an appropriate word. Select the correct alternative out of the four and indicate it by selecting the appropriate option.

The residence of that rich man was plain to the point of being _____, with no luxuries.

Options:
1) ascetic
2) austere
3) stringent
4) solemn

Correct Answer: austere

Candidate Answer: ascetic

QID : 285 - Select the antonym of

motley

Options:
1) kaleidoscopic
2) assorted
3) homogenous
4) disparate

Correct Answer: homogenous

Candidate Answer: assorted

QID : 286 - Select the antonym of

violation

Options:
1) abuse
2) obedience
3) felony
4) crime

Correct Answer: obedience

Candidate Answer: obedience

QID : 287 - In the following question, some part of the sentence may have errors. Find out which part of the sentence has an error and select the appropriate option. If a sentence is free from error, select 'No Error'.

Seldom we have been(A)/treated in such(B)/a rude manner.(C)/No error(D)

Options:
1) A
2) B
3) C
4) D

Correct Answer: A

Candidate Answer: B

QID : 288 - Improve the bracketed part of the sentence

Vikram **(insist that)** he was innocent.

Options:
1) insisted on that
2) insisted that
3) insisted on
4) no improvement

Correct Answer: insisted that

Candidate Answer: insisted that

QID : 289 - In the following question, the sentence given with blank to be filled in with an appropriate word. Select the correct alternative out of the four and indicate it by selecting the appropriate option.

Then, he left for Silicon Valley to _____ his dream of launching a start-up.

Options:
1) persevere
2) eschew
3) pursue
4) cherish

Correct Answer: pursue

Candidate Answer: pursue

QID : 290 - Select the synonym of

bother

Download More Papers From www.GovtJobsAlert.In

Download More Papers From www.GovtJobsAlert.In

Options:
1) obscene
2) beset
3) obfuscate
4) oblivious

Correct Answer: beset

Candidate Answer: oblivious

QID : 291 - Select the synonym of

elate

Options:
1) abase
2) faze
3) exhilarate
4) enervate

Correct Answer: exhilarate

Candidate Answer: faze

QID : 292 - In the following question, some part of the sentence may have errors. Find out which part of the sentence has an error and select the appropriate option. If a sentence is free from error, select 'No Error'.

I will try to be on time(A)/but don't worry when(B)/I am late.(C)/No error(D)

Options:
1) A
2) B
3) C
4) D

Correct Answer: B

Candidate Answer: B

QID : 293 - Rearrange the parts of the sentence in correct order

The loss of these
P-young, and often
Q-make us ponder
R-bright, people must

Options:
1) PRQ
2) PQR
3) QPR
4) RPQ

Correct Answer: PRQ

Candidate Answer: PRQ

QID : 294 - In the following question, out of the four alternatives, select the alternative which best expresses the meaning of the idiom/phrase.

Chink in one's armour

Options:
1) A spotless shield tells that the person has not yet fought any war
2) A small crack if not repaired will break the shield
3) An area of vulnerability
4) One's primary defence system against loss or injury

Correct Answer: An area of vulnerability

Candidate Answer: An area of vulnerability

QID : 295 - In the following question, out of the four alternatives, select the alternative which is the best substitute of the phrase.

to impose something unwelcome on

Options:
1) to subject
2) to extort
3) to levy
4) to inflict

Correct Answer: to inflict

Candidate Answer: to levy

GovtJobsAlert.In

Download More Papers From www.GovtJobsAlert.In

Download More Papers From www.GovtJobsAlert.In

QID : 296 - In the following passage, some of the words have been left out. Read the passage carefully and select the correct answer for the given blank out of the four alternatives.

It is obviously wrong as the cost of school uniform, books and stationery, and transport, _____ all are under the monopoly of the school, are not included. _____ private schools want additional money for special occasions like festivals, picnics, _____ and projects. And they often recommend tuition for the children. None of this _____ in this cost calculation. However, the family _____ this burden and these items add significantly to the revenue of private schools.

books and stationery, and transport, _____ all are under the monopoly of the school, are not included.

Options:
1) that
2) those
3) which
4) when

Correct Answer: which

Candidate Answer: which

QID : 297 - In the following passage, some of the words have been left out. Read the passage carefully and select the correct answer for the given blank out of the four alternatives.

It is obviously wrong as the cost of school uniform, books and stationery, and transport, _____ all are under the monopoly of the school, are not included. _____ private schools want additional money for special occasions like festivals, picnics, _____ and projects. And they often recommend tuition for the children. None of this _____ in this cost calculation. However, the family _____ this burden and these items add significantly to the revenue of private schools.

_____ private schools want additional money

Options:
1) Occasionally
2) Randomly
3) Rarely
4) Mostly

Correct Answer: Occasionally

Candidate Answer: Mostly

QID : 298 - In the following passage, some of the words have been left out. Read the passage carefully and select the correct answer for the given blank out of the four alternatives.

It is obviously wrong as the cost of school uniform, books and stationery, and transport, _____ all are under the monopoly of the school, are not included. _____ private schools want additional money for special occasions like festivals, picnics, _____ and projects. And they often recommend tuition for the children. None of this _____ in this cost calculation. However, the family _____ this burden and these items add significantly to the revenue of private schools.

_____ and projects.

Options:
1) travels
2) tours
3) expeditions
4) excursions

Correct Answer: excursions

Candidate Answer: tours

QID : 299 - In the following passage, some of the words have been left out. Read the passage carefully and select the correct answer for the given blank out of the four alternatives.

It is obviously wrong as the cost of school uniform, books and stationery, and transport, _____ all are under the monopoly of the school, are not included. _____ private schools want additional money for special occasions like festivals, picnics, _____ and projects. And they often recommend tuition for the children. None of this _____ in this cost calculation. However, the family _____ this burden and these items add significantly to the revenue of private schools.

None of this _____ in this cost calculation.

Options:
1) counts
2) is counted
3) have been counted
4) had been counted

Correct Answer: is counted

Candidate Answer: counts

GovtJobsAlert.In

Download More Papers From www.GovtJobsAlert.In

Download More Papers From www.GovtJobsAlert.In

QID : 300 - In the following passage, some of the words have been left out. Read the passage carefully and select the correct answer for the given blank out of the four alternatives.

It is obviously wrong as the cost of school uniform, books and stationery, and transport, _____ all are under the monopoly of the school, are not included. _____ private schools want additional money for special occasions like festivals, picnics, _____ and projects. And they often recommend tuition for the children. None of this _____ in this cost calculation. However, the family _____ this burden and these items add significantly to the revenue of private schools.

However, the family _____ this burden

Options:
1) bore
2) bears
3) had borne
4) is bearing

Correct Answer: bears

Candidate Answer: bears

GovtJobsAlert.In

Download More Papers From www.GovtJobsAlert.In