For More Updates Visit www.GovtJobsAlert.In

Combined Higher Secondary Level Examination 2021 Tier I

Roll Number	
Candidate Name	
Venue Name	Pawan Ganga Educational Centre 1
Exam Date	25/05/2022
Exam Time	12:30 PM - 1:30 PM
Subject	CHSL 2021 Tier I

Section : **English Language**

Q.1 Select the most appropriate option to substitute the underline segment in the given sentence.
My sincerity and patience drove me through all odds and problems of life

Ans
✗ 1. lifted me
✓ 2. carried me
✗ 3. flew me
✗ 4. ran me

Question ID : **26433042821**
Status : **Answered**
Chosen Option : **2**

Q.2 Select the most appropriate meaning of the given idiom.
Grease someone's palm

Ans
✗ 1. Be jealous of someone
✗ 2. Put in hard work
✗ 3. Go to battle
✓ 4. Bribe someone

Question ID : **26433039841**
Status : **Answered**
Chosen Option : **4**

Q.3 Select the INCORRECTLY spelt word.

Ans
✓ 1. Informassional
✗ 2. Informal
✗ 3. Personal
✗ 4. Personnel

Question ID : **26433039798**
Status : **Answered**
Chosen Option : **1**

Q.4 Select the option that will improve the underlined part of the given sentence.
She is educated than her sister.

Ans
✗ 1. good educated
✗ 2. best educated
✓ 3. more educated
✗ 4. far educated

Question ID : **26433043008**
Status : **Answered**
Chosen Option : **3**

GovtJobsAlert.In

For More Updates Visit www.GovtJobsAlert.In

For More Updates Visit www.GovtJobsAlert.In

Q.5 **In the following passage, a word has been deleted. Read the passage carefully and select the most appropriate option to fill in the blank.**
Manpower exporters and overseas recruiters commonly _____ in illegal business practices for short-term _____ gain.

Ans
✗ 1. regulated, personal
✗ 2. thrived, devotional
✗ 3. honoured, professional
✓ 4. indulged, monetary

Question ID : **26433045593**
Status : **Answered**
Chosen Option : **4**

Q.6 **Select the most appropriate ANTONYM of the highlighted word.**
His liberal **policies were responsible for progress in the community.**

Ans
✗ 1. ineffectual
✓ 2. conservative
✗ 3. central
✗ 4. hysterical

Question ID : **26433045479**
Status : **Answered**
Chosen Option : **2**

Q.7 **Select the INCORRECTLY spelt word.**

Ans
✓ 1. Embberassment
✗ 2. Euphemism
✗ 3. Encyclopaedia
✗ 4. Consciousness

Question ID : **26433039803**
Status : **Answered**
Chosen Option : **1**

Q.8 **Select the option that will improve the underlined part of the given sentence.**
I keep telling myself <u>how I am lucky to have</u> such wonderful sisters.

Ans
✗ 1. how I am lucky for having
✓ 2. how lucky I am to have
✗ 3. how lucky I am to having
✗ 4. how I am lucky for

Question ID : **26433042857**
Status : **Answered**
Chosen Option : **2**

GovtJobsAlert.In

For More Updates Visit www.GovtJobsAlert.In

For More Updates Visit www.GovtJobsAlert.In

Q.9 **Sentences of a paragraph are given below in jumbled order. Arrange the sentences in the correct order to form a meaningful and coherent paragraph.**
A. I went to college from the eleventh grade and never went to the twelfth grade, and skipped another grade earlier, so I was a pretty young fellow at Morehouse.
B. At the age of fifteen, I entered Morehouse College and my father and my maternal grandfather had also attended, so Morehouse has had three generations of Kings.
C. The professors were not caught up in the clutches of state funds and could teach what they wanted with academic freedom and encouraged us in a positive quest for a solution to racial ills.
D. I shall never forget the hardships that I had upon entering college, for though I had been one of the top students in high school, I was still reading at only an eighth-grade level.

Ans
✗ 1. BADC
✓ 2. BDAC
✗ 3. ABDC
✗ 4. ADBC

Question ID : **26433045612**
Status : **Answered**
Chosen Option : **1**

Q.10 **Select the option that expresses the given sentence in active voice.**
Has the assignment been uploaded by you?

Ans
✓ 1. Have you uploaded the assignment?
✗ 2. Have you been uploaded the assignment?
✗ 3. Were you uploading the assignment?
✗ 4. Did you upload the assignment?

Question ID : **26433043028**
Status : **Answered**
Chosen Option : **1**

Q.11 **Complete the sentence with an appropriate synonym of the word mentioned in the bracket.**
The party was so amazing that everyone _____ (hated) leaving it.

Ans
✗ 1. revered
✗ 2. enhanced
✓ 3. loathed
✗ 4. embraced

Question ID : **26433045444**
Status : **Answered**
Chosen Option : **3**

Q.12 **Select the option that expresses the given sentence in active voice.**
Coffee is sipped by me.

Ans
✓ 1. I sip coffee.
✗ 2. I have sipped coffee.
✗ 3. I have had sipped coffee.
✗ 4. I am sipping coffee.

Question ID : **26433039758**
Status : **Answered**
Chosen Option : **1**

GovtJobsAlert.In

For More Updates Visit www.GovtJobsAlert.In

For More Updates Visit www.GovtJobsAlert.In

Q.13 Select the most appropriate option that can substitute the underlined segment in the given sentence. If there is no need to substitute it, select 'No substitution required'.
My uncle is doing business in Hyderabad for the last 10 years.

Ans
✗ 1. No substitution required
✗ 2. did
✗ 3. doing
✓ 4. has been doing

Question ID : **26433039919**
Status : **Answered**
Chosen Option : **4**

Q.14 Select the INCORRECTLY spelt word.

Ans
✗ 1. Accommodation
✗ 2. Occurrence
✗ 3. Erroneous
✓ 4. Priviledge

Question ID : **26433040082**
Status : **Answered**
Chosen Option : **3**

Q.15 Select the most appropriate option that can substitute the underlined words in the given sentence.
He is an excessively enthusiastic and strict follower of Judaism.

Ans
✓ 1. a zealot
✗ 2. a janissary
✗ 3. a healer
✗ 4. a Zionist

Question ID : **26433045377**
Status : **Answered**
Chosen Option : **1**

Q.16 Select the INCORRECTLY spelt word.

Ans
✗ 1. Convenience
✗ 2. Enthusiasm
✓ 3. Acomplishment
✗ 4. Auxiliary

Question ID : **26433043139**
Status : **Answered**
Chosen Option : **3**

Q.17 Select the option that expresses the given sentence in active voice.
The library building was renovated in 2020.

Ans
✗ 1. They had renovated the library building in 2020.
✗ 2. They did renovating the building in 2020.
✓ 3. They renovated the library building in 2020.
✗ 4. They were renovating the building in 2020.

Question ID : **26433043037**
Status : **Answered**
Chosen Option : **3**

GovtJobsAlert.In

For More Updates Visit www.GovtJobsAlert.In

For More Updates Visit www.GovtJobsAlert.In

Q.18 Select the most appropriate synonym of the word given in the brackets to fill in the blank.
Doing adventure sports is banned for athletes as it can be _____ (perilous).

Ans
✗ 1. adventurous
✓ 2. treacherous
✗ 3. worthless
✗ 4. reliable

Question ID : **26433045432**
Status : **Answered**
Chosen Option : **2**

Q.19 Select the most appropriate option that can substitute the underlined part in the given sentence.

Her writing is very ilegible and so she loses marks in her exam.

Ans
✗ 1. illegal
✗ 2. illegibel
✓ 3. illegible
✗ 4. illeggible

Question ID : **26433042789**
Status : **Answered**
Chosen Option : **3**

Q.20 Select the most appropriate meaning of the idiom given in bold in the following sentence.
She was within a hair's breadth **of winning.**

Ans
✗ 1. certain
✗ 2. accomplished
✓ 3. narrow margin
✗ 4. desirous

Question ID : **26433043153**
Status : **Answered**
Chosen Option : **3**

Comprehension:

In the following passage, some words have been deleted. Read the passage carefully and select the most appropriate option to fill in each blank.
Yoga is a personal journey for everyone as now most people are turning to it, not for fitness (1) _____, but for the union of both, body and soul. Yoga is an ancient practice that (2) _____ in India. It involves movement, meditation and breathing (3) _____ to promote mental and physical well-being. There are many styles of yoga. A person should (4) _____ a style based on their goals and fitness level. If yoga and pranayam are complemented with other forms of spiritual practice to purify the mental body and other bodies, then a person can achieve rapid spiritual progress in his lifetime. Thus a person can make progress to achieve the purpose of life which is to (5) _____ with God.

SubQuestion No : 21

Q.21 Select the most appropriate option to fill in blank number 1.

Ans
✗ 1. rather
✗ 2. apart
✗ 3. change
✓ 4. alone

Question ID : **26433045671**
Status : **Answered**
Chosen Option : **1**

GovtJobsAlert.In

For More Updates Visit www.GovtJobsAlert.In

For More Updates Visit www.GovtJobsAlert.In

Comprehension:

In the following passage, some words have been deleted. Read the passage carefully and select the most appropriate option to fill in each blank.
Yoga is a personal journey for everyone as now most people are turning to it, not for fitness (1) _____, but for the union of both, body and soul. Yoga is an ancient practice that (2) _____ in India. It involves movement, meditation and breathing (3) _____ to promote mental and physical well-being. There are many styles of yoga. A person should (4) _____ a style based on their goals and fitness level. If yoga and pranayam are complemented with other forms of spiritual practice to purify the mental body and other bodies, then a person can achieve rapid spiritual progress in his lifetime. Thus a person can make progress to achieve the purpose of life which is to (5) _____ with God.

SubQuestion No : 22

Q.22 Select the most appropriate option to fill in blank number 2.

Ans
✗ 1. involved
✗ 2. came
✓ 3. originated
✗ 4. settled

Question ID : **26433045672**
Status : **Answered**
Chosen Option : **3**

Comprehension:

In the following passage, some words have been deleted. Read the passage carefully and select the most appropriate option to fill in each blank.
Yoga is a personal journey for everyone as now most people are turning to it, not for fitness (1) _____, but for the union of both, body and soul. Yoga is an ancient practice that (2) _____ in India. It involves movement, meditation and breathing (3) _____ to promote mental and physical well-being. There are many styles of yoga. A person should (4) _____ a style based on their goals and fitness level. If yoga and pranayam are complemented with other forms of spiritual practice to purify the mental body and other bodies, then a person can achieve rapid spiritual progress in his lifetime. Thus a person can make progress to achieve the purpose of life which is to (5) _____ with God.

SubQuestion No : 23

Q.23 Select the most appropriate option to fill in blank number 3.

Ans
✗ 1. phases
✗ 2. pursuit
✓ 3. techniques
✗ 4. senses

Question ID : **26433045673**
Status : **Answered**
Chosen Option : **4**

GovtJobsAlert.In

For More Updates Visit www.GovtJobsAlert.In

For More Updates Visit www.GovtJobsAlert.In

Comprehension:

In the following passage, some words have been deleted. Read the passage carefully and select the most appropriate option to fill in each blank.
Yoga is a personal journey for everyone as now most people are turning to it, not for fitness (1) _____, but for the union of both, body and soul. Yoga is an ancient practice that (2) _____ in India. It involves movement, meditation and breathing (3) _____ to promote mental and physical well-being. There are many styles of yoga. A person should (4) _____ a style based on their goals and fitness level. If yoga and pranayam are complemented with other forms of spiritual practice to purify the mental body and other bodies, then a person can achieve rapid spiritual progress in his lifetime. Thus a person can make progress to achieve the purpose of life which is to (5) _____ with God.

SubQuestion No : 24

Q.24 Select the most appropriate option to fill in blank number 4.

Ans
✔ 1. choose
✘ 2. make
✘ 3. familiarise
✘ 4. strike

Question ID : **26433045674**
Status : **Answered**
Chosen Option : **1**

Comprehension:

In the following passage, some words have been deleted. Read the passage carefully and select the most appropriate option to fill in each blank.
Yoga is a personal journey for everyone as now most people are turning to it, not for fitness (1) _____, but for the union of both, body and soul. Yoga is an ancient practice that (2) _____ in India. It involves movement, meditation and breathing (3) _____ to promote mental and physical well-being. There are many styles of yoga. A person should (4) _____ a style based on their goals and fitness level. If yoga and pranayam are complemented with other forms of spiritual practice to purify the mental body and other bodies, then a person can achieve rapid spiritual progress in his lifetime. Thus a person can make progress to achieve the purpose of life which is to (5) _____ with God.

SubQuestion No : 25

Q.25 Select the most appropriate option to fill in blank number 5.

Ans
✘ 1. compete
✘ 2. mark
✘ 3. progress
✔ 4. merge

Question ID : **26433045675**
Status : **Answered**
Chosen Option : **4**

Section : **General Intelligence**

Q.1 उस विकल्प का चयन करें जो पांचवें पद से उसी प्रकार संबंधित है जिस प्रकार दूसरा पद पहले पद से और चौथा पद तीसरे पद से संबंधित है।
YAR : RAY :: TCA : ACT :: TAB : ?

Ans
✘ 1. TBA
✔ 2. BAT
✘ 3. ABT
✘ 4. ATB

Question ID : **26433045099**
Status : **Answered**
Chosen Option : **2**

GovtJobsAlert.In

For More Updates Visit www.GovtJobsAlert.In

For More Updates Visit www.GovtJobsAlert.In

Q.2 एक तस्वीर में एक महिला की ओर इशारा करते हुए विजय ने कहा- "उसकी बहन की माता मेरे पिता की पुत्री की बहन है।" वह महिला विजय से किस प्रकार संबंधित है?

Ans
✗ 1. माता
✓ 2. भांजी
✗ 3. पुत्री
✗ 4. बहन

Question ID : **26433040310**
Status : **Answered**
Chosen Option : **4**

Q.3 निम्नलिखित में से कौन-सी संख्या दी गई संख्या श्रृंखला में प्रश्नवाचक चिह्न (?) को प्रतिस्थापित करेगी?
56, 68, ?, 128, 176, 236

Ans
✗ 1. 116
✗ 2. 80
✗ 3. 74
✓ 4. 92

Question ID : **26433038605**
Status : **Answered**
Chosen Option : **4**

Q.4 एक कागज को निम्नानुसार मोड़ा और काटा जाता है। खोले जाने पर यह कैसा दिखाई देगा?

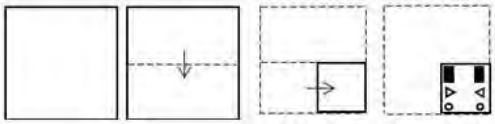

Ans
✗ 1.
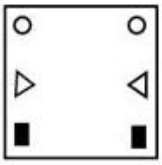
✗ 2.
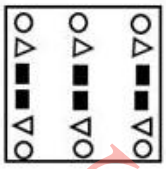
✓ 3.
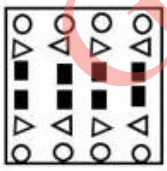
✗ 4.


Question ID : **26433040397**
Status : **Answered**
Chosen Option : **3**

GovtJobsAlert.In

For More Updates Visit www.GovtJobsAlert.In

For More Updates Visit www.GovtJobsAlert.In

Q.5 यदि दर्पण को चित्र के अनुसार MN पर रखा जाता है तो दिए गए संयोजन के सही दर्पण प्रतिबिंब का चयन कीजिए।

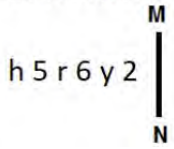

Ans

✗ 1. 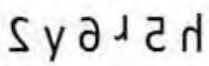

✓ 2. 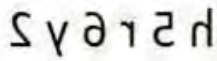

✗ 3. 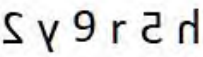

✗ 4. 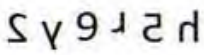

Question ID : **26433043592**
Status : **Answered**
Chosen Option : **2**

Q.6 निम्नलिखित में से कौन सा अक्षर-समूह दी गई श्रृंखला को तार्किक रूप से पूर्ण बनाने के लिए इसमें प्रश्नवाचक चिन्ह (?) को प्रतिस्थापित करेगा?
WUT, RPO, MKJ, HFE, ?

Ans

✗ 1. ACZ

✗ 2. AZC

✗ 3. CZA

✓ 4. CAZ

Question ID : **26433045152**
Status : **Answered**
Chosen Option : **4**

Q.7 यदि 3 मार्च 2020 को मंगलवार था, तो 3 फरवरी 2019 को सप्ताह का कौन सा दिन था?

Ans

✗ 1. बुधवार

✓ 2. रविवार

✗ 3. सोमवार

✗ 4. शुक्रवार

Question ID : **26433040669**
Status : **Answered**
Chosen Option : **4**

Q.8 दिए गए पैटर्न का ध्यानपूर्वक अध्ययन कीजिए और उस संख्या का चयन कीजिए जो उसमें प्रश्नवाचक चिह्न (?) को प्रतिस्थापित कर सके।
पहली पंक्ति: 3, 2, 30
दूसरी पंक्ति: 7, 5, 175
तीसरी पंक्ति: 4, 6, ?
(नोट: संख्या को उसके घटक अंकों में विभाजित किए बिना, पूर्ण संख्याओं पर गणितीय संक्रियाएं की जानी चाहिए। उदाहरण के लिए, 13 - 13 पर गणितीय संक्रियाएं जैसे कि जोड़ना/घटाना/गुणा करना आदि को 13 पर ही किया जा सकता है। 13 को 1 और 3 में तोड़कर और फिर 1 और 3 पर गणितीय संक्रियाओं को करने की अनुमति नहीं है।)

Ans

✓ 1. 120

✗ 2. 140

✗ 3. 110

✗ 4. 125

Question ID : **26433043336**
Status : **Answered**
Chosen Option : **1**

GovtJobsAlert.In

For More Updates Visit www.GovtJobsAlert.In

For More Updates Visit www.GovtJobsAlert.In

Q.9 दी गई श्रृंखला को पूरा करने के लिए कौन-सा अक्षर समूह प्रश्न चिह्न (?) के स्थान पर आएगा?
ETRE, AZJG, WFBI, SLTK, ?

Ans
✗ 1. ORMM
✗ 2. OPLM
✗ 3. OPMM
✓ 4. ORLM

Question ID : **26433043514**
Status : **Answered**
Chosen Option : **4**

Q.10 एक ही पासे की दो अलग-अलग स्थितियां दिखायी गई हैं, जिसके छह फलकों पर Ant, Bat, Cat, Dog, Egg, Fog लिखा गया है। उस शब्द का चयन कीजिए, जो Fog दिखाने वाले के विपरीत फलक पर होगा।

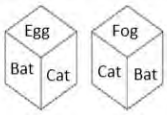

Ans
✗ 1. Bat
✗ 2. Dog
✓ 3. Egg
✗ 4. Ant

Question ID : **26433040341**
Status : **Answered**
Chosen Option : **3**

Q.11 उस वेन आरेख का चयन कीजिए जो निम्नलिखित वर्गों के बीच के संबंध का सबसे अच्छा चित्रण करता है
।
राजा, पिता, रानी

Ans
✓ 1.
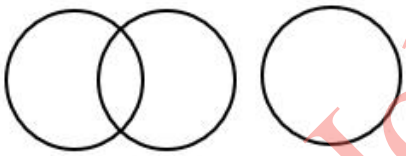
✗ 2.

✗ 3.
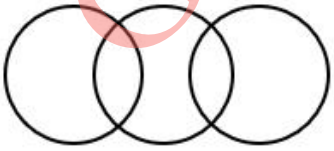
✗ 4.
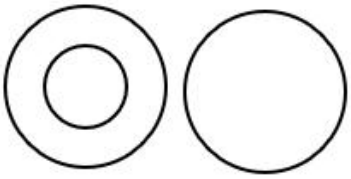

Question ID : **26433040420**
Status : **Answered**
Chosen Option : **1**

GovtJobsAlert.In

For More Updates Visit www.GovtJobsAlert.In

For More Updates Visit www.GovtJobsAlert.In

Q.12 दिए गए समीकरण में * चिह्नों को क्रमिक रूप से बदलने और समीकरण को संतुलित करने के लिए गणितीय चिह्नों के सही संयोजन का चयन कीजिए।
25*5*10*2*8*11

Ans
1. ÷,×,+,–, =
2. –,+,÷,×,=
3. ÷,–,+,×, =
4. ×, ÷,–,+, =

Question ID : **26433040617**
Status : **Answered**
Chosen Option : **3**

Q.13 उस विकल्प का चयन कीजिए, जो पाँचवें पद से उसी प्रकार संबंधित है, जिस प्रकार दूसरा पद पहले पद से और चौथा पद तीसरे पद से संबंधित है।

DENIAL : IANDEL :: OBJECT : ECJOBT :: FLAVOR : ?

Ans
1. VOAFRL
2. OVAFRL
3. OVFARL
4. VOAFLR

Question ID : **26433040277**
Status : **Answered**
Chosen Option : **4**

Q.14 उस समुच्चय का चयन करें जिसमें संख्याएँ उसी प्रकार संबंधित हैं जिस प्रकार निम्नलिखित समुच्चय की संख्याएँ संबंधित हैं।
(75, 25, 28)
(136, 34, 38)
(नोट: संख्याओं को उनके घटक अंकों में विभाजित किए बिना, पूर्ण संख्याओं पर गणितीय संक्रियाएं की जानी चाहिए। उदाहरण के लिए, 13 – 13 में जोड़ने / घटाने / गुणा करने आदि जैसी संक्रियाएं 13 पर की जा सकती हैं। 13 को 1 और 3 में विभाजित करने और फिर 1 और 3 पर गणितीय संक्रियाएं करने की अनुमति नहीं है।)

Ans
1. (27, 9, 15)
2. (105, 35, 38)
3. (45, 9, 12)
4. (55, 5, 11)

Question ID : **26433043228**
Status : **Answered**
Chosen Option : **2**

Q.15 नीचे दिए गए समीकरण में * चिह्नों को बदलने और समीकरण को संतुलित करने के लिए गणितीय चिह्नों के सही संयोजन का चयन कीजिए।

96 * 6 * 24 * 49*25

Ans
1. +,×,=,÷
2. ×,÷,=,–
3. ÷,–,=,+
4. –, +,×,=

Question ID : **26433040216**
Status : **Answered**
Chosen Option : **2**

GovtJobsAlert.In

For More Updates Visit www.GovtJobsAlert.In

For More Updates Visit www.GovtJobsAlert.In

Q.16 नीचे दिए गए समीकरण में * चिह्नों को बदलने और समीकरण को संतुलित करने के लिए गणितीय चिह्नों के सही संयोजन का चयन कीजिए।

41*2*36*6*57*7*4*3

Ans
1. −,+,×,−,=,+,×
2. ×,+,÷,−,=,x,+
3. +,−,=,×,−,÷,−
4. −,=,+,×,−,+,×

Question ID : **26433040239**
Status : **Answered**
Chosen Option : **2**

Q.17 दिए गए समीकरण में * चिह्नों को क्रमिक रूप से बदलने और समीकरण को संतुलित करने के लिए गणितीय चिह्नों के सही संयोजन का चयन कीजिए।
57*35*7*14*2*34

Ans
1. +,–, ×,÷, =
2. ×, +, ÷,–, =
3. –,÷,+,×, =
4. +, ÷,–,×, =

Question ID : **26433040602**
Status : **Answered**
Chosen Option : **4**

Q.18 दिए गए पैटर्न का ध्यानपूर्वक अध्ययन करें और उस संख्या का चयन करें जो इसमें प्रश्नवाचक चिह्न (?) के स्थान पर आ सकती है।
पहली पंक्ति- 6,39, 124
दूसरी पंक्ति- 8 , 53, ?
तीसरी पंक्ति- 11, 74, 229
(ध्यान दें: संख्याओं को उनके घटक अंकों में विभाजित किए बिना, पूर्ण संख्याओं पर गणितीय संक्रियाएं की जानी चाहिए। उदाहरण के लिए 13 के मामले में - जोड़ने / घटाने / गुणा करने आदि जैसी गणितीय संक्रियाएं 13 पर की जा सकती हैं। 13 को 1 और 3 में तोड़कर और फिर 1 और 3 पर गणितीय संक्रियाएं करने की अनुमति नहीं है।)

Ans
1. 161
2. 116
3. 166
4. 111

Question ID : **26433045254**
Status : **Answered**
Chosen Option : **3**

Q.19 नीचे दिए गए समीकरण में * चिह्नों को बदलने और समीकरण को संतुलित करने के लिए गणितीय चिह्नों के सही संयोजन का चयन कीजिए।

78*3*14*80*2

Ans
1. −,=,+,×
2. ÷,+,=,÷
3. +,÷,=,×
4. +,×,=,÷

Question ID : **26433040223**
Status : **Answered**
Chosen Option : **2**

GovtJobsAlert.In

For More Updates Visit www.GovtJobsAlert.In

For More Updates Visit www.GovtJobsAlert.In

Q.20 एक ही पासे की दो अलग-अलग स्थितियां दिखायी गई हैं, जिसके छह फलकों पर Ant, Bat, Cat, Dog, Egg, Fog लिखा गया है। उस शब्द का चयन कीजिए, जो 'Dog' दिखाने वाले के विपरीत फलक पर होगा।

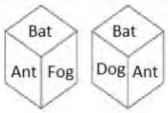

Ans

✗ 1. Egg

✗ 2. Cat

✓ 3. Fog

✗ 4. Bat

Question ID : **26433040340**
Status : **Answered**
Chosen Option : **3**

GovtJobsAlert.In

For More Updates Visit www.GovtJobsAlert.In

For More Updates Visit www.GovtJobsAlert.In

Q.21 एक कागज को नीचे दिखाये गये अनुसार मोड़ा और काटा जाता है। खोले जाने पर यह कैसे दिखाई देगा?

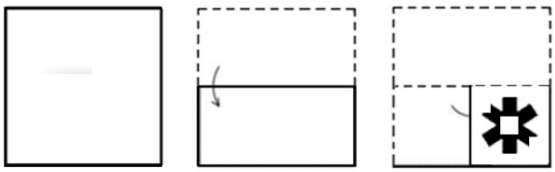

Ans

✗ 1.



✗ 2.



✗ 3.



✔ 4.



Question ID : **26433045304**
Status : **Answered**
Chosen Option : **4**

GovtJobsAlert.In

For More Updates Visit www.GovtJobsAlert.In

For More Updates Visit www.GovtJobsAlert.In

Q.22 दिए गए संयोजन की सही दर्पण छवि का चयन करें, जब दर्पण को MN पर दिखाए गए अनुसार रखा गया हो।

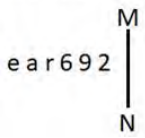

Ans

✗ 1. 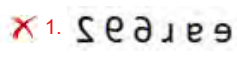

✗ 2. 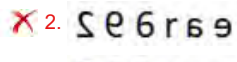

✗ 3. 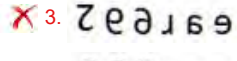

✓ 4. 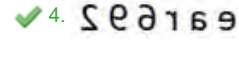

Question ID : **26433040168**
Status : **Answered**
Chosen Option : **4**

Q.23 एक निश्चित कूट भाषा में, 'CAPON' को 'EYRMP' के रूप में लिखा जाता है और 'DECOY' को 'FCEMA' के रूप में लिखा जाता है। तो उसी भाषा में, 'POWER' को कैसे लिखा जाएगा?

Ans

✓ 1. RMYCT

✗ 2. RNVDV

✗ 3. RMWDT

✗ 4. RQGDT

Question ID : **26433040139**
Status : **Answered**
Chosen Option : **1**

Q.24 निम्नलिखित में से कौन-सी संख्या दी गई श्रृंखला में प्रश्न चिह्न (?) को प्रतिस्थापित करेगी?
28, 40, 25, ?, 22, 46

Ans

✓ 1. 43

✗ 2. 41

✗ 3. 44

✗ 4. 42

Question ID : **26433040584**
Status : **Answered**
Chosen Option : **1**

Q.25 एक निश्चित कूट भाषा में, 'HISTORY' को 'SRHGLIB' लिखा जाता है और 'RECORD' को 'IVXLIW' लिखा जाता है। उस भाषा में 'ARCHIVE' को कैसे लिखा जाएगा?

Ans

✓ 1. ZIXSREV

✗ 2. ZIXSGEV

✗ 3. AIXSREV

✗ 4. ZIXTREV

Question ID : **26433043407**
Status : **Answered**
Chosen Option : **1**

Section : **Quantitative Aptitude**

GovtJobsAlert.In

For More Updates Visit www.GovtJobsAlert.In

For More Updates Visit www.GovtJobsAlert.In

Q.1 एक वस्तु का क्रय मूल्य ₹6,450 है। यदि इसे 16% के लाभ पर बेचा जाता है, तो इसका विक्रय मूल्य कितना होगा?

Ans
✔ 1. ₹7,482
✘ 2. ₹7,842
✘ 3. ₹7,282
✘ 4. ₹7,428

Question ID : **26433042424**
Status : **Answered**
Chosen Option : **1**

Q.2 यदि 49 लीटर दूध के एक घोल में 63% दूध है, तो दूध की सांद्रता 70% करने के लिए घोल में कितना दूध और मिलाया जाना चाहिए?

Ans
✘ 1. $14\frac{7}{30}$ लीटर
✔ 2. $11\frac{13}{30}$ लीटर
✘ 3. $13\frac{1}{30}$ लीटर
✘ 4. $12\frac{11}{30}$ लीटर

Question ID : **26433044083**
Status : **Answered**
Chosen Option : **1**

Q.3 एक स्कूल की 8वीं कक्षा में, क्रिकेट खेलने वाले विद्यार्थियों और फुटबॉल खेलने वाले विद्यार्थियों का अनुपात 27 : 13 है। फुटबॉल खेलने वाले विद्यार्थियों और हॉकी खेलने वाले विद्यार्थियों का अनुपात 26 : 14 है। यदि 8वीं कक्षा में कुल 470 विद्यार्थी हैं , और प्रत्येक विद्यार्थी केवल एक ही खेल खेलता है, तो क्रिकेट खेलने वाले विद्यार्थियों का प्रतिशत ज्ञात कीजिए। [अपना उत्तर दशमलव के बाद दो स्थान तक शुद्ध दें]

Ans
✔ 1. 57.45%
✘ 2. 56.35%
✘ 3. 55.47%
✘ 4. 54.75%

Question ID : **26433039348**
Status : **Answered**
Chosen Option : **1**

Q.4 17 मीटर लंबे, 8 मीटर चौड़े और 3 मीटर ऊँचे घनाभ का पृष्ठीय क्षेत्रफल ज्ञात कीजिए।

Ans
✘ 1. 402 m^2
✔ 2. 422 m^2
✘ 3. 420 m^2
✘ 4. 417 m^2

Question ID : **26433038726**
Status : **Answered**
Chosen Option : **2**

GovtJobsAlert.In

For More Updates Visit www.GovtJobsAlert.In

For More Updates Visit www.GovtJobsAlert.In

Q.5 यदि एक घन का कुल पृष्ठीय क्षेत्रफल 96 cm^2 है, तो घन का आयतन ज्ञात कीजिए।

Ans
✗ 1. 74 cm^3
✗ 2. 82 cm^3
✓ 3. 64 cm^3
✗ 4. 27 cm^3

Question ID : **26433042409**
Status : **Answered**
Chosen Option : **3**

Q.6 किसी सप्ताह एक कर्मचारी की औसत आय ₹180 है। उसने सोमवार से शनिवार तक ₹115, ₹212, ₹170, ₹165, ₹185 और ₹225 कमाए। रविवार को उसकी आय ज्ञात कीजिए।

Ans
✓ 1. ₹188
✗ 2. ₹191
✗ 3. ₹178
✗ 4. ₹195

Question ID : **26433041463**
Status : **Answered**
Chosen Option : **1**

Q.7 एक कंपनी में दो प्रकार के कर्मचारी हैं, श्रमिक और अधिकारी। 35% कर्मचारी अधिकारी हैं और एक अधिकारी का औसत मासिक वेतन एक कर्मचारी के संयुक्त औसत मासिक वेतन से ₹39,000 अधिक है। एक अधिकारी और एक कर्मचारी के औसत मासिक वेतन के बीच अंतर ज्ञात कीजिए।

Ans
✗ 1. ₹64,350
✗ 2. ₹50,700
✗ 3. ₹52,650
✓ 4. ₹60,000

Question ID : **26433044272**
Status : **Answered**
Chosen Option : **4**

Q.8 यदि sec θ - cos θ = 14 और 14sec θ = x है, तो x का मान ज्ञात कीजिए।

Ans
✗ 1. 2tan θ
✗ 2. sec^2 θ
✓ 3. tan^2 θ
✗ 4. 2sec θ

Question ID : **26433042654**
Status : **Answered**
Chosen Option : **3**

Q.9 एक पंचायत चुनाव में तीन प्रत्याशी मैदान में थे। पराजित उम्मीदवारों को बराबर-बराबर मत मिले और विजयी उम्मीदवार को उतने मत मिले जितने बाकी दोनों उम्मीदवारों को मिलाकर मिले। यदि डाले गए कुल मत 1500 थे, तो सभी मतों को वैध मानते हुए विजयी उम्मीदवार को मिले मतों की संख्या ज्ञात कीजिए।

Ans
✓ 1. 750
✗ 2. 625
✗ 3. 575
✗ 4. 800

Question ID : **26433043902**
Status : **Answered**
Chosen Option : **1**

GovtJobsAlert.In

For More Updates Visit www.GovtJobsAlert.In

For More Updates Visit www.GovtJobsAlert.In

Q.10 RA और RB केंद्र 'O' वाले वृत्त, जिसकी त्रिज्या 6 cm है, के बाहर एक उभयनिष्ठ बिंदु 'R' से दो स्पर्श रेखाएँ हैं। यदि ∠ARB = 70° है, तो कोण AOB की माप ज्ञात कीजिए।

Ans
1. 120°
2. 130°
3. 110°
4. 80°

Question ID : **26433041681**
Status : **Answered**
Chosen Option : **3**

Q.11 दिए गए ग्राफ का ध्यानपूर्वक अध्ययन करें और उसके बाद दिए गए प्रश्न का उत्तर दें।

दिए गए वर्षों में 3 कंपनियों (1,2,3) की बिक्री (रु. करोड़ों में)

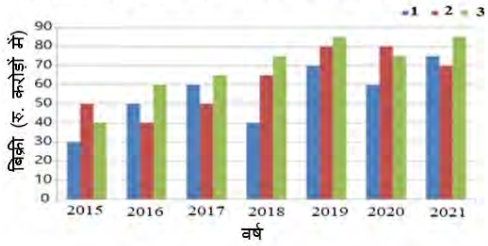

निम्नलिखित में से किस वर्ष में कंपनी 1 की बिक्री उस वर्ष में कंपनी 2 और 3 की कुल बिक्री की ठीक आधी थी?

Ans
1. 2019
2. 2021
3. 2020
4. 2016

Question ID : **26433039279**
Status : **Answered**
Chosen Option : **4**

Q.12 $[7\frac{1}{2} \div \{1\frac{1}{4} - \frac{1}{2}(2\frac{1}{2} - \overline{\frac{1}{4} - \frac{1}{6}})\}] \div (\frac{1}{2} \text{ of } 8\frac{1}{3})$ को का मान ज्ञात कीजिए।

Ans
1. 43.2
2. 23.6
3. 26
4. 36

Question ID : **26433039151**
Status : **Answered**
Chosen Option : **1**

Q.13 यदि $(x + \frac{1}{x}) = 7.5$ है, तो $\left(X^3 + \frac{1}{X^3}\right)$ का मान क्या होगा?

Ans
1. 56.25
2. 54.25
3. 52.25
4. 58.25

Question ID : **26433043990**
Status : **Answered**
Chosen Option : **2**

GovtJobsAlert.In

For More Updates Visit www.GovtJobsAlert.In

For More Updates Visit www.GovtJobsAlert.In

Q.14 यदि $x + y + z = 0$ है, तो $x^3 + y^3 + z^3 - 3xyz$ का मान ज्ञात करें।

Ans
- ✗ 1. $x^3 + y^3 + z^3$
- ✓ 2. 3xyz
- ✗ 3. 1
- ✗ 4. 0

Question ID : **26433042587**
Status : **Answered**
Chosen Option : **4**

Q.15 **यदि एक परिवार में 24 दिनों में 6 kg चीनी की खपत होती है, तो उस परिवार में 18 दिनों कितनी चीनी की खपत होगी?**

Ans
- ✗ 1. 3.6 kg
- ✗ 2. 3.75 kg
- ✓ 3. 4.5 kg
- ✗ 4. 4 kg

Question ID : **26433041590**
Status : **Answered**
Chosen Option : **3**

Q.16 यदि $x + \frac{1}{x} = -13$ है, तो $x^4 + \frac{1}{x^4}$ का मान क्या होगा?

Ans
- ✗ 1. 28561
- ✗ 2. 27891
- ✓ 3. 27887
- ✗ 4. 29243

Question ID : **26433044333**
Status : **Answered**
Chosen Option : **3**

GovtJobsAlert.In

For More Updates Visit www.GovtJobsAlert.In

For More Updates Visit www.GovtJobsAlert.In

Q.17 नीचे दी गई तालिका एक परीक्षा में विद्यार्थियों के समूह द्वारा प्राप्त अंकों के बारे में जानकारी प्रदान करती है।

अंक	विद्यार्थियों की संख्या
10 से कम	2
20 से कम	5
30 से कम	6
40 से कम	8
50 से कम	10

कितने विद्यार्थियों ने 30-40 के बीच अंक प्राप्त किए?

Ans
✗ 1. 8
✗ 2. 1
✓ 3. 2
✗ 4. 3

Question ID : **26433045985**
Status : **Answered**
Chosen Option : **3**

Q.18 एक दुकानदार ₹2,700 मूल्य के उत्पाद बेचना चाहता था। लेकिन उसके पास दो विकल्प - क्रमशः 10% और 15% की दो क्रमिक छूट देना, या 25% की एकल छूट देना, थे । दोनों विकल्पों के बीच कितना अंतर था?

Ans
✓ 1. ₹40.50
✗ 2. ₹47.50
✗ 3. ₹44.00
✗ 4. ₹42.75

Question ID : **26433039526**
Status : **Answered**
Chosen Option : **1**

Q.19 एक तालाब 50 m लंबा, 35 m चौड़ा और 2.5 m गहरा है। तालाब की धारिता (आयतन) ज्ञात कीजिए।

Ans
✓ 1. 4375 m^3
✗ 2. 4165 m^3
✗ 3. 4165 m^3
✗ 4. 3850 m^3

Question ID : **26433039544**
Status : **Answered**
Chosen Option : **1**

Q.20 8675123 को एक निश्चित संख्या से भाग देने पर भागफल 33611 और शेषफल 3485 आता है। भाजक ज्ञात कीजिए।

Ans
✗ 1. 538
✓ 2. 258
✗ 3. 248
✗ 4. 356

Question ID : **26433042600**
Status : **Answered**
Chosen Option : **2**

GovtJobsAlert.In

For More Updates Visit www.GovtJobsAlert.In

For More Updates Visit www.GovtJobsAlert.In

Q.21 16 पुरुष 15 दीवारों को 45 दिनों में पेंट कर सकते हैं। 20 पुरुष 20 दीवारों को कितने दिनों में पेंट करेंगे?

Ans
✗ 1. 45
✓ 2. 48
✗ 3. 60
✗ 4. 40

Question ID : **26433043962**
Status : **Answered**
Chosen Option : **2**

Q.22 एक शहर की जनसंख्या 10% की वार्षिक दर से बढ़ती है। यदि 2018 में शहर की जनसंख्या 2 करोड़ थी, तो वर्ष 2021 में शहर की जनसंख्या कितनी थी?

Ans
✗ 1. 2.3 करोड़
✗ 2. 2.42 करोड़
✓ 3. 2.662 करोड़
✗ 4. 2.6 करोड़

Question ID : **26433041595**
Status : **Answered**
Chosen Option : **3**

Q.23 54 km/h की गति से चल रही 180 m लंबी रेलगाड़ी द्वारा प्लेटफॉर्म पर खड़े एक व्यक्ति को पार करने में लिया गया समय कितना है?

Ans
✗ 1. 10 सेकंड
✗ 2. 11 सेकंड
✓ 3. 12 सेकंड
✗ 4. 9 सेकंड

Question ID : **26433041597**
Status : **Answered**
Chosen Option : **3**

GovtJobsAlert.In

For More Updates Visit www.GovtJobsAlert.In

For More Updates Visit www.GovtJobsAlert.In

Q.24 दी गई तालिका में दिए गए वर्षों में एक छोटे से गाँव द्वारा प्रतिदिन अनाज की खपत (किलोग्राम में) को दर्शाया गया है। तालिका का अध्ययन करें और उसके बाद दिए गए प्रश्न का उत्तर दें।

वर्षों के किस सेट (विकल्पों में) के लिए प्रतिदिन की संयुक्त खपत अन्य वर्षों के सेट की संयुक्त खपत के बराबर है?

वर्ष	चावल	गेहूं	मक्का	जौ
1998-2000	181	50	35	26
2003-2005	167	44	39	17
2008-2010	169	38	49	25
2013-2015	150	45	51	21
2018-2020	147	54	63	24

Ans
✔ 1. 2003–2005 और 2013–2015
✘ 2. 1998–2000 और 2008–2010
✘ 3. 2008–2010 और 2013–2015
✘ 4. 1998–2000 और 2003–2005

Question ID : **26433044163**
Status : **Answered**
Chosen Option : **1**

Q.25 किसी वस्तु के अंकित मूल्य पर 20%, 40% और 75% की तीन क्रमागत छूटों के बराबर एकल छूट का प्रतिशत क्या होगा?

Ans
✘ 1. 45%
✔ 2. 88%
✘ 3. 78%
✘ 4. 65%

Question ID : **26433038686**
Status : **Answered**
Chosen Option : **2**

Section : **General Awareness**

Q.1 13वें आई.सी.सी. (ICC) एकदिवसीय क्रिकेट विश्व कप का आयोजन किसके द्वारा किया जाएगा?

Ans
✘ 1. इंग्लैंड
✘ 2. वेस्ट इंडीज
✘ 3. दक्षिण अफ्रीका
✔ 4. भारत

Question ID : **26433044476**
Status : **Answered**
Chosen Option : **4**

GovtJobsAlert.In

For More Updates Visit www.GovtJobsAlert.In

For More Updates Visit www.GovtJobsAlert.In

Q.2 निम्नलिखित में से कौन-सा संघ की कार्यपालिका का हिस्सा नहीं है?

Ans
✔ 1. भारत का सर्वोच्च न्यायालय
✘ 2. भारत के राष्ट्रपति
✘ 3. भारत के प्रधानमंत्री
✘ 4. मंत्रिपरिषद

Question ID : **26433039630**
Status : **Answered**
Chosen Option : **1**

Q.3 मोहम्मद सलीमुल्लाह बनाम _____ के मामले में, सर्वोच्च न्यायालय ने 2021 में कहा कि 'निर्वासित न होने का अधिकार' अनुच्छेद 19 के साथ जुड़ा हुआ है और केवल भारतीय नागरिकों के लिए उपलब्ध है?

Ans
✘ 1. त्रिपुरा राज्य
✔ 2. भारत संघ
✘ 3. केंद्र शासित प्रदेश लक्षद्वीप
✘ 4. महाराष्ट्र राज्य

Question ID : **26433044416**
Status : **Answered**
Chosen Option : **1**

Q.4 2021 अभिनंदन सरोज राष्ट्रीय पुरस्कार के प्राप्तकर्ता कौन हैं?

Ans
✔ 1. अपर्णा सतीशन
✘ 2. गोपिका वर्मा
✘ 3. सुजाता महापात्र
✘ 4. एन अमुसाना देवी

Question ID : **26433041971**
Status : **Answered**
Chosen Option : **4**

Q.5 प्रतिष्ठित राष्ट्रीय नृत्य शिरोमणि पुरस्कार 2022 निम्नलिखित में से किसे प्राप्त हुआ?

Ans
✘ 1. वेदांतम रामलिंग शास्त्री
✘ 2. दीपा शशिंद्रन
✘ 3. केवी सत्यनारायण
✔ 4. अपर्णा सतीसन

Question ID : **26433041753**
Status : **Answered**
Chosen Option : **3**

Q.6 कौन-सा समूह आवर्त सारणी में दाएं से दूसरे स्तंभ (कॉलम) में है और इसमें फ्लोरीन (F), क्लोरीन (Cl), ब्रोमीन (Br), आयोडीन (I), एस्टैटिन (At) और टेनेसिन (Ts) होते हैं?

Ans
✘ 1. समूह 16
✘ 2. समूह 13
✘ 3. समूह 15
✔ 4. समूह 17

Question ID : **26433044824**
Status : **Answered**
Chosen Option : **4**

GovtJobsAlert.In

For More Updates Visit www.GovtJobsAlert.In

For More Updates Visit www.GovtJobsAlert.In

Q.7 एक दिन में सबसे अधिक गाने गाने का गिनीज वर्ल्ड रिकॉर्ड एक भारतीय पार्श्व गायक के नाम दर्ज है। उन्होंने एक दिन में कितने गाने गाए थे?

Ans
1. 26
2. 30
3. 28
4. 34

Question ID : **26433041743**
Status : **Not Answered**
Chosen Option : **--**

Q.8 भरतनाट्यम/कुचिपुड़ी की अमेरिका में बसी प्रतिपादक अपर्णा सतीसन ने निम्नलिखित में से किस वर्ष में भारतीय शास्त्रीय नृत्य के राष्ट्रीय संस्थान द्वारा प्रतिष्ठित अभिनंदन सरोजा राष्ट्रीय पुरस्कार जीता?

Ans
1. 2005
2. 2021
3. 2017
4. 2011

Question ID : **26433042345**
Status : **Not Answered**
Chosen Option : **--**

Q.9 भारत के निम्नलिखित स्वतंत्रता सेनानियों में से किसकी आत्मकथा 'व्हाई आई एम एन एथीस्ट (Why am I an Atheist)' है?

Ans
1. रास बिहारी बोस
2. अरबिंदो घोष
3. भगत सिंह
4. राम प्रसाद बिस्मिल

Question ID : **26433042218**
Status : **Answered**
Chosen Option : **3**

Q.10 अप्रैल 2021 में शुरू की गई, पीएम उम्मीद योजना का उद्देश्य लगभग तीन लाख युवाओं को उद्यमी बनने के लिए कौशल प्रशिक्षण प्रदान करना है। इस योजना की अवधि _____ तक है।

Ans
1. 2027-28
2. 2029-30
3. 2023-24
4. 2025-26

Question ID : **26433044397**
Status : **Not Answered**
Chosen Option : **--**

Q.11 _____ को पहली बार अपने पिता उस्ताद 'बाबा' अलाउद्दीन खान के सानिध्य में शास्त्रीय संगीत में प्रशिक्षित किया गया था, और उनकी मदद से उन्होंने मैहर-सेनिया घराने की स्थापना की।

Ans
1. सहाना बनर्जी
2. रूपा पनेसार
3. अन्नपूर्णा देवी
4. अनुपमा भागवत

Question ID : **26433044576**
Status : **Not Answered**
Chosen Option : **--**

GovtJobsAlert.In

For More Updates Visit www.GovtJobsAlert.In

For More Updates Visit www.GovtJobsAlert.In

Q.12 निम्नलिखित में से किस प्रकार की चट्टानें कभी आग्नेय या अवसादी थीं, लेकिन भू-पर्पटी के भीतर तीव्र गर्मी और/या दबाव के कारण रूपांतरित हो गईं?

Ans
✗ 1. बेसाल्ट
✓ 2. क्वार्टजाइट
✗ 3. बलुआ पत्थर
✗ 4. ग्रेनाइट

Question ID : **26433044882**
Status : **Answered**
Chosen Option : **1**

Q.13 राष्ट्रीय गीत 'वंदे मातरम' की रचना निम्नलिखित में से किस लेखक ने की है?

Ans
✓ 1. बंकिम चंद्र चट्टोपाध्याय
✗ 2. श्री अरबिंदो
✗ 3. सरोजिनी नायडू
✗ 4. रविंद्रनाथ टैगोर

Question ID : **26433041730**
Status : **Answered**
Chosen Option : **1**

Q.14 जुलाई 2021 में, भारत सरकार के सामाजिक न्याय और अधिकारिता मंत्रालय ने किस राज्य/ केंद्र शासित प्रदेश में 'दिव्यांगजन' को सहायता देने और सहायक उपकरण के वितरण के लिए 'सामाजिक अधिकारिता शिविर' का आयोजन किया था?

Ans
✗ 1. छत्तीसगढ़
✗ 2. दिल्ली
✗ 3. पंजाब
✓ 4. मध्य प्रदेश

Question ID : **26433041833**
Status : **Answered**
Chosen Option : **1**

Q.15 40° और 60° के बीच भूमध्य रेखा के उत्तर और दक्षिण में किस प्रकार के वन पाए जाते हैं, जहां वर्ष में 500-1500 mm के बीच अधिक वर्षा होती है?

Ans
✗ 1. शंकुधारी वन
✗ 2. टैगा वन
✓ 3. शीतोष्ण पर्णपाती वन
✗ 4. भूमध्यसागरीय वन

Question ID : **26433044874**
Status : **Answered**
Chosen Option : **3**

Q.16 बोल्ट उपकरण (equipment bolt) का प्रयोग किस खेल में किया जाता है?

Ans
✗ 1. तैराकी
✗ 2. मोटर स्पोर्ट्स
✗ 3. साइक्लिंग
✓ 4. पर्वतारोहण

Question ID : **26433042210**
Status : **Not Answered**
Chosen Option : **--**

GovtJobsAlert.In

For More Updates Visit www.GovtJobsAlert.In

For More Updates Visit www.GovtJobsAlert.In

Q.17 निम्नलिखित में से कौन-सा कृत्रिम रंग कर्मक, आहार पूरक, सॉस, सूप और शोरबा, बेकरी, डेयरी वसा और तेल, समुद्री भोजन, मसालों, ब्रेथ फ्रेशनर, मिठाई, सुविधा वाले खाद्य पदार्थ और पेय पदार्थों में इस्तेमाल किया जाता है?

Ans
✗ 1. ऑरेंज जी
✓ 2. क्विनोलिन येलो
✗ 3. ऑयल रेड ओ
✗ 4. अम्ल (एसिड) फुक्सिन

Question ID : **26433044868**
Status : **Answered**
Chosen Option : **4**

Q.18 पद्म श्री पुरस्कार से सम्मानित गुरु अमुबी सिंह को निम्नलिखित में से किस नृत्य शैली में उनके महत्वपूर्ण योगदान के लिए पुरस्कृत किया गया?

Ans
✓ 1. मणिपुरी
✗ 2. भरतनाट्यम
✗ 3. ओडिसी
✗ 4. कथक

Question ID : **26433041776**
Status : **Not Answered**
Chosen Option : **--**

Q.19 भारत में विदेशी मुद्रा भंडार जून 2021 में _____ के सीमाचिन्ह (landmark) को पार कर गया।

Ans
✗ 1. US$ 900 बिलियन
✗ 2. US$ 600 ट्रिलियन
✗ 3. US$ 900 ट्रिलियन
✓ 4. US$ 600 बिलियन

Question ID : **26433044536**
Status : **Answered**
Chosen Option : **4**

Q.20 इनमें से कौन 'सेट द बॉय फ्री' ('Set the Boy Free') के लेखक है?

Ans
✓ 1. जॉनी मार
✗ 2. डेविड निवेन
✗ 3. बिल ब्राउडर
✗ 4. पॉल कलानिथि

Question ID : **26433044664**
Status : **Not Answered**
Chosen Option : **--**

Q.21 उस अवयव की पहचान करें जो प्रकाश संश्लेषण के लिए आवश्यक प्रकाश ऊर्जा को अवशोषित (trap) करने में मदद करता है।

Ans
✗ 1. क्रिस्टी
✓ 2. कैरोटीनॉयड
✗ 3. रिक्तिकाएं
✗ 4. अमाइलोप्लास्ट

Question ID : **26433039442**
Status : **Answered**
Chosen Option : **2**

GovtJobsAlert.In

For More Updates Visit www.GovtJobsAlert.In

For More Updates Visit www.GovtJobsAlert.In

Q.22 निम्नलिखित में से कौन-सा उपन्यास अमिताव घोष ने नहीं लिखा है?

Ans
✗ 1. द शैडो लाइन्स
✗ 2. सी ऑफ पॉपीज़
✗ 3. द सर्कल ऑफ रीज़न
✓ 4. ए सूटेबल बॉय

Question ID : **26433042219**
Status : **Answered**
Chosen Option : **4**

Q.23 इलेक्ट्रॉन सूक्ष्मदर्शी से देखने पर, कौन-से कोशिकांग या तो गुच्छे में या एकल रूप में, छोटे बिंदुओं के रूप में दिखाई देते हैं जो कोशिकाद्रव में स्वतंत्र रूप से तैरते रहते हैं?

Ans
✗ 1. गॉल्जी उपकरण
✗ 2. परॉक्सीसोम
✓ 3. राइबोसोम
✗ 4. रिक्तिकाएं

Question ID : **26433044755**
Status : **Answered**
Chosen Option : **3**

Q.24 गढ़वाल में रेनी गाँव 1970 में हुए किस पर्यावरण आंदोलन के लिए मशहूर है?

Ans
✗ 1. जंगल बचाओ आंदोलन
✗ 2. साइलेंट वैली बचाओ आंदोलन
✓ 3. चिपको आंदोलन
✗ 4. अप्पिको आंदोलन

Question ID : **26433039488**
Status : **Answered**
Chosen Option : **3**

Q.25 निम्नलिखित में से कौन भारत के पहले ग्रैमी पुरस्कार विजेता हैं?

Ans
✗ 1. पंडित हरि प्रसाद चौरसिया
✗ 2. पंडित शिव प्रकाश शर्मा
✗ 3. उस्ताद ज़ाकिर हुसैन
✓ 4. पंडित रवि शंकर

Question ID : **26433041719**
Status : **Answered**
Chosen Option : **4**

GovtJobsAlert.In

For More Updates Visit www.GovtJobsAlert.In